ВСЕРОССИЙСКАЯ ОЛИМПИАДА ШКОЛЬНИКОВ ПО ГЕОГРАФИИ
МУНИЦИПАЛЬНЫЙ ЭТАП
2026-2027 УЧЕБНЫЙ ГОД
9 класс

Уважаемый участник олимпиады!

Вам предстоит выполнить тестовые и теоретические задания. Время выполнения заданий муниципального тура олимпиады – **180 минут.**

Бланк задания вы можете использовать как черновик.

Важно не забыть перенести ответы в БЛАНК ОТВЕТОВ, который вам выдадут вместе с заданиями.

Выполнение *тестовых заданий* целесообразно организовать следующим образом:

- не спеша, внимательно прочитайте тестовое задание;
- определите, какой из предложенных вариантов ответа наиболее верный и полный;
- впишите в бланк ответа букву/буквы/слово, соответствующую выбранному Вами ответу;
- после выполнения всех предложенных заданий ещё раз удостоверьтесь в правильности ваших ответов;
- если потребуется корректировка выбранного Вами варианта ответа, то неправильный вариант ответа зачеркните крестиком, и рядом напишите новый.

Предупреждаем Вас, что:

- при оценке тестовых заданий, где необходимо определить один правильный ответ, 0 баллов выставляется за неверный ответ и в случае, если участником отмечены несколько ответов (в том числе правильный), или все ответы;
- при оценке тестовых заданий, где необходимо определить несколько правильных ответов, 0 баллов выставляется, если участником отмечены неверные ответы, большее количество ответов, чем предусмотрено в задании (в том числе правильные ответы) или все ответы.

Выполнение *теоретических заданий* целесообразно организовать следующим образом:

- отвечая на теоретические вопросы, обдумайте и сформулируйте конкретный ответ только на поставленный вопрос;
- В вопросах, в которых требуется выразить Ваше мнение с учётом анализа ситуации или поставленной проблемы, внимательно и вдумчиво определите смысл вопроса и логику ответа (последовательность и точность изложения). Отвечая на вопрос, предлагайте свой вариант решения проблемы, при этом ответ должен быть кратким, но содержать необходимую информацию;

Все ответы вписываются в бланк ответов!

Максимальная оценка – 100 баллов: 40 баллов за тестовый тур и 60 баллов за теоретический.

Желаем Вам успехов!

ТЕСТОВЫЙ ТУР

1. Голландский юрист Корнелиус ван Бинкершок в XVIII веке предложил определять расстояние от берега, на которое может претендовать государство, дальностью пушечного выстрела. Как вы думайте, какое современное название имеет сейчас эта полоса вдоль берега?
(1 балл за правильный ответ)
А. 40-мильная зона
Б. Экономическая зона
В. Территориальные воды
Г. Нейтральные воды
Д. 20-мильная зона

2. Как называется административный центр самого протяженного с севера на юг субъекта РФ? Ответ запишите в соответствующем поле бланка ответов. (1 балл за правильный ответ)



3. Выбери крайние точки России, являющиеся крайними для материка, Евразия. (1 балл за правильный ответ)
А. Северная островная
Б. Южная
В. Западная
Г. Восточная островная
Д. Восточная материковая

4. Восстановите причинно-следственную цепочку изменений в экосистеме озера Байкал. Вам необходимо определить и восстановить линейную логическую связь между написанными действиями. Для этого расставьте

действия по порядку. (5 баллов за правильный ответ. При наличии одной ошибки – 3 балла. Две и более ошибок – 0 баллов)

А. Уменьшилось количество планктона
Б. На берегу Байкала построили два целлюлозно-бумажных комбината
В. Уменьшилось количество хищной рыбы
Г. Ухудшилось качество воды
Д. Резко снизились уловы рыбы в озере
Е. Уменьшилось количество рыбы, питающейся планктоном

5. В 20 веке многие города современной Россий несколько раз переименовывали. Установите соответствие между названием города в период Советского Союза и современным названием (за каждую правильную пару -1 балл. Максимальное количество 5 баллов)

Название города в период СССР	Современное название города
А. Горький	1. Пермь
Б. Калинин	2. Самара
В. Куйбышев	3. Владикавказ
Г. Орджоникидзе	4.Тверь
Д. Молотов	5. Нижний Новгород

6. Фотограф собирается в фотоэкспедицию в Антарктиду. Необходимым условием сьемок является длинный световой день. Выберите дату, когда у фотографа будет максимальная возможность съемок в светлое время суток. (1 балл за правильный ответ)

А. 20 марта
Б. 20 декабря
В. 20 сентября
Г. 20 июня
Д. 20 февраля

7. В туристическую фирму пришел запрос от коллег одной из китайских фирм с просьбой разработать непрерывный маршрут, совмещающий морские и сухопутные путешествия в пределах европейской части России. Какой из маршрутов подходит к данному запросу? (1 балл за правильный ответ)

А. На теплоходе по Баренцеву и Белому морям, а затем на поезде от города Выборг до Санкт-Петербурга и Москвы
Б. На теплоходе по Балтийскому морю, затем на поезде от Санкт-Петербурга до Москвы
В. На поезде Москва- Воркута, а затем на теплоходе по Карскому морю
Г. На теплоходе по Черному морю, а затем на поезде от Минеральных вод до Москвы
Д. На теплоходе по Каспийскому морю, затем на автобусах от Саратова до Нижнего Новгорода

8. Между какими городами, представленными ниже, самая большая разница во времени?
(1 балл за правильный ответ)
А. Калининградом и Читой
Б. Мурманском и Волгоградом
В. Магаданом и Владивостоком
Г. Красноярском и Сочи
Д. Анадырем и Абаканом

9. Выберите условный знак, имеющий отношение к сельскохозяйственным угодиям. (1 балл за правильный ответ)

А. 	Б. 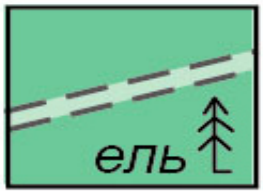
В. 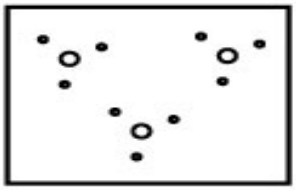	Г. 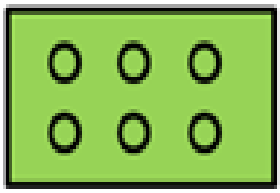
Д. 	Е. 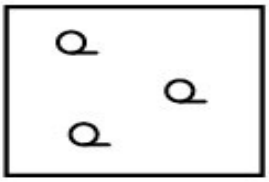

10. Как называются линии, соединяющие точки с одинаковой температурой воздуха, почвы или воды на географических картах, вертикальных разрезах атмосферы, почвенных или гидрологических разрезах. Ответ запишите в соответствующем поле бланка ответов.
(1 балл за правильный ответ)

11. Установите соответствие между краткой биографией русского землепроходца, мореплавателя, исследователя и географическим объектом, носящим его имя.
(за каждую правильную пару -1 балл. Максимальное количество 5 баллов)

А. В 1649 году отряд этого землепроходца, состоящий из казаков и других «охочих людей», совершил поход из Якутска на реку Амур, что, по сути, означало присоединение Приамурья к России	 1.
Б. Этот капитан, выходец из Дании, находящийся на русской службе, стал во главе величайшего географического предприятия середины XVIII века. Возглавляемые им камчатские экспедиции охватили своими исследованиями северное побережье Евразии, Сибирь, северную часть Тихого океана.	 2.
В. Этот русский землепроходец возглавил экспедицию из устья реки Колымы в восточном направлении вдоль северо-восточного побережья Сибири. Он обогнул мыс, крайнюю восточную точку Евразии.	 3.
Г. Русский ученый и путешественник, исследователь Сибири и Камчатки, основоположник отечественной этнографии и спелеологии, первый российский академик-географ. Многократно пересекал Камчатку. Составил первое «Описание земли Камчатской».	 4.

Д. А.П. Чехов, посетивший Дальний Восток в начале XX в., считал, что участники экспедиции этого блистательного мореплавателя совершили «изумительные подвиги, за которые можно боготворить человека». Это русский адмирал доказал, что Сахалин-остров.	5. 

12. Расположите регионы по возрастанию гумусового горизонта в преобладающих зональных почвах. (1 балл за правильный ответ)
А. Таймыр
Б. Ростовская область
В. Московская область
Г. Земля Франца-Иосифа
Д. Республика Карелия

13. Выберите из предложенного списка лишний объект. Обоснуйте, почему он лишний. (2 балла за правильный ответ)
А. Виктория
Б. Чад
В. Эйр
Г. Танганьика
Д. Ньяса

14. Расставьте исторические события, связанные с изменением территории России, в правильном хронологическом порядке - от самого раннего к самому позднему. (2 балла за правильный ответ)

А. Официальное образование Калининградской области в составе РСФСР на землях бывшей Восточной Пруссии.
Б. Вхождение в состав государства Донецкой Народной Республики (ДНР), Луганской Народной Республики (ЛНР), Запорожской и Херсонской областей.
В. Принятие Тувинской Народной Республики (Тувы) в состав СССР на правах автономной области.
Г. Возвращение южной части Сахалина и Курильских островов по итогам Второй мировой войны.
Д. Принятие в состав страны Республики Крым и города федерального значения Севастополя.

15. Эта республика занимает второе место по площади среди республик. Находится на севере европейской территории России. На востоке граничит с Ямало-Ненецким автономным округом. Название республики впишите в соответствующем поле бланка ответов. (1 балл за правильный ответ)

16. Расставьте в хронологическом порядке названия, которыми называлась территория современной Свердловской области, от самого раннего к самому позднему. (1 балл за правильный ответ)
А. Свердловская область
Б. Уральская область РСФСР
В. Екатеринбургская губерния
Г. Пермская губерния

17. Какой термин используют для обозначения ситуации, когда в стране или регионе длительное время фиксируется устойчиво низкий уровень рождаемости, приводящий к сокращению численности населения даже при низкой смертности? (1 балл за правильный ответ)
А. Демографический взрыв
Б. Демографическая яма
В. Демографический переход
Г. Демографическая нагрузка
Д. Депопуляция

18. Прочитайте отрывок из произведения А. И. Солженицына «Архипелаг ГУЛАГ» и определите, какой вид миграции в нём отражён. Впишите вид миграции в бланк ответов (2 балла за правильный ответ)
«Так начиналось великое переселение народов XX века, только не по своей воле, не в поисках лучшей доли, а по воле государства: эшелоны шли на Север и в Сибирь, везли не добровольцев, не строителей новых городов, а людей, вырванных из привычной жизни и отправленных туда, где требовалась рабочая сила для лагерей, рудников и строек. Их не спрашивали, хотят ли они ехать; их просто грузили в вагоны и везли за тысячи километров. И на новых местах, среди вечной мерзлоты и тайги, они должны были жить и работать, часто без надежды на возвращение».

19. Какой народ Кавказа исповедует православие? (1 балл за правильный ответ)
А. Ингуши
Б. Осетины
В. Балкарцы
Г. Карачаевцы
Д. Чеченцы

20. Какой угольный бассейн имеет только открытую добычу угля? (1 балл за правильный ответ)
А. Донецкий
Б. Кузнецкий
В. Канско-Ачинский
Г. Печорский
Д. Подмосковный

21. На круговой диаграмме показаны доли, связанные с работой одной из отраслей хозяйства России. Какому показателю соответствуют данные доли? (1 балл за правильный ответ)

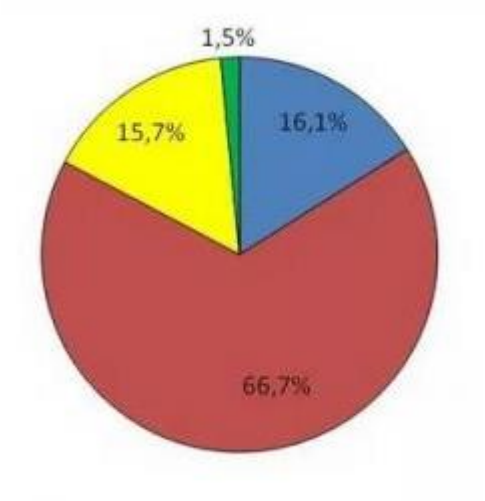

А. Соотношение направлений животноводства
Б. Использование разных видов топлива
В. Выплавка разных типов металлов
Г. Соотношение сельскохозяйственных угодий России
Д. Выработка электроэнергии на разных типах электростанций

22. Какое из месторождений является месторождением природного газа? (1 балл за правильный ответ)
А. Самотлорское
Б. Туймазинское
В. Красная шапочка
Г. Бованенково
Д. Мухановское

23. Как называется производство предприятием однотипной продукции? (1 балл за правильный ответ)
А. Кооперирование
Б. Специализация
В. Комбинирование
Г. Конверсия
Д. Импортозамещение

24. Какие утверждения о географическом положении Свердловской области являются верными? (1 балл за правильный ответ)
А. Местонахождение на стыке двух частей света - Европы и Азии, различных по своим природным и экономическим условиям.

Б. Суровость природных условий, слабая освоенность, заселенность и хозяйственное значение большей части территории.
В. Внутреннее положение на транзитных транспортных путях между Западной и Восточной экономическими зонами.
Г. Разнообразие природных условий и природных ресурсов области.
Д. Приморское положение, возможность использования крупных рек как транспортных путей.

25.**В каком из городов работает завод КАМАЗ?**
Назовите город, в котором расположено основное производство завода КАМАЗ? (1 балл за правильный ответ)
А. Казань
Б. Киров
В. Набережные Челны
Г. Москва
Д. Нижний Новгород

ТЕОРЕТИЧЕСКЙ ТУР

26. Ответьте на каждый вопрос. Первые буквы каждого из ответов составят фамилию известного путешественника. Запишите ответы на вопросы в бланк ответов, напишите фамилию путешественника, какое географическое открытие он совершил. (*10 баллов за полный верный ответ)*
1. Самый глубокий желоб на Земле
2. Название высшей точки Южной Америки
3. Пролив, соединяющий Средиземное море и Атлантический океан
4. Страна, в которой находится Асуанская ГЭС
5. Крупная река Сибири, имеющая большую дельту
6. Холодное течение у восточных берегов Северной Америки
7. Самое мелкое море на Земле
8. Второе по глубине озеро Африки

27. Высокоскоростная железнодорожная магистраль «ВСМ» - крупнейший проект в современной истории российских железных дорог. Строительство магистрали официально включено в национальный проект «Эффективная транспортная система», реализуемый по прямому поручению Президента Российской Федерации. Планируется, что это будет первая в стране специализированная железнодорожная линия, спроектированная под движение поездов со скоростью до 400 км/ч, что сократит время в пути с 4 часов до 2 часов 15 минут. Запуск магистрали планируется в 2028 году. Используя картосхему, назовите шесть

субъектов Российской Федерации, через которые пройдет данная магистраль.

(*12 баллов за полностью верный ответ, при частичном выполнении начисляется по 2 балла за каждый, верно, названный субъект)*

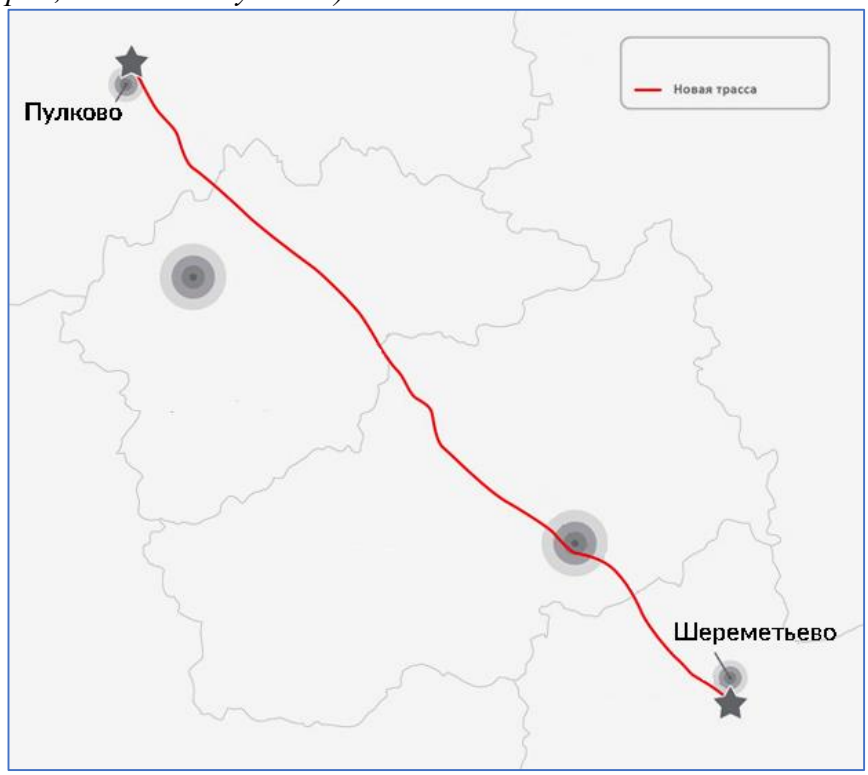

28. Перед вами марки, изданные в серии «Регионы России». Какие субъекты Российской Федерации изображены на марках? Какие символы регионов представлены на марках? Заполните таблицу для каждого субъекта Федерации по форме.

(За каждый субъект- 1 балл, за каждый символ – 1 балл. Итого 16 баллов за полный ответ)

1. 	2. 
3. 	4. 

№	Субъект Федерации	Символы субъекта
1		1
		2
		3
2		1
		2
		3
3		1
		2
		3
4		1
		2
		3

29. Прочитайте текст и запишите ответы на вопрос в бланке ответов.

В составе Российской Федерации находится 89 равноправных субъектов. В их число входит и единственный автономный округ в России, который не входит в состав другого субъекта Федерации, а является самостоятельным субъектом. Здесь находится самый северный город России. Существует несколько версий происхождения названия города. По одной из них, оно происходит от слова «пээкиней», что означает «толстая, вздутая гора» — так называется сопка, у подножия которой расположен город. В городе расположен порт, который является ключевым перевалочным пунктом для Северного морского пути, через который проходят грузы для снабжения северных поселений.

В конце 2025 года в этом автономном округе произошло важное событие: атомная электростанция, расположенная на территории автономного округа, полностью прекратила выработку электроэнергии. Несмотря на остановку реакторов, станция сохраняет статус действующего ядерного объекта (она переведена в режим работы без генерации). Всю энергетическую нагрузку региона теперь обеспечивает плавучая атомная теплоэлектростанция «Академик Ломоносов». Среди минеральных богатств этого региона выделяется добыча важнейшего из полезных ископаемых, добываемых в стране. Среди известных месторождений данного полезного ископаемого выделяются месторождения Купол, Майское, Каральвеем, Двойное, Валунистое, Кекура.

На территории этого субъекта находится заповедник, который является уникальным местом – «родильным домом» одного из млекопитающих, обитающих в данном регионе. В 1975 году в заповедник завезли 20 особей одного животного из Северной Америки, которые прекрасно прижились на территории заповедника и сейчас численность животного составляют 1200 особей.

А. Назовите единственный автономный округ в России, о котором говорится в тексте, который не входит в состав другого субъекта федерации, а является самостоятельным субъектом.

Б. С какими российскими регионами этот автономный округ имеет границу первого порядка?

В. Назовите населенный пункт, о котором говорится в тексте.

Г. Назовите атомную электростанцию, которая полностью прекратила выработку электроэнергии в конце 2025 года?

Д. Какое полезное ископаемое является основным в добывающей промышленности субъекта РФ?

Е. Как называется заповедник на территории субъекта? «Родильный дом» какого животного находится на территории этого заповедника? Какое животное завезли из Северной Америки?

(15 баллов за правильный ответ)

30. **В каком из населенных пунктов, обозначенных на карте острова буквами A, B, C, D, будет выпадать наименьшее количество осадков?** Свой ответ обоснуйте. Для обоснования своего ответа приведите не менее двух доводов.

(7 баллов за полный правильный ответ)

