ЗОЛОТОЕ СЕЧЕНИЕ
ФОНД ПОДДЕРЖКИ ТАЛАНТЛИВЫХ ДЕТЕЙ И МОЛОДЕЖИ

ВСОШ

Разбор заданий муниципального этапа всероссийской олимпиады школьников по географии для 9 класса

2026 / 2027 учебного года в Свердловской области

Разработчик: Вершинина Е.В.

учитель географии, МАОУ СОШ № 34

г. Каменск-Уральский; высшая квалификационная категория



Задание 1

Голландский юрист Корнелиус ван Бинкершок в XVIII веке предложил определять расстояние от берега, на которое может претендовать государство, дальностью пушечного выстрела. Как вы думайте, какое современное название имеет сейчас эта полоса вдоль берега?

А. 40-мильная зона

Б. Экономическая зона

В. Территориальные воды

Г. Нейтральные воды

Д. 20-мильная зона



Территориальные воды — это полоса моря (океана), которая примыкает к сухопутной территории государства или к его внутренним водам и составляет часть государственной территории.

Составляет 12 морских миль (22,2 км)

Оценивание: 1 балл за вариант В.

Задание 2

Как называется административный центр самого протяженного с севера на юг субъекта РФ?



Красноярск

Административный центр Красноярского края.

Протяженность Красноярского края с севера на юг около 3000 км.

Оценивание 1 балл

Задание 3

Выбери крайние точки России, являющиеся крайними для материка, Евразия.

А. Северная островная (мыс Флигели)

Б. Южная

В. Западная

Г. Восточная островная (о. Ратманова)

Д. Восточная материковая(м. Дежнева)





Ответ: А, Г, Д

Оценивание: 1 балл только за полный набор А, Г, Д.

Задание 4

Восстановите причинно-следственную цепочку изменений в экосистеме озера Байкал.

Б. Построили два ЦБК → **Г.** Ухудшилось качество воды → **А.** Стало меньше планктона

Е. Снизилась численность планктоноядной рыбы → **В.** Стало меньше хищной рыбы → **Д.** Уменьшились уловы

Правильный порядок: Б → Г → А → Е → В → Д

Оценивание : 5 баллов — полностью верно; 3 балла— одна ошибка; 0 — две ошибки и более.



ЗОЛОТОЕ СЕЧЕНИЕ
ФОНД ПОДДЕРЖКИ ТАЛАНТЛИВЫХ ДЕТЕЙ И МОЛОДЕЖИ

ВСОШ ГЕОГРАФИЯ ВСЕРОССИЙСКАЯ ОЛИМПИАДА ШКОЛЬНИКОВ

Задание 5

В 20 веке многие города современной Россий несколько раз переименовывали. Установите соответствие между названием города в период Советского Союза и современным названием

А. Горький	**5. Нижний Новгород**
Б. Калинин	**4. Тверь**
В. Куйбышев	**2. Самара**
Г. Орджоникидзе	**3. Владикавказ**
Д. Молотов	**1. Пермь**



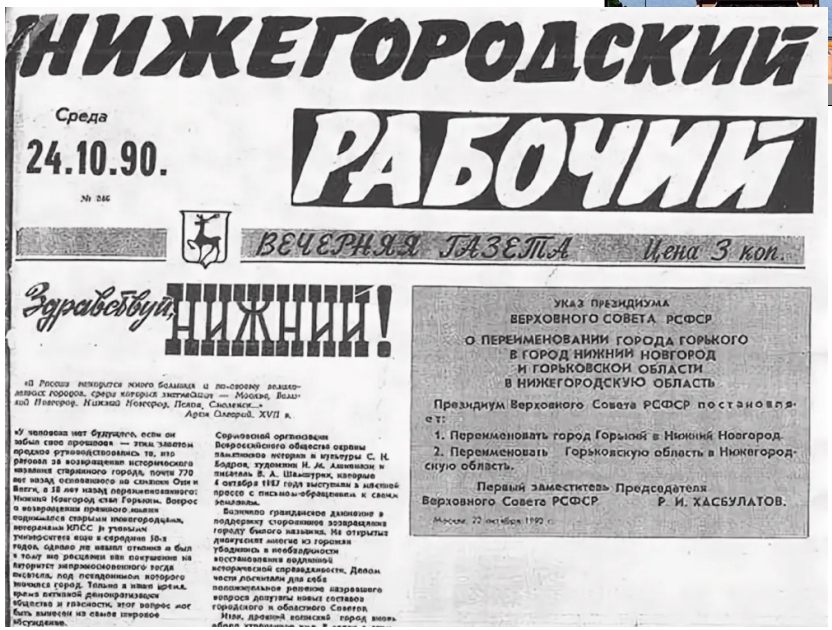
НИЖЕГОРОДСКИЙ РАБОЧИЙ
Среда 24.10.90.
ВЕЧЕРНЯЯ ГАЗЕТА Цена 3 коп.
Здравствуй, НИЖНИЙ!
УКАЗ ПРЕЗИДИУМА ВЕРХОВНОГО СОВЕТА РСФСР
О ПЕРЕИМЕНОВАНИИ ГОРОДА ГОРЬКОГО В ГОРОД НИЖНИЙ НОВГОРОД И ГОРЬКОВСКОЙ ОБЛАСТИ В НИЖЕГОРОДСКУЮ ОБЛАСТЬ
Президиум Верховного Совета РСФСР постановляет:
1. Переименовать город Горький в Нижний Новгород.
2. Переименовать Горьковскую область в Нижегородскую область.
Первый заместитель Председателя Верховного Совета РСФСР Р. И. ХАСБУЛАТОВ.

Ответ: А–5, Б–4, В–2, Г–3, Д–1

Оценивание: по 1 баллу за пару, максимум 5.

Задание 7

В туристическую фирму пришел запрос от коллег одной из китайских фирм с просьбой разработать непрерывный маршрут, совмещающий морские и сухопутные путешествия в пределах европейской части России. Какой из маршрутов подходит к данному запросу?



А. Баренцево и Белое моря→ Выборг → Санкт-Петербург → Москва

Б. Балтийское море→ Санкт-Петербург → Москва

В. Москва → Воркута→ Карское море

Г. Черное море → Минеральные воды → Москва

Д. Каспийское море → Саратов → Нижний Новгород



Оценивание : 1 балл за ответ Б .

Задание 8

Между какими городами, представленными ниже, самая большая разница во времени?

А. Калининград и Чита

Б. Мурманск и Волгоград

В. Магадан и Владивосток

Г. Красноярск и Сочи

Д. Анадырь и Абакан

Калининград UTC+2 → Чита UTC+9

7 часов



Оценивание: 1 балл за вариант А.

Задание 9

Выберите условный знак, имеющий отношение к сельскохозяйственным угодиям.

Правильный вариант — Г.

Условный знак фруктового сада показывает регулярные ряды деревьев.



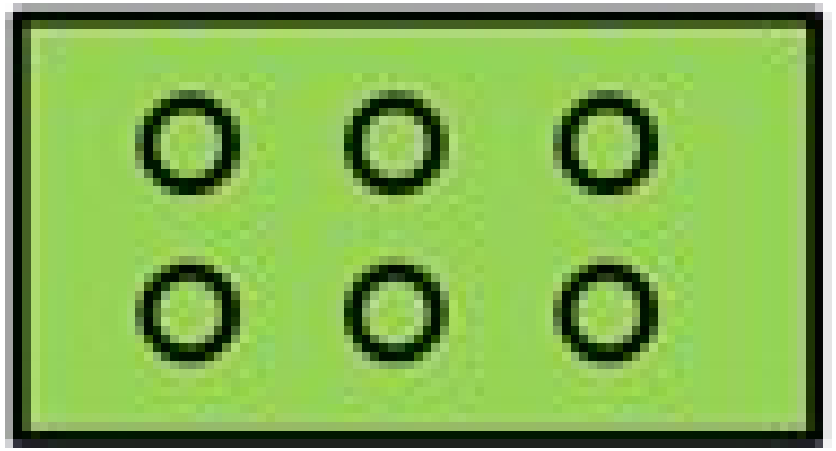

Г. Фруктовый сад

Оценивание: 1 балл за вариант Г.

Задание 11

Установите соответствие между краткой биографией русского землепроходца, мореплавателя, исследователя и географическим объектом, носящим его имя.

А. Ерофей Хабаров	**2. Город Хабаровск**
Б. Витус Беринг	**5. Беренгово море**
В. Семён Дежнёв	**4. Мыс Дежнёва**
Г. С. П. Крашенинников	**3. Вулкан Крашенинникова**
Д. Геннадий Невельской	**1. Пролив Невельского**

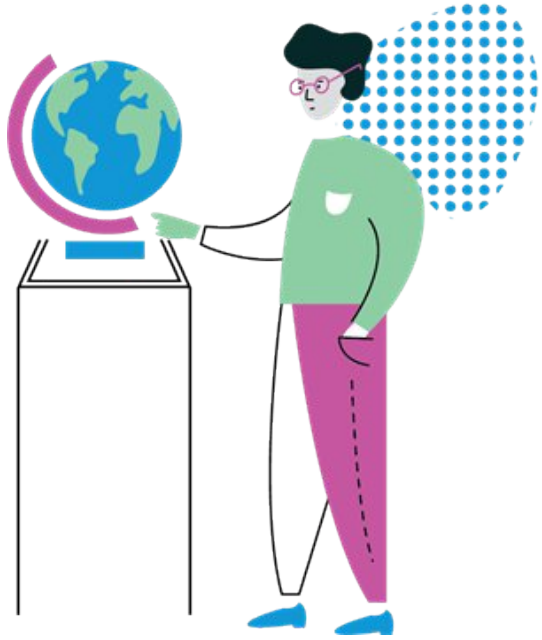

Ответ: А–2, Б–5, В–4, Г–3, Д–1

Оценивание: по 1 баллу за соответствие, максимум 5.

Задание 11

Географические объекты на фрагментах карт из задания



1. Пролив Невельского



2. Хабаровск



3. Вулкан Крашенинникова



4. Мыс Дежнёва



5. Берингово море

Оценивание: правильные пары: А–2, Б–5, В–4, Г–3, Д–1.

Задание 12

Расположите регионы по возрастанию гумусового горизонта в преобладающих зональных почвах

Г. Земля Франца-Иосифа ➡ **А.** Таймыр ➡ **Д.** Республика Карелия ➡ **В.** Московская область ➡ **Б.** Ростовская область

От арктических почв к более мощному гумусовому горизонту чернозёмов.

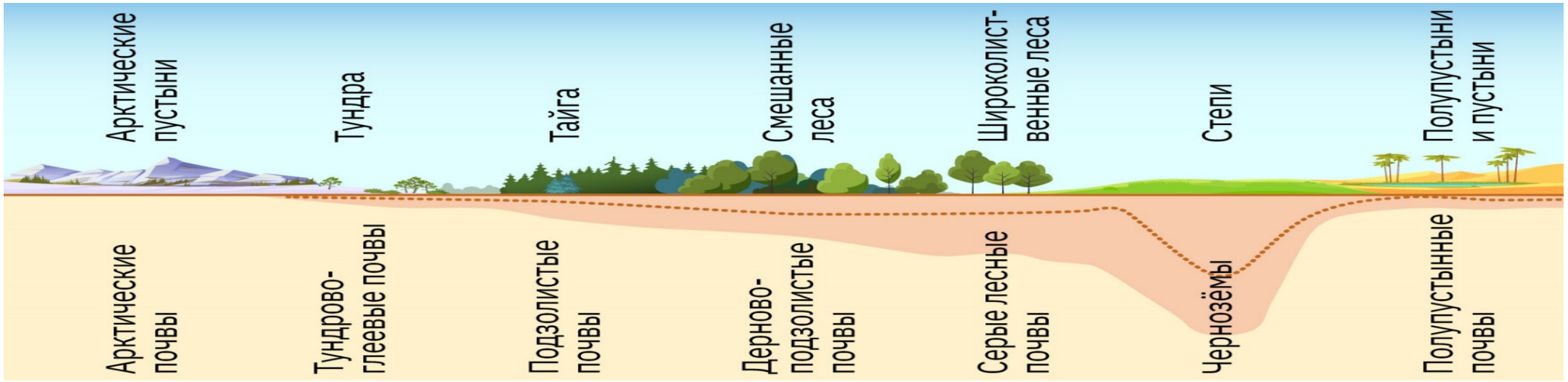

Ответ: Г → А → Д → В → Б

Оценивание: 1 балл только за полностью верную последовательность.

Задание 13

Выберите из предложенного списка лишний объект.
Обоснуйте, почему он лишний

А. Виктория — Африка

Б. Чад — Африка

В. Эйр — Австралия

Г. Танганьика — Африка

Д. Ньяса — Африка

все озера находятся в Африке, Эйр в Австралии



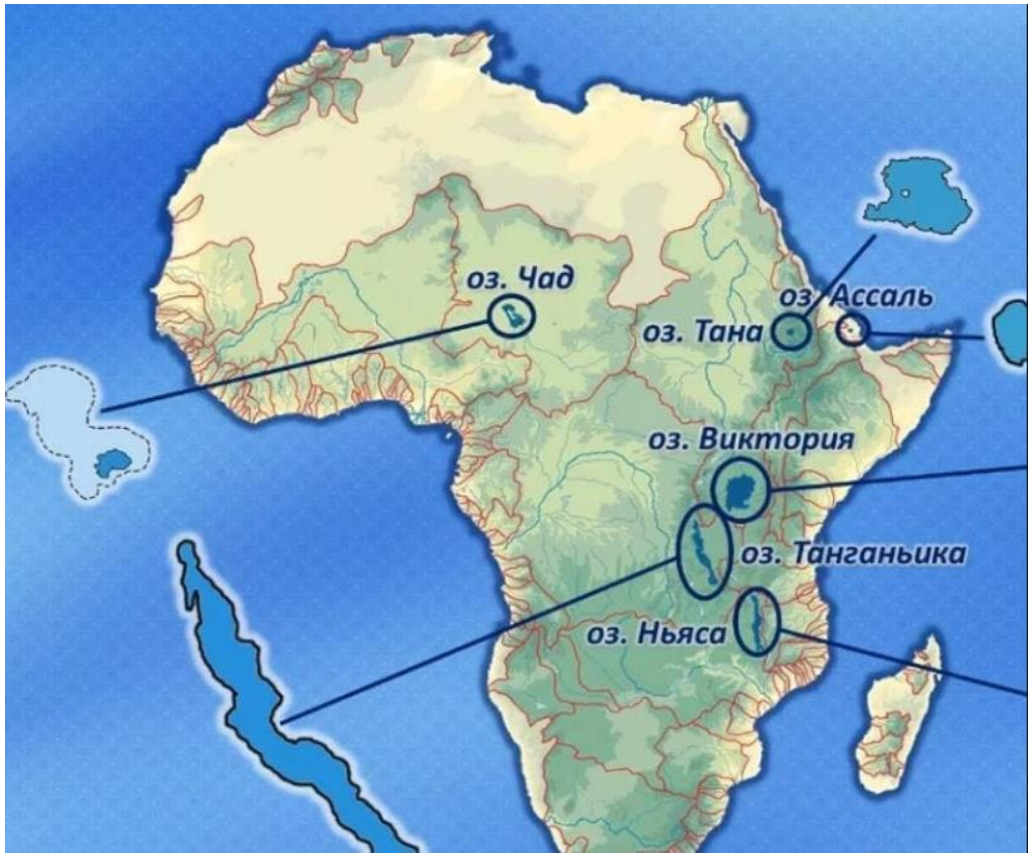

Ответ: В

Оценивание : 1 балл за ответ+ 1 балл за обоснование .

Задание 14

Расставьте исторические события, связанные с изменением территории России, в правильном хронологическом порядке - от самого раннего к самому позднему.

В. 1944
Тувинская Народная Республика

→

Г. 1945
Южный Сахалин и Курилы

→

А. 1946
Калининградская область

→

Д. 2014
Крым и Севастополь

→

Б. 2022
ДНР, ЛНР, Запорожская и Херсонская области

Последовательность по ключам: В → Г → А → Д → Б

Оценивание: 2 балла только за полностью правильную последовательность; иначе 0.

Задание 16

Расставьте в хронологическом порядке названия, которыми называлась территория современной Свердловской области, от самого раннего к самому позднему

Г. Пермская губерния

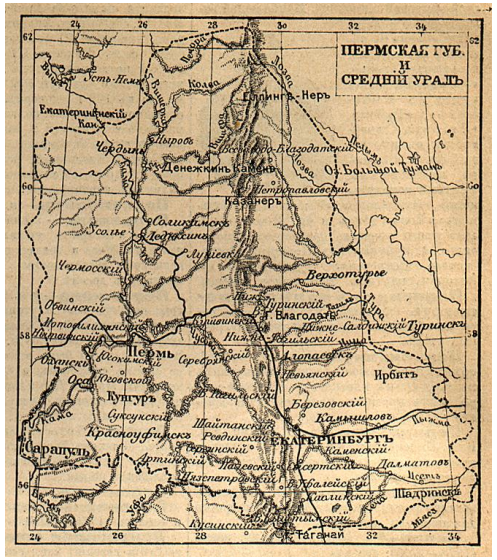

В. Екатеринбургская губерния

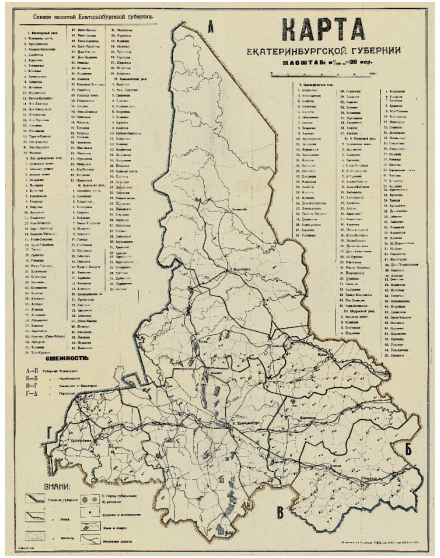

Б. Уральская область РСФСР

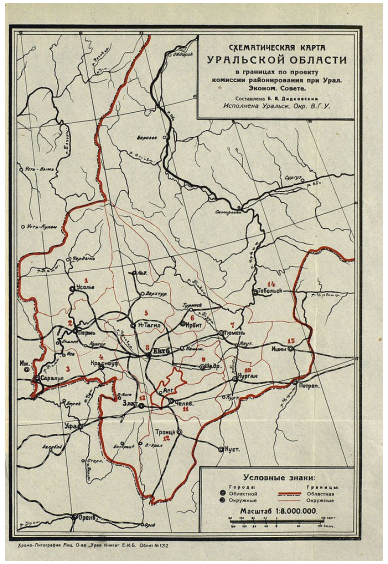

А. Свердловская область



Ответ: Г → В → Б → А

Оценивание: 1 балл только за всю последовательность.

Задание 18

Прочитайте отрывок из произведения А. И. Солженицына «Архипелаг ГУЛАГ» и определите, какой вид миграции в нём отражён.

«...не по своей воле... Их не спрашивали, хотят ли они ехать; их просто грузили в вагоны и везли за тысячи километров...»

Ключевой признак — Отсутствие свободного выбора при перемещении людей.



Ответ: принудительная/ вынужденная миграция



Оценивание : 2 балла за правильный термин

Задание 20

Какой угольный бассейн имеет только открытую добычу угля?

А. Донецкий

Б. Кузнецкий

В. Канско-Ачинский

Г. Печорский

Д. Подмосковный



Оценивание: 1 балл за вариант В.

Открытая добыча осуществляется в Карьерах (разрезах).

Задание 21

На круговой диаграмме показаны доли, связанные с работой одной из отраслей хозяйства России. Какому показателю соответствуют данные доли?

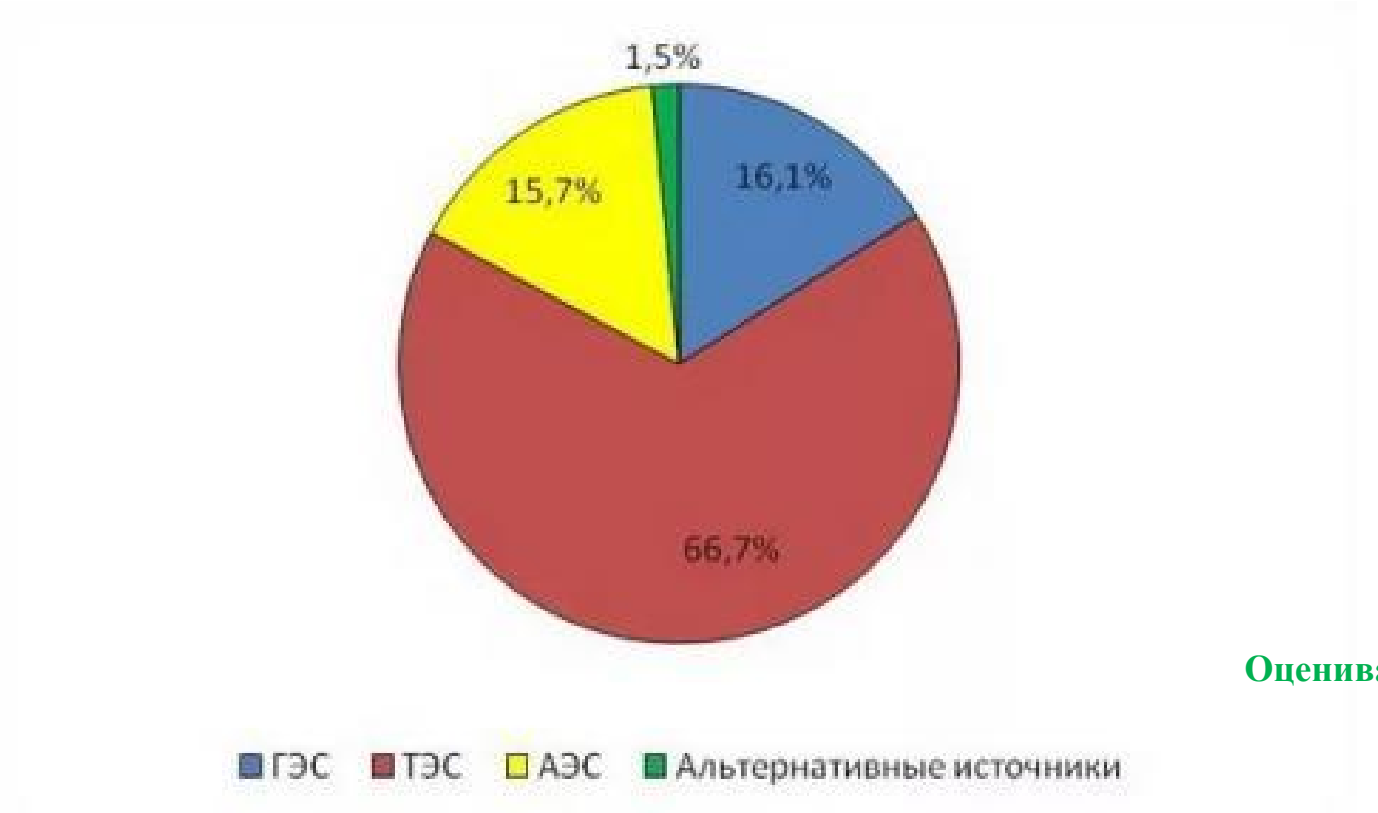

Д. Выработка электроэнергии на разных типах электростанций

В легенде диаграммы: ТЭС, ГЭС, АЭС и альтернативные источники.

Ответ: Д

Оценивание: 1 балл за Д; используйте доли из диаграммы задания.

Задание 26

Первые буквы каждого из ответов составят фамилию известного путешественника. Какая фамилия путешественника, какое географическое открытие он совершил?

1. Самый глубокий желоб	**Марианский**
2. Высшая точка Южной Америки	**Аконкагуа**
3. Пролив между Атлантикой и Средиземным морем	**Гибралтарский**
4. Страна расположения Асуанской ГЭС	**Египте**
5. Крупная сибирская река с дельтой	**Лена**
6. Холодное течение у Северной Америки	**Лабрадорское**
7. Самое мелкое море	**Азовское**
8. Второе по глубине озеро Африки	**Ньяса**

Оценивание: 1 балл за каждый из 8 ответов; ещё 2 балла — фамилия и открытие.

Задание 26

Как составить фамилию и назвать географическое открытие?

М	А	Г	Е	Л	Л	А	Н

Фернан Магеллан

Первое кругосветное путешествие

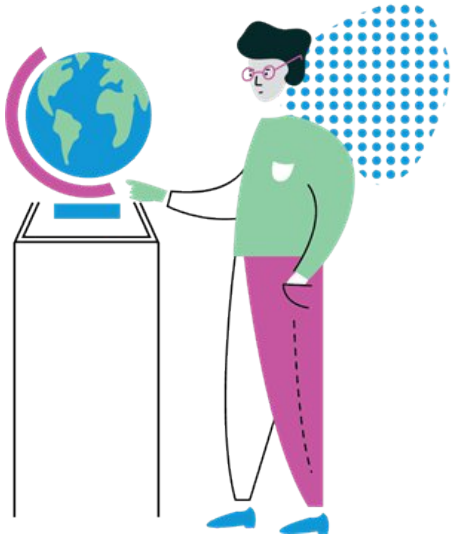

Оценивание: 8 баллов за географические ответы + 1 за Магеллана + 1 за открытие.

Задание 27

Высокоскоростная железнодорожная магистраль «ВСМ» - крупнейший проект в современной истории российских железных дорог. Строительство магистрали официально включено в национальный проект «Эффективная транспортная система», реализуемый по прямому поручению Президента Российской Федерации. Планируется, что это будет первая в стране специализированная железнодорожная линия, спроектированная под движение поездов со скоростью до 400 км/ч, что сократит время в пути с 4 часов до 2 часов 15 минут. Запуск магистрали планируется в 2028 году. Используя картосхему, назовите шесть субъектов Российской Федерации, через которые пройдет данная магистраль.

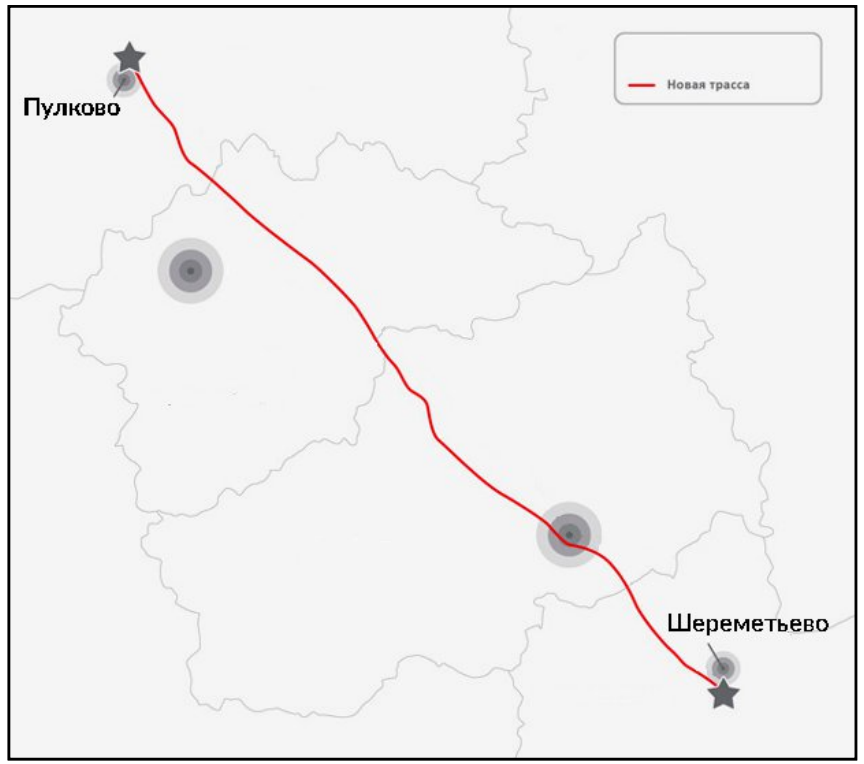

1. Москва
2. Московская область
3. Тверская область
4. Новгородская область
5. Ленинградская область
6. Санкт-Петербург

Оценивание: по 2 балла за каждый субъект, максимум 12.

Задание 27

Логика прохождения магистрали: от Москвы к Санкт-Петербургу

1. Москва → 2. Московская область → 3. Тверская область

4. Новгородская область → 5. Ленинградская область → 6. Санкт-Петербург

Оценивание: 12 баллов: шесть субъектов × 2 балла.

Задание 28

Перед вами марки, изданные в серии «Регионы России». Какие субъекты Российской Федерации изображены на марках? Какие символы регионов представлены на марках?



1. Астраханская область



2. Ульяновская область



3. Чеченская Республика



4. Камчатский край

Оценивание: 1 балл за каждый правильно указанный регион (4 балла).

Задание 28

Определите символы Астраханской и Ульяновской областей.



Астраханская область

Астраханский кремль

Волга / дельта Волги

Осётр / пеликан / лотос



Ульяновская область

Автомобиль УАЗ / конвейер

Самолёт Ту

Волга / мост через Волгу

Оценивание: по 1 баллу за каждый регион + по 1 баллу за каждый символ.

Задание 28

Определите символы Чеченской Республики и Камчатского края.

Чеченская республика

Мечеть «Сердце Чечни»

Озеро Кезеной-Ам

Нефтяная качалка





Камчатский край

Ключевская Сопка

Пакетботы «Святой Пётр»

и «Святой Павел»

Долина гейзеров

Оценивание: 4 региона + 12 символов = 16 баллов максимум.

Задание 29

Прочитайте текст и запишите ответы на вопрос в бланке ответов.

«В составе Российской Федерации находится 89 равноправных субъектов. В их число входит и единственный автономный округ в России, который не входит в состав другого субъекта Федерации, а является самостоятельным субъектом….»

Определите автономный округ и регионы, с которыми он граничит.

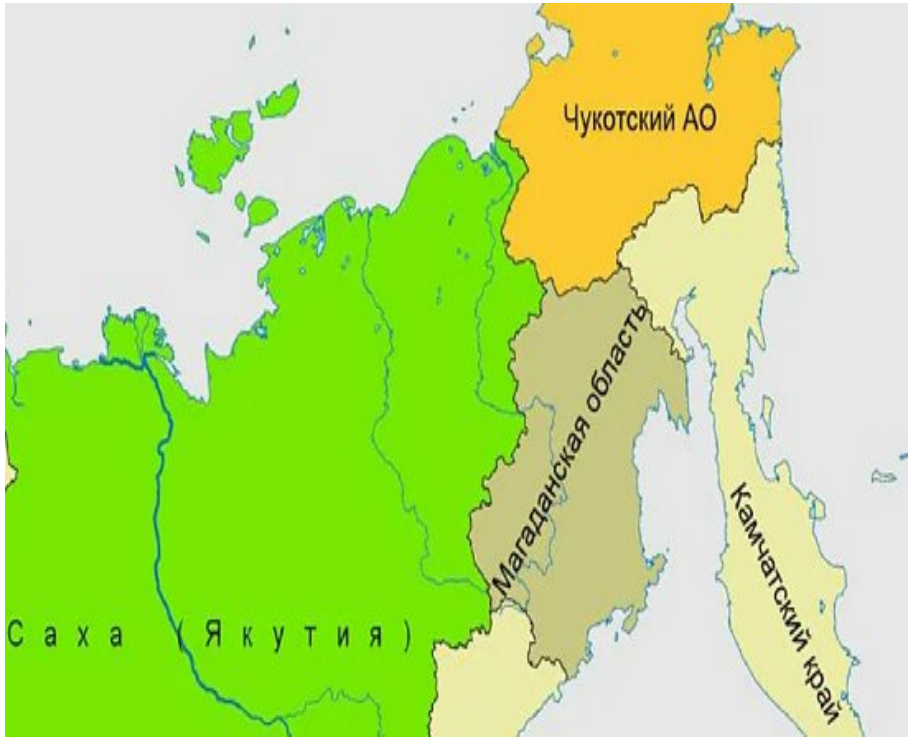

А. Чукотский автономный округ

Соседние субъекты

Б. Республика Саха(Якутия)

Камчатский край

Магаданская область

Оценивание: А — 1 балл; Б — 3 балла (по 1 за каждый регион).

Задание 29

Определите город, АЭС и главное полезное ископаемое.

В. Певек

Самый северный город России; порт Северного морского пути.

Г. Билибинская АЭС

Атомная станция, о которой речь идет в тексте.

Д. Золото





Оценивание : В — 3 балла; Г — 3 балла; Д — 2 балла.

Задание 29

Назовите заповедник, животное-символ и завезенное животное .

Е. Заповедник «остров Врангеля»

«Родильный дом белых медведей»

Овцебыки

В тексте задания приведен факт завоза овцебыков из Северной Америки





Оценивание: по 1 баллу за остров Врангеля, белых медведей и овцебыков; Всего за № 29 — 15 баллов

Задание 30

В каком из населенных пунктов, обозначенных на карте острова буквами A, B, C, D, будет выпадать наименьшее количество осадков?

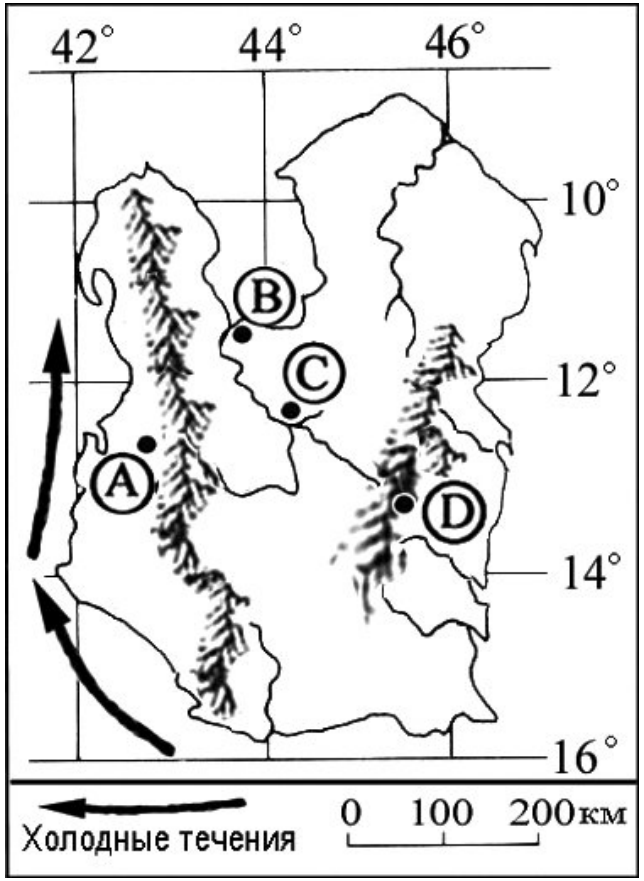

Ответ: Пункт A

По картосхеме у западного берега показано холодное течение, которое увеличивает сухость климата

С востока дуют пассаты, приносящие влагу с океана

Барьерная роль гор : горы задерживают осадки на наветренной стороне. Пункт А расположен в более сухой части острова

Оценивание: 1 балл за А + 3 за холодное течение + 3 за пассаты / горный барьер.

ЗОЛОТОЕ СЕЧЕНИЕ
ФОНД ПОДДЕРЖКИ ТАЛАНТЛИВЫХ ДЕТЕЙ И МОЛОДЕЖИ

ВСОШ
ГЕОГРАФИЯ
ВСЕРОССИЙСКАЯ ОЛИМПИАДА ШКОЛЬНИКОВ

БЛАГОДАРЮ ЗА ВНИМАНИЕ!



муниципальный этап 2026/2027