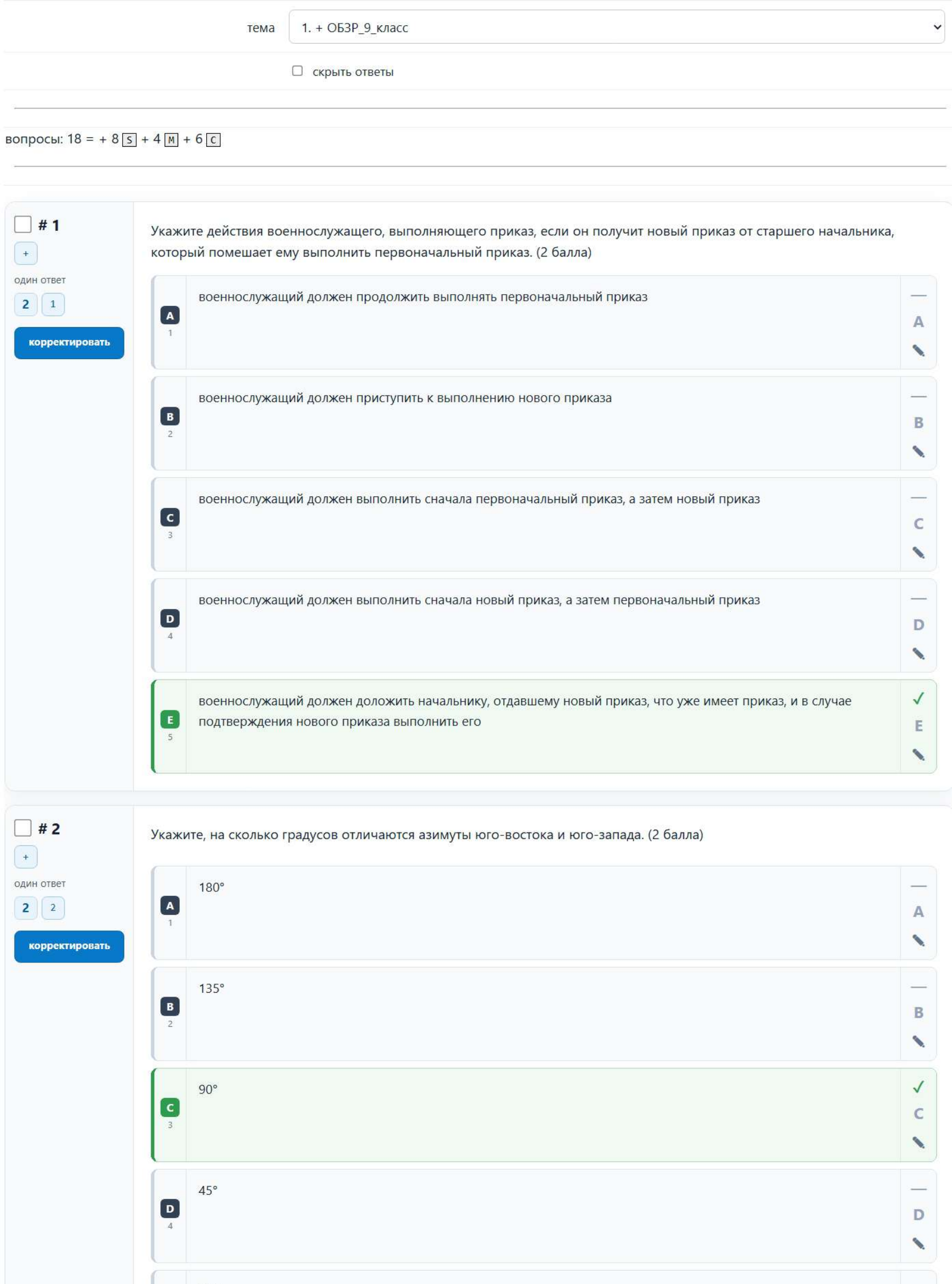

вопросы: 18 = + 8 S + 4 M + 6 C

☐ **# 1**

Укажите действия военнослужащего, выполняющего приказ, если он получит новый приказ от старшего начальника, который помешает ему выполнить первоначальный приказ. (2 балла)

- **A** 1 — военнослужащий должен продолжить выполнять первоначальный приказ
- **B** 2 — военнослужащий должен приступить к выполнению нового приказа
- **C** 3 — военнослужащий должен выполнить сначала первоначальный приказ, а затем новый приказ
- **D** 4 — военнослужащий должен выполнить сначала новый приказ, а затем первоначальный приказ
- **E** 5 — военнослужащий должен доложить начальнику, отдавшему новый приказ, что уже имеет приказ, и в случае подтверждения нового приказа выполнить его ✓

☐ **# 2**

Укажите, на сколько градусов отличаются азимуты юго-востока и юго-запада. (2 балла)

- **A** 1 — 180°
- **B** 2 — 135°
- **C** 3 — 90° ✓
- **D** 4 — 45°

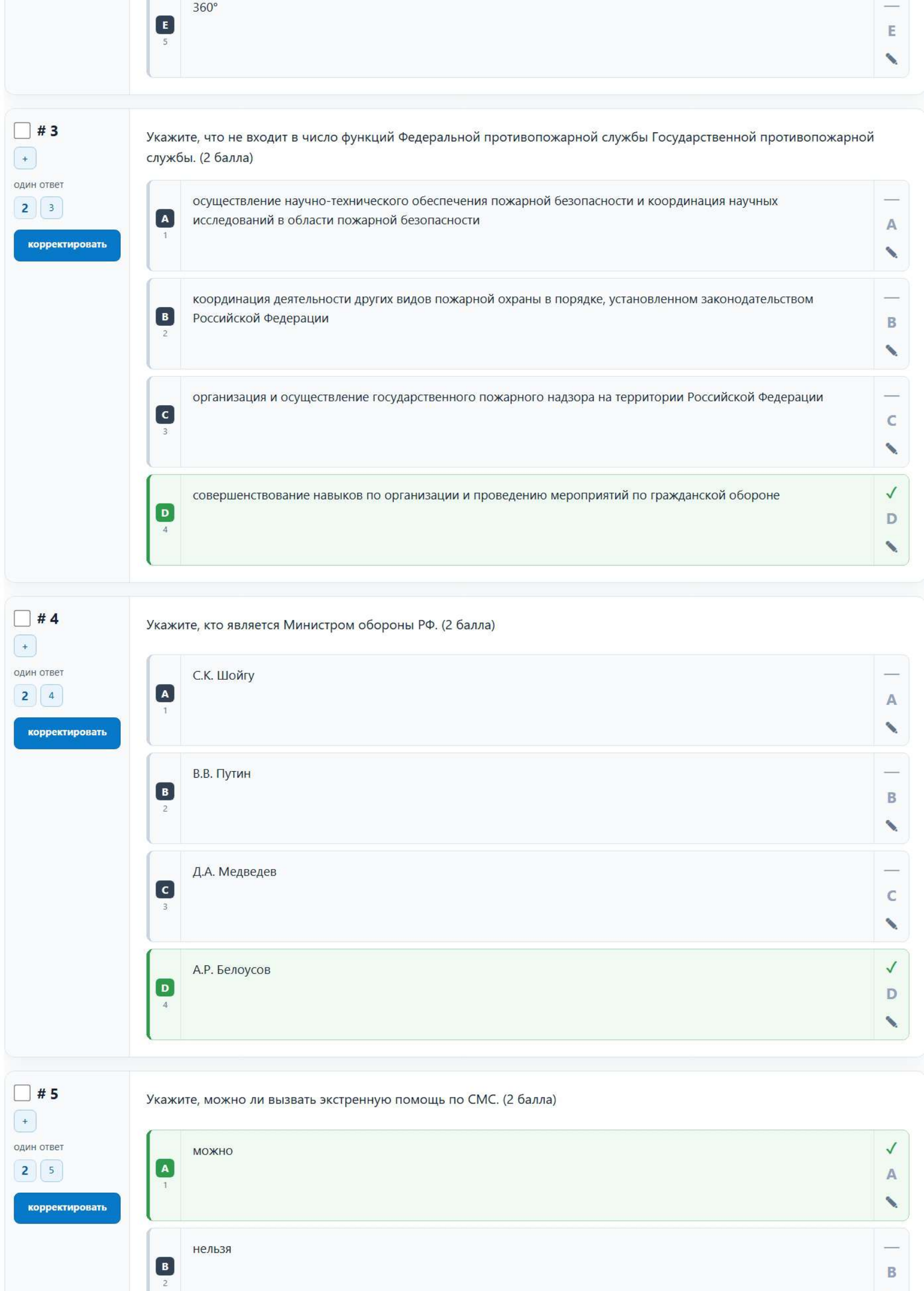

360°

E 5

☐ **# 3**

один ответ

2 3

Укажите, что не входит в число функций Федеральной противопожарной службы Государственной противопожарной службы. (2 балла)

A 1 осуществление научно-технического обеспечения пожарной безопасности и координация научных исследований в области пожарной безопасности

B 2 координация деятельности других видов пожарной охраны в порядке, установленном законодательством Российской Федерации

C 3 организация и осуществление государственного пожарного надзора на территории Российской Федерации

D 4 совершенствование навыков по организации и проведению мероприятий по гражданской обороне ✓

☐ **# 4**

один ответ

2 4

Укажите, кто является Министром обороны РФ. (2 балла)

A 1 С.К. Шойгу

B 2 В.В. Путин

C 3 Д.А. Медведев

D 4 А.Р. Белоусов ✓

☐ **# 5**

один ответ

2 5

Укажите, можно ли вызвать экстренную помощь по СМС. (2 балла)

A 1 можно ✓

B 2 нельзя

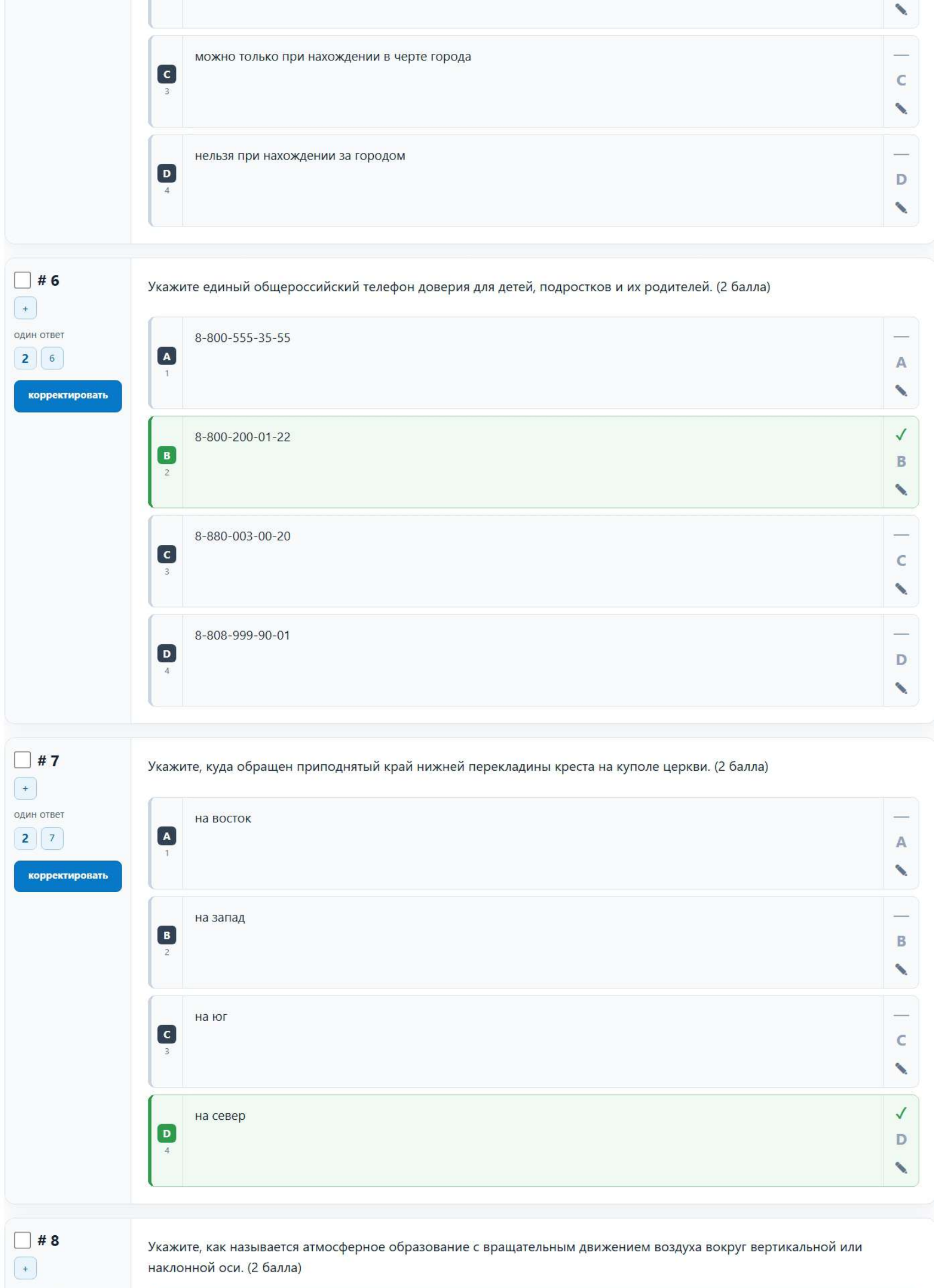

C 3 можно только при нахождении в черте города — C

D 4 нельзя при нахождении за городом — D

☐ **# 6**

+

один ответ

2 6

корректировать

Укажите единый общероссийский телефон доверия для детей, подростков и их родителей. (2 балла)

A 1 8-800-555-35-55 — A

B 2 8-800-200-01-22 ✓ B

C 3 8-880-003-00-20 — C

D 4 8-808-999-90-01 — D

☐ **# 7**

+

один ответ

2 7

корректировать

Укажите, куда обращен приподнятый край нижней перекладины креста на куполе церкви. (2 балла)

A 1 на восток — A

B 2 на запад — B

C 3 на юг — C

D 4 на север ✓ D

☐ **# 8**

+

Укажите, как называется атмосферное образование с вращательным движением воздуха вокруг вертикальной или наклонной оси. (2 балла)

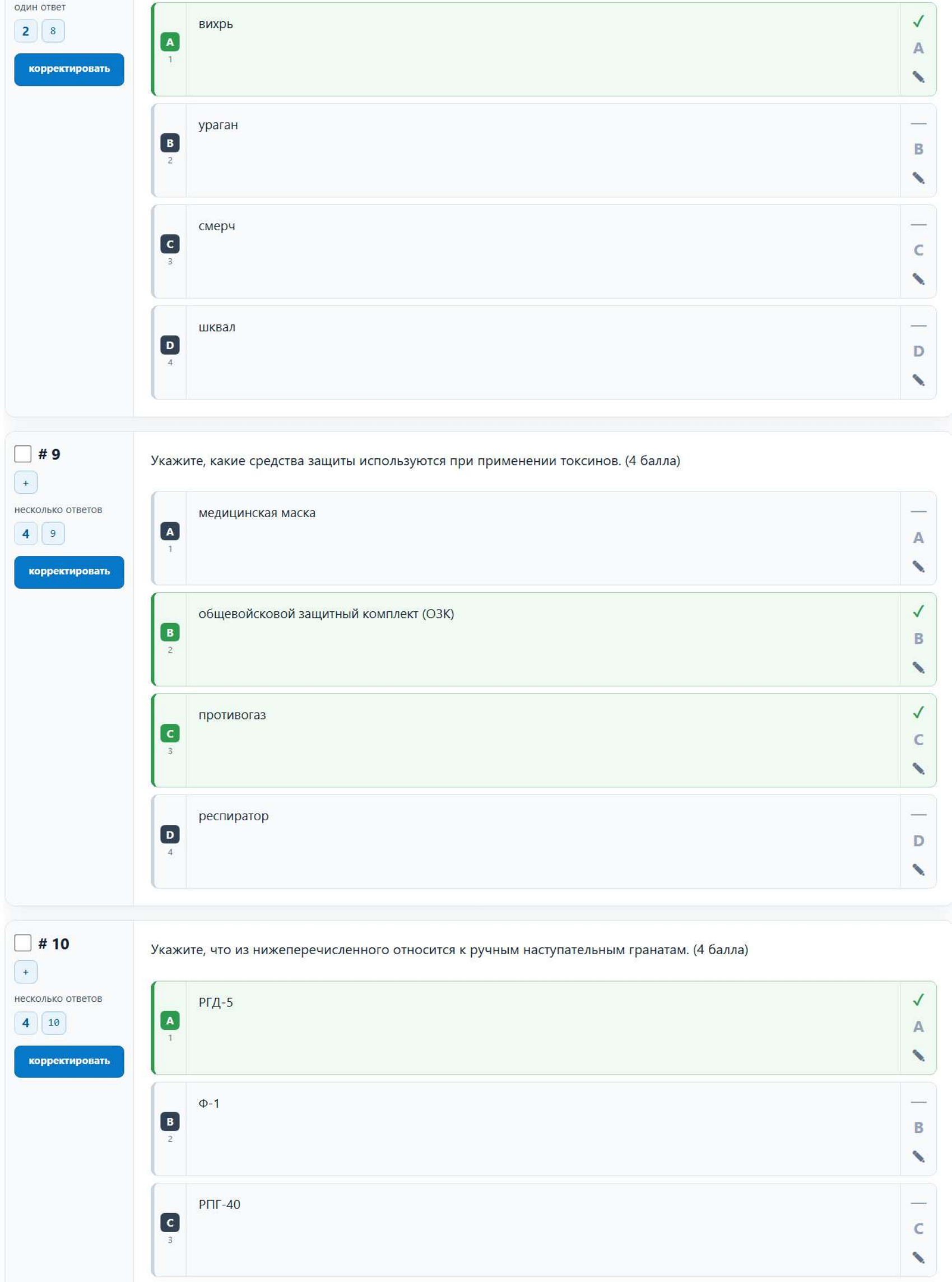

- **A** 1 вихрь ✓
- **B** 2 ураган —
- **C** 3 смерч —
- **D** 4 шквал —

☐ **# 9**

Укажите, какие средства защиты используются при применении токсинов. (4 балла)

- **A** 1 медицинская маска —
- **B** 2 общевойсковой защитный комплект (ОЗК) ✓
- **C** 3 противогаз ✓
- **D** 4 респиратор —

☐ **# 10**

Укажите, что из нижеперечисленного относится к ручным наступательным гранатам. (4 балла)

- **A** 1 РГД-5 ✓
- **B** 2 Ф-1 —
- **C** 3 РПГ-40 —

D 4 РГН ✓ D

E 5 РГО — E

F 6 РКГ-3 — F

☐ **# 11**

+

несколько ответов

4 11

корректировать

Укажите, что из нижеперечисленных объектов является линейными ориентирами. (4 балла)

A 1 линии электропередач и дороги ✓ A

B 2 летящий самолет — B

C 3 движущийся автотранспорт и сельскохозяйственная техника — C

D 4 граница леса, просека ✓ D

E 5 линия горизонта — E

F 6 тень от вертикально стоящей палки — F

☐ **# 12**

+

несколько ответов

6 12

корректировать

Укажите, какие мероприятия выполняются при частичной санитарной обработке в условиях заражения. (6 баллов)

A 1 обеззараживание, позволяющее находиться без средств индивидуальной защиты — A

B 2 снижение уровня заражения до безопасного уровня ✓ B

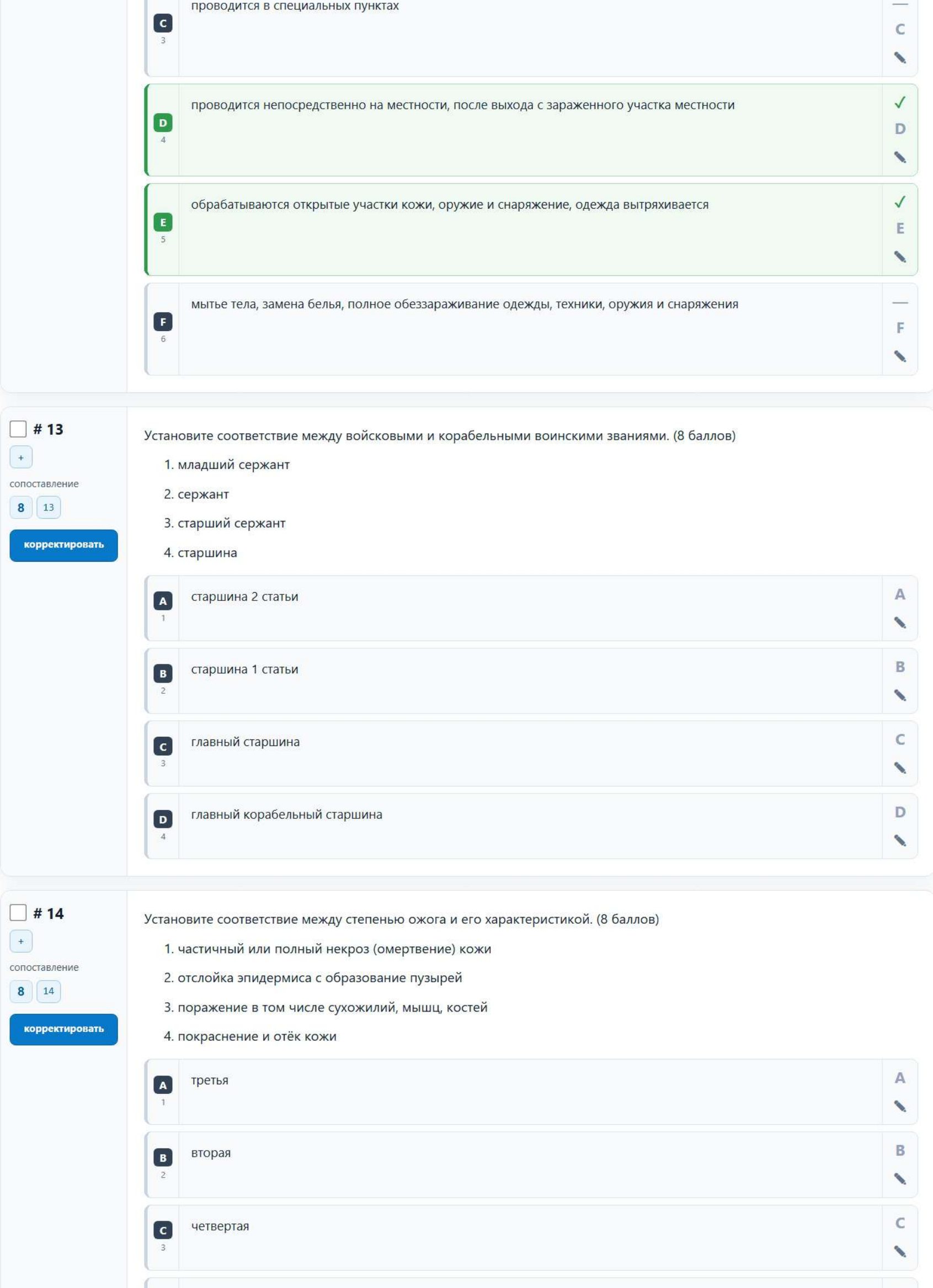

проводится в специальных пунктах

проводится непосредственно на местности, после выхода с зараженного участка местности

обрабатываются открытые участки кожи, оружие и снаряжение, одежда вытряхивается

мытье тела, замена белья, полное обеззараживание одежды, техники, оружия и снаряжения

☐ **# 13**

Установите соответствие между войсковыми и корабельными воинскими званиями. (8 баллов)

1. младший сержант
2. сержант
3. старший сержант
4. старшина

A 1 старшина 2 статьи

B 2 старшина 1 статьи

C 3 главный старшина

D 4 главный корабельный старшина

☐ **# 14**

Установите соответствие между степенью ожога и его характеристикой. (8 баллов)

1. частичный или полный некроз (омертвение) кожи
2. отслойка эпидермиса с образование пузырей
3. поражение в том числе сухожилий, мышц, костей
4. покраснение и отёк кожи

A 1 третья

B 2 вторая

C 3 четвертая

D 4 первая D

☐ **# 15**

+

сопоставление

10 15

корректировать

Установите соответствие между понятиями и их определениями. (10 баллов)

1. шеренга
2. фланг
3. фронт
4. интервал
5. дистанция

A 1 строй, в котором военнослужащие размещены один возле другого на одной линии на установленных интервалах A

B 2 правая (левая) оконечность строя B

C 3 сторона строя, в которую военнослужащие обращены лицом C

D 4 расстояние по фронту между военнослужащими D

E 5 расстояние в глубину между военнослужащими E

☐ **# 16**

+

сопоставление

10 16

корректировать

Соотнесите названия основных типов наводнения и их характеристикой. (10 баллов)

1. половодье
2. затор
3. паводок
4. ветровой нагон
5. зажор

A 1 периодические, продолжительные, в весенний период A

B 2 скопление рыхлого ледового материала во время ледостава в узких местах рек B

C 3 интенсивные, периодические, кратковременные, в период дождей и таяния снега C

D 4 воздействие ветра на водную поверхность D

E 5 нагромождение льдин в весенний ледоход в узких местах рек E

☐ **# 17**

Соотнесите изображение узлов с их названием. (10 баллов)

+

сопоставление

10 17

корректировать

1. грейпвайн
2. стремя
3. двойной булинь
4. проводник - восьмерка
5. встречный

A 1



A

B 2



B

C 3



C

D 4



D

E 5



E

☐ **# 18**

+

сопоставление

20 18

корректировать

Установите соответствие между названием дорожного знака и его изображением. (20 баллов)

1. пересечение с велосипедной дорожкой или велопешеходной дорожкой
2. пешеходная дорожка
3. жилая зона
4. пешеходная и велопешеходная дорожка с совмещенным движением
5. движение пешеходов запрещено
6. выезд на дорогу с полосой для велосипедистов
7. конец велосипедной дорожки и полосы для велосипедистов
8. велосипедная дорожка
9. велосипедная полоса
10. дорожные работы

A 1



A

B 2



B

C
3



C

D
4



D

E
5



E

F
6



F

G
7



G

H
8



H

I
9



I

J
10



J