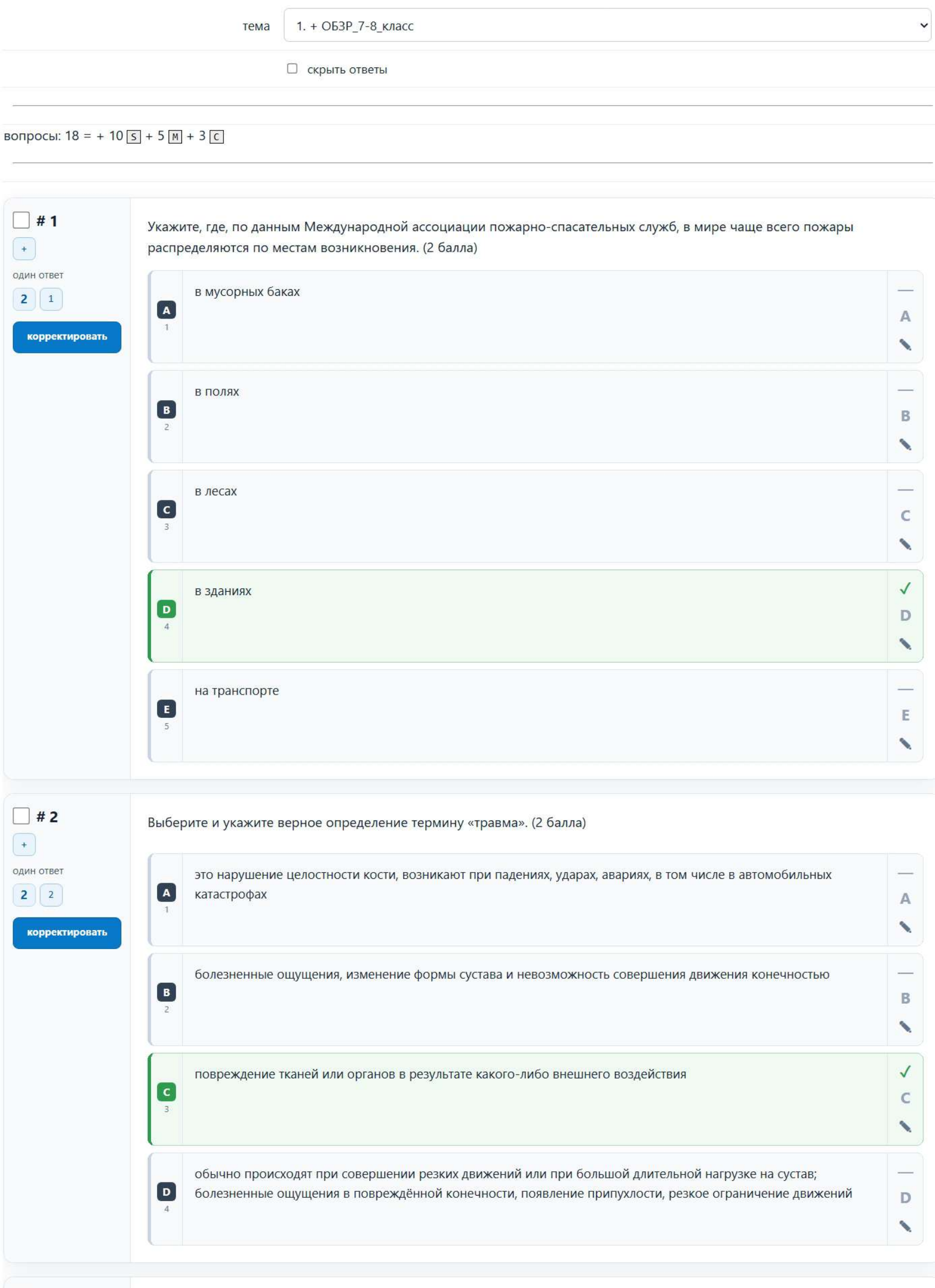

тема 1. + ОБЗР_7-8_класс

☐ скрыть ответы

вопросы: 18 = + 10 S + 5 M + 3 C

☐ **# 1**

+

один ответ

2 1

корректировать

Укажите, где, по данным Международной ассоциации пожарно-спасательных служб, в мире чаще всего пожары распределяются по местам возникновения. (2 балла)

- **A** 1 в мусорных баках — A
- **B** 2 в полях — B
- **C** 3 в лесах — C
- **D** 4 в зданиях ✓ D
- **E** 5 на транспорте — E

☐ **# 2**

+

один ответ

2 2

корректировать

Выберите и укажите верное определение термину «травма». (2 балла)

- **A** 1 это нарушение целостности кости, возникают при падениях, ударах, авариях, в том числе в автомобильных катастрофах — A
- **B** 2 болезненные ощущения, изменение формы сустава и невозможность совершения движения конечностью — B
- **C** 3 повреждение тканей или органов в результате какого-либо внешнего воздействия ✓ C
- **D** 4 обычно происходят при совершении резких движений или при большой длительной нагрузке на сустав; болезненные ощущения в повреждённой конечности, появление припухлости, резкое ограничение движений — D

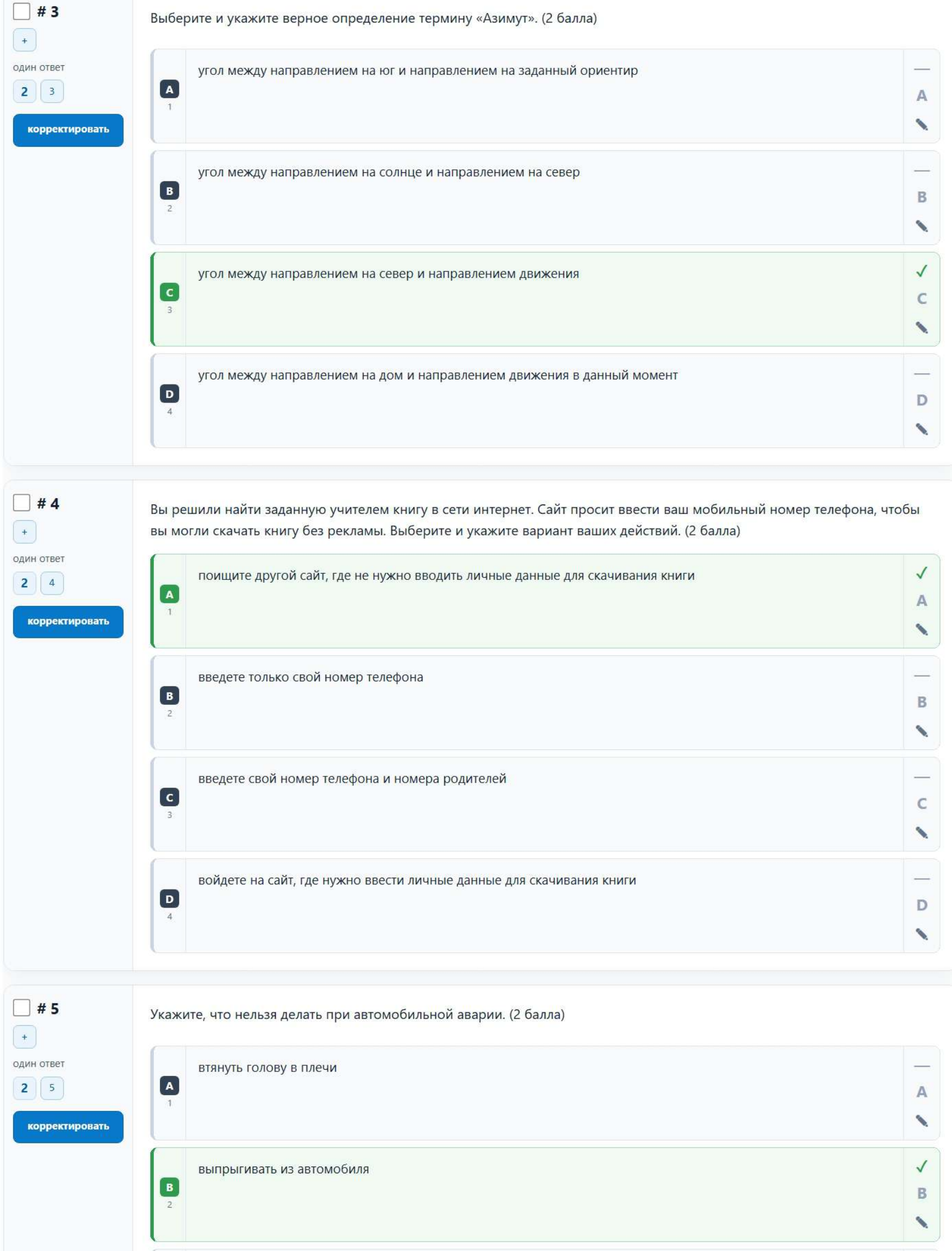

☐ **# 3**

Выберите и укажите верное определение термину «Азимут». (2 балла)

- A 1 угол между направлением на юг и направлением на заданный ориентир — A
- B 2 угол между направлением на солнце и направлением на север — B
- C 3 угол между направлением на север и направлением движения ✓ C
- D 4 угол между направлением на дом и направлением движения в данный момент — D

☐ **# 4**

Вы решили найти заданную учителем книгу в сети интернет. Сайт просит ввести ваш мобильный номер телефона, чтобы вы могли скачать книгу без рекламы. Выберите и укажите вариант ваших действий. (2 балла)

- A 1 поищите другой сайт, где не нужно вводить личные данные для скачивания книги ✓ A
- B 2 введете только свой номер телефона — B
- C 3 введете свой номер телефона и номера родителей — C
- D 4 войдете на сайт, где нужно ввести личные данные для скачивания книги — D

☐ **# 5**

Укажите, что нельзя делать при автомобильной аварии. (2 балла)

- A 1 втянуть голову в плечи — A
- B 2 выпрыгивать из автомобиля ✓ B

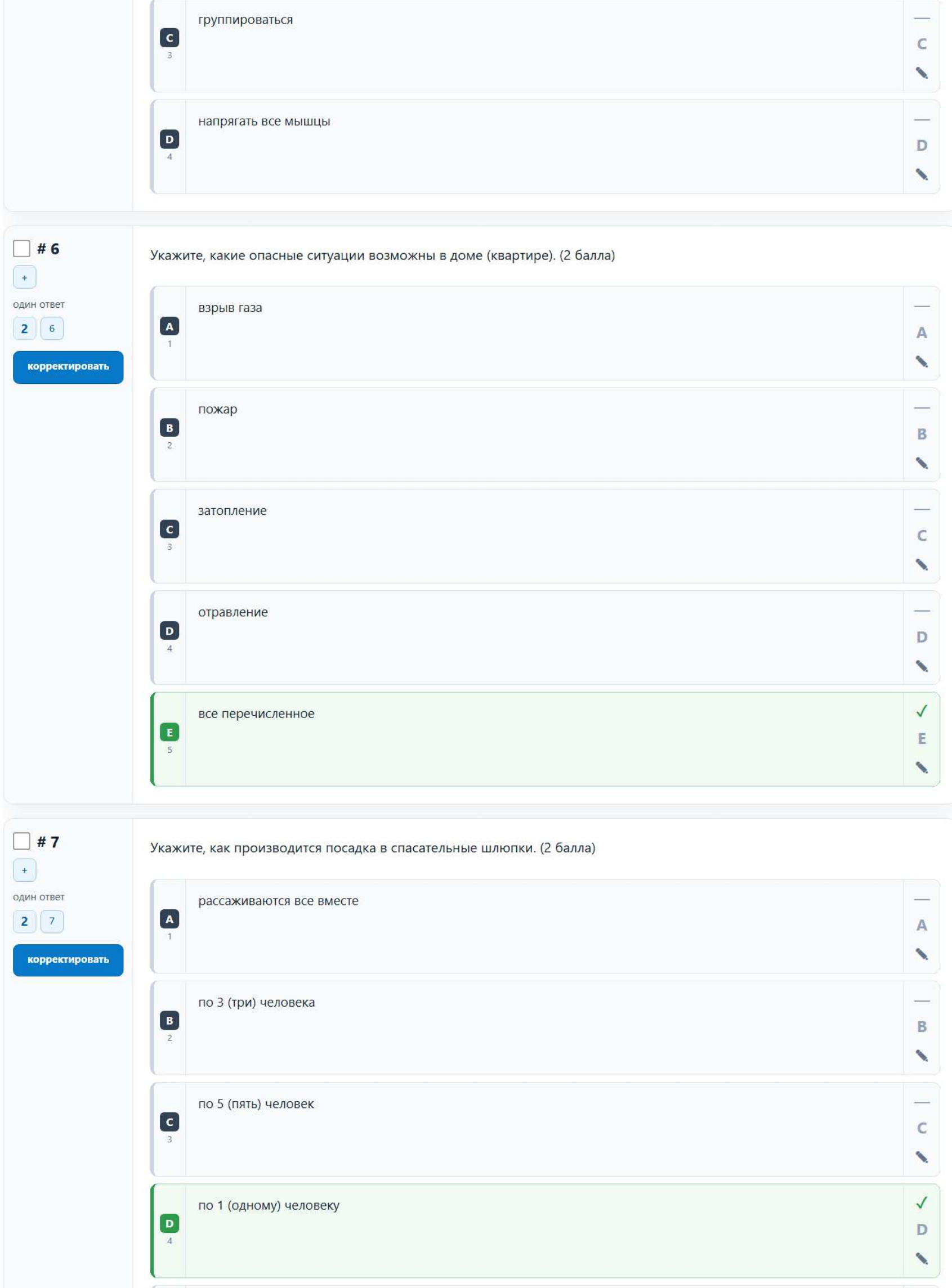

C 3 группироваться — C

D 4 напрягать все мышцы — D

☐ # 6

Укажите, какие опасные ситуации возможны в доме (квартире). (2 балла)

A 1 взрыв газа — A

B 2 пожар — B

C 3 затопление — C

D 4 отравление — D

E 5 все перечисленное ✓ E

☐ # 7

Укажите, как производится посадка в спасательные шлюпки. (2 балла)

A 1 рассаживаются все вместе — A

B 2 по 3 (три) человека — B

C 3 по 5 (пять) человек — C

D 4 по 1 (одному) человеку ✓ D

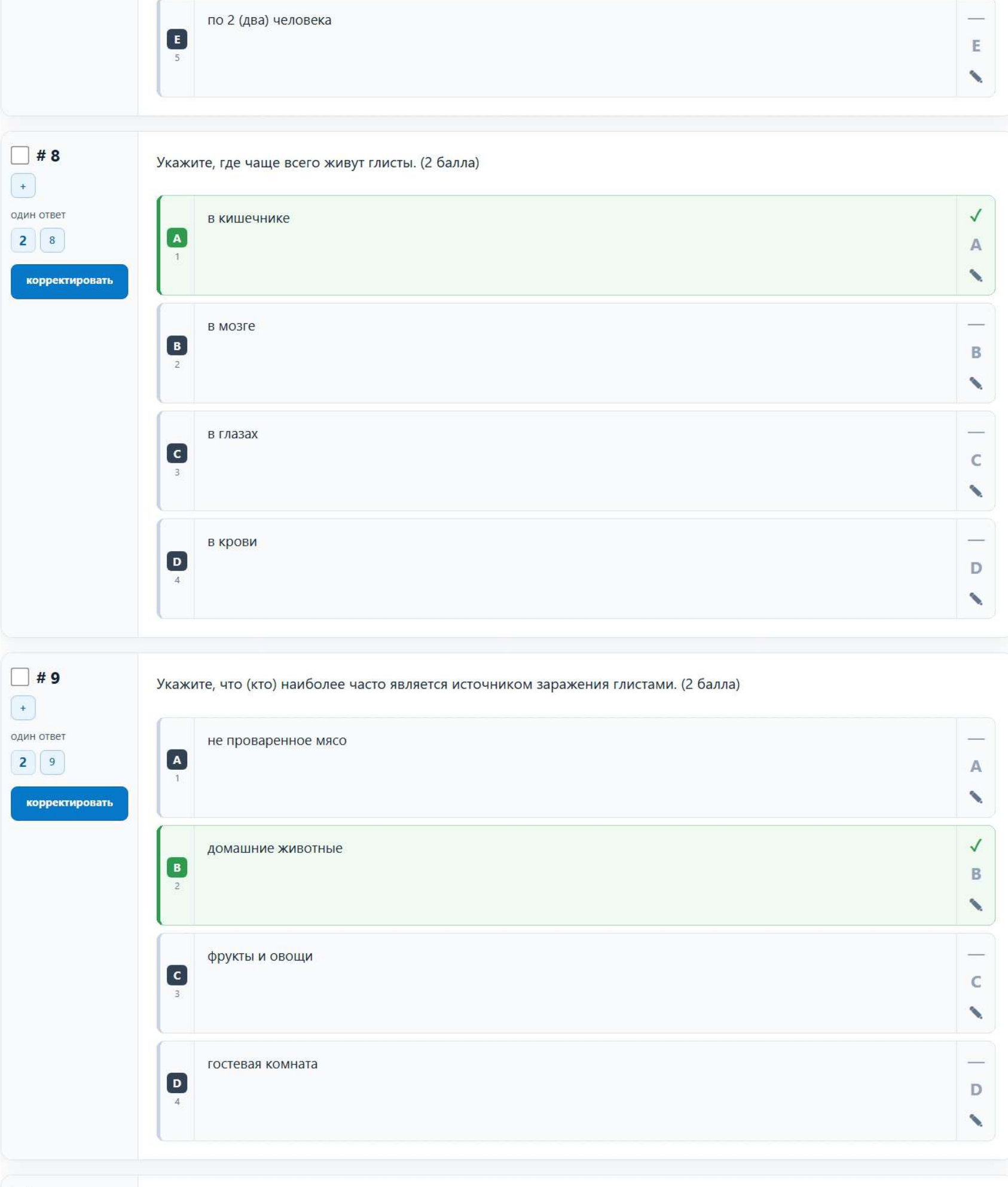

E 5 по 2 (два) человека —

☐ # 8

Укажите, где чаще всего живут глисты. (2 балла)

A 1 в кишечнике ✓

B 2 в мозге —

C 3 в глазах —

D 4 в крови —

☐ # 9

Укажите, что (кто) наиболее часто является источником заражения глистами. (2 балла)

A 1 не проваренное мясо —

B 2 домашние животные ✓

C 3 фрукты и овощи —

D 4 гостевая комната —

☐ **# 10**

+

один ответ

2 10

корректировать

Укажите, к какому виду Вооруженных Сил Российской Федерации относится представленный флаг. (2 балла)



- **A** 1 Сухопутные войска ✓ A
- **B** 2 Воздушно-космические силы — B
- **C** 3 Военно-морской флот — C
- **D** 4 Ракетные войска стратегического назначения — D

☐ **# 11**

+

несколько ответов

4 11

корректировать

Укажите, какие узлы относятся к вспомогательным. (4 балла)

- **A** 1 баррел ✓ A
- **B** 2 встречный — B
- **C** 3 австрийский проводник — C
- **D** 4 «штык» — D
- **E** 5 проводник ✓ E

☐ **# 12**

Укажите, какие Главные управления МЧС России НЕ относятся к Уральскому федеральному округу. (4 балла)

+

несколько ответов

4 12

корректировать

A 1 Республика Башкортостан ✓ A

B 2 Оренбургская область ✓ B

C 3 Курганская область — C

D 4 Челябинская область — D

E 5 Ханты-Мансийский автономный округ – Югра — E

☐ **# 13**

+

несколько ответов

6 13

корректировать

Укажите, какие мероприятия проводятся по обзорному осмотру пострадавшего и временной остановке наружного кровотечения. (6 баллов)

A 1 прямое давление на рану ✓ A

B 2 иммобилизация конечности — B

C 3 пальцевое прижатие артерии ✓ C

D 4 максимальное разгибание конечности в суставе — D

E 5 наложение жгута ✓ E

F 6 перемещение пострадавшего — F

☐ **# 14**

+

Укажите, какие риски могут быть при одновременном включении обогревателя, компьютера, чайника и утюга в удлинитель («пилот»). (6 баллов)

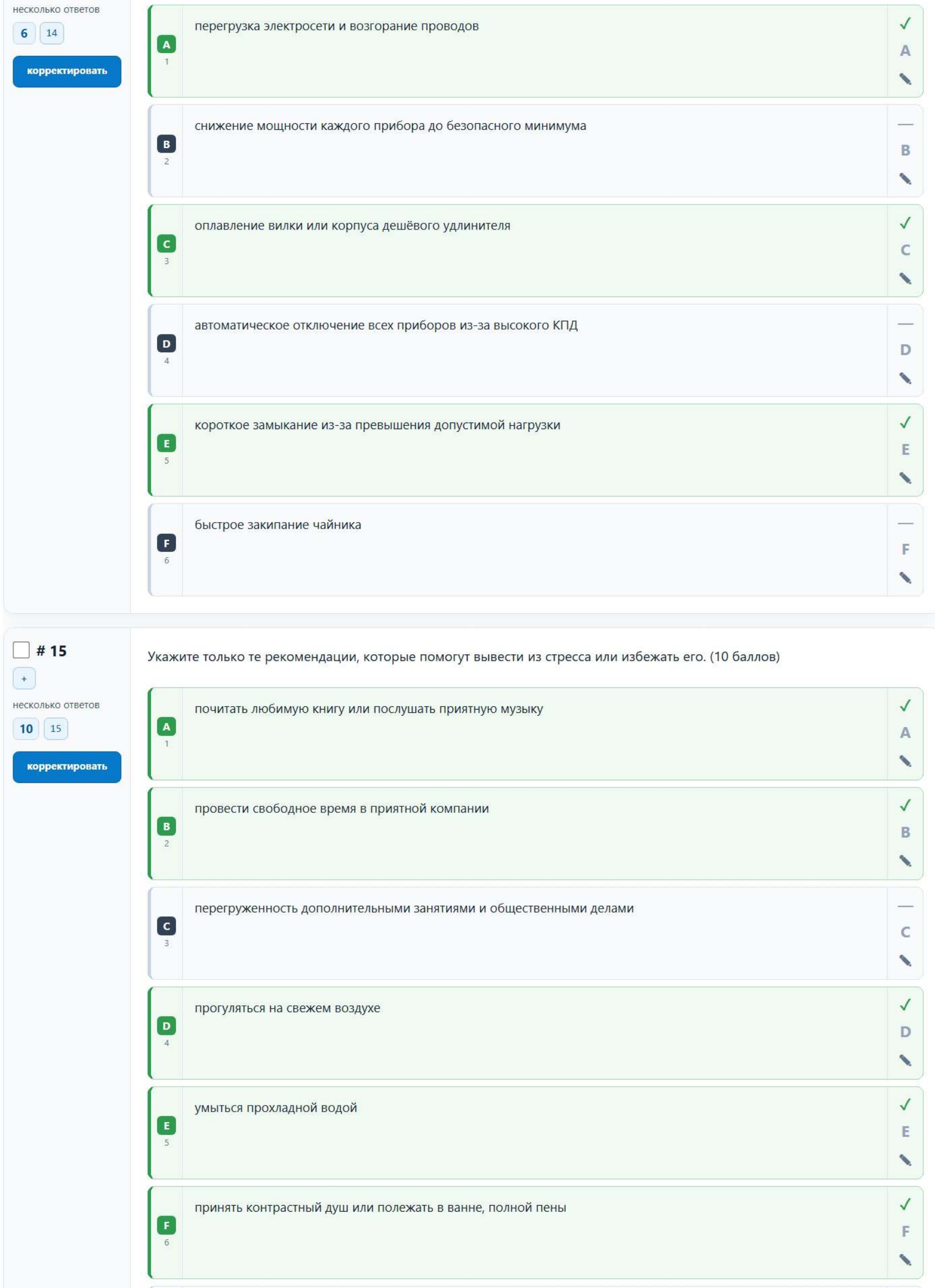

несколько ответов

6 14

корректировать

**A** 1 перегрузка электросети и возгорание проводов ✓ A

**B** 2 снижение мощности каждого прибора до безопасного минимума — B

**C** 3 оплавление вилки или корпуса дешёвого удлинителя ✓ C

**D** 4 автоматическое отключение всех приборов из-за высокого КПД — D

**E** 5 короткое замыкание из-за превышения допустимой нагрузки ✓ E

**F** 6 быстрое закипание чайника — F

☐ **# 15**

+

несколько ответов

10 15

корректировать

Укажите только те рекомендации, которые помогут вывести из стресса или избежать его. (10 баллов)

**A** 1 почитать любимую книгу или послушать приятную музыку ✓ A

**B** 2 провести свободное время в приятной компании ✓ B

**C** 3 перегруженность дополнительными занятиями и общественными делами — C

**D** 4 прогуляться на свежем воздухе ✓ D

**E** 5 умыться прохладной водой ✓ E

**F** 6 принять контрастный душ или полежать в ванне, полной пены ✓ F

**G** 7

трудновыполнимые школьные задания

**H** 8

непонимание со стороны близких

**I** 9

заниженные оценки

**J** 10

недосыпание

☐ **# 16**

+

сопоставление

20 16

корректировать

Установите соответствие между названием дорожного знака и его изображением. (20 баллов)

1. пересечение с велосипедной дорожкой или велопешеходной дорожкой
2. пешеходная дорожка
3. жилая зона
4. пешеходная и велопешеходная дорожка с совмещенным движением
5. движение пешеходов запрещено
6. выезд на дорогу с полосой для велосипедистов
7. конец велосипедной дорожки и полосы для велосипедистов
8. велосипедная дорожка
9. велосипедная полоса
10. пешеходная зона

**A** 1



**B** 2



**C** 3



**D**
4



D

**E**
5



E

**F**
6



F

**G**
7



G

**H**
8



H

**I**
9



I

**J**
10

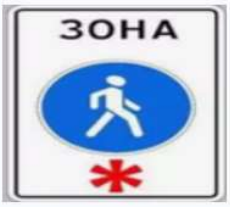

J

☐ **# 17**

+

сопоставление

**20** 17

**корректировать**

Установите соответствие между датой празднования праздника и его названием. (20 баллов)

1. 12 декабря
2. 22 августа
3. 12 июня
4. 12 апреля
5. 04 ноября
6. 05 октября
7. 09 мая

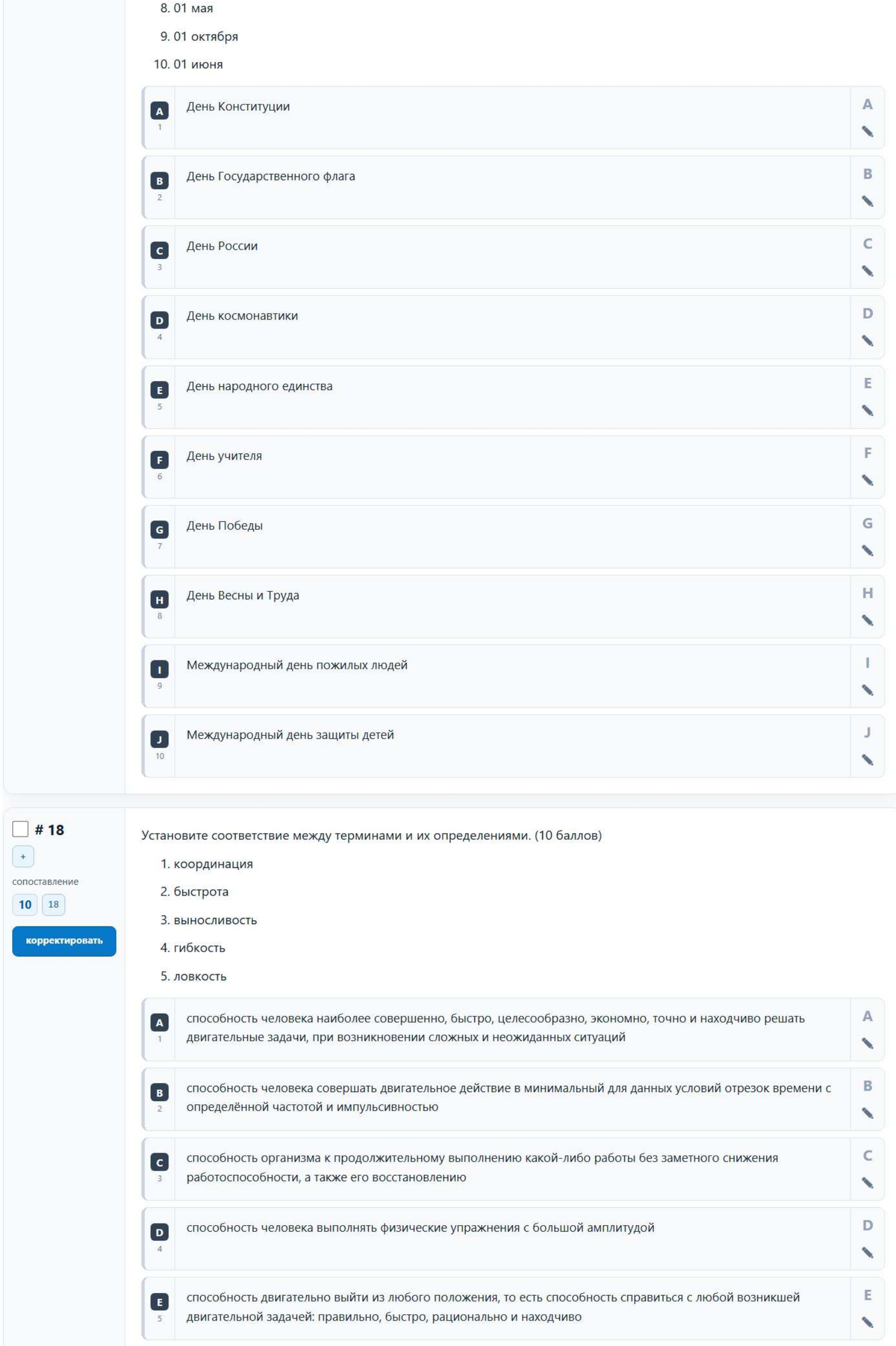

8. 01 мая
9. 01 октября
10. 01 июня

**A** 1 День Конституции A

**B** 2 День Государственного флага B

**C** 3 День России C

**D** 4 День космонавтики D

**E** 5 День народного единства E

**F** 6 День учителя F

**G** 7 День Победы G

**H** 8 День Весны и Труда H

**I** 9 Международный день пожилых людей I

**J** 10 Международный день защиты детей J

---

☐ **# 18**

Установите соответствие между терминами и их определениями. (10 баллов)

1. координация
2. быстрота
3. выносливость
4. гибкость
5. ловкость

**A** 1 способность человека наиболее совершенно, быстро, целесообразно, экономно, точно и находчиво решать двигательные задачи, при возникновении сложных и неожиданных ситуаций A

**B** 2 способность человека совершать двигательное действие в минимальный для данных условий отрезок времени с определённой частотой и импульсивностью B

**C** 3 способность организма к продолжительному выполнению какой-либо работы без заметного снижения работоспособности, а также его восстановлению C

**D** 4 способность человека выполнять физические упражнения с большой амплитудой D

**E** 5 способность двигательно выйти из любого положения, то есть способность справиться с любой возникшей двигательной задачей: правильно, быстро, рационально и находчиво E