тема 1. + ОБЗР_10_класс

☐ скрыть ответы

---

вопросы: 19 = + 8 S + 7 M + 4 C

---

☐ **# 1**

+

один ответ

**2** 1

**корректировать**

Укажите название зоны, которая характеризуется как зона относительной безопасности, в которой имеются временные укрытия, но сохраняется риск поражения личного состава. (2 балла)

**A** 1 «красная зона» — A

**B** 2 «желтая зона» ✓ B

**C** 3 «оранжевая зона» — C

**D** 4 «зеленая зона» — D

☐ **# 2**

+

один ответ

**2** 2

**корректировать**

Укажите, что по классификации уровней террористической опасности, устанавливаемых в РФ, означает «ЖЕЛТЫЙ» уровень. (2 балла)

**A** 1 нападение уже произошло, требуется эвакуация — A

**B** 2 получена информация о готовящемся теракте, требующая подтверждения ✓ B

**C** 3 повседневная жизнь без угроз — C

**D** 4 теракт предотвращен, но подозреваемые скрылись — D

☐ **# 3**

+

Отметьте из перечисленного, что в северном полушарии в ночное время указывает на север. (2 балла)

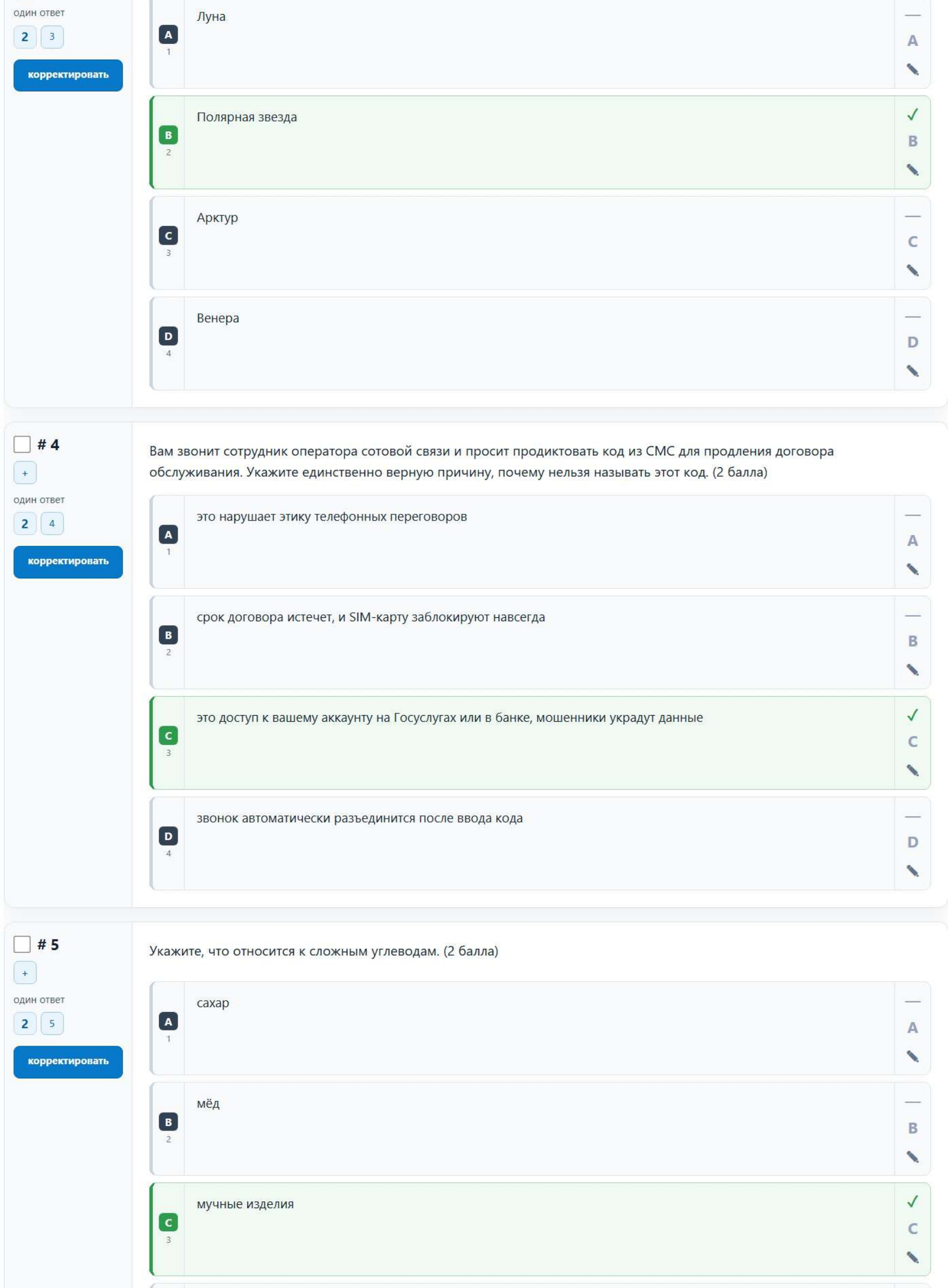

A 1 Луна — A

B 2 Полярная звезда ✓ B

C 3 Арктур — C

D 4 Венера — D

☐ # 4

Вам звонит сотрудник оператора сотовой связи и просит продиктовать код из СМС для продления договора обслуживания. Укажите единственно верную причину, почему нельзя называть этот код. (2 балла)

A 1 это нарушает этику телефонных переговоров — A

B 2 срок договора истечет, и SIM-карту заблокируют навсегда — B

C 3 это доступ к вашему аккаунту на Госуслугах или в банке, мошенники украдут данные ✓ C

D 4 звонок автоматически разъединится после ввода кода — D

☐ # 5

Укажите, что относится к сложным углеводам. (2 балла)

A 1 сахар — A

B 2 мёд — B

C 3 мучные изделия ✓ C

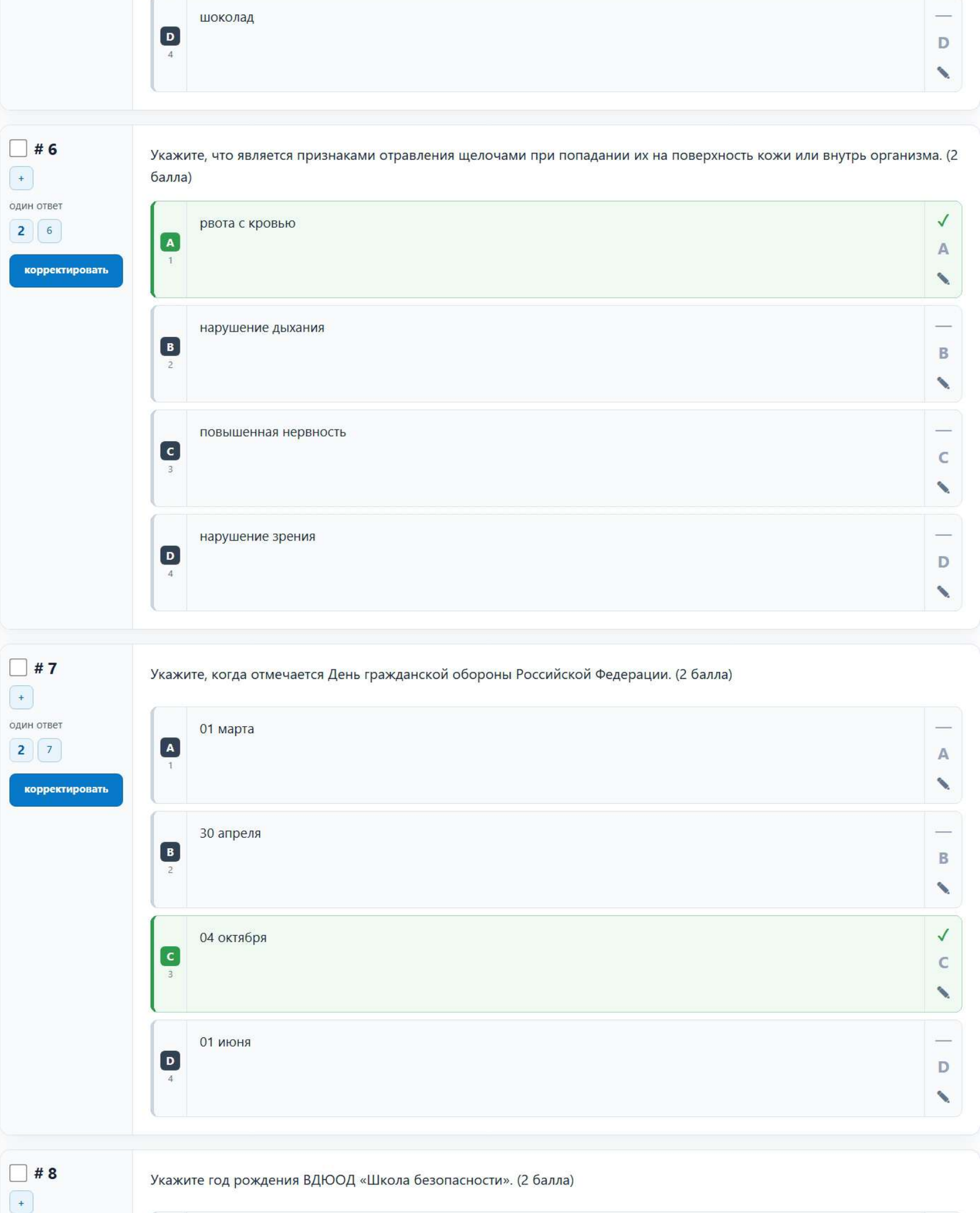

**D** 4 шоколад — D

☐ **# 6**

+

один ответ

2 6

корректировать

Укажите, что является признаками отравления щелочами при попадании их на поверхность кожи или внутрь организма. (2 балла)

**A** 1 рвота с кровью ✓ A

**B** 2 нарушение дыхания — B

**C** 3 повышенная нервность — C

**D** 4 нарушение зрения — D

☐ **# 7**

+

один ответ

2 7

корректировать

Укажите, когда отмечается День гражданской обороны Российской Федерации. (2 балла)

**A** 1 01 марта — A

**B** 2 30 апреля — B

**C** 3 04 октября ✓ C

**D** 4 01 июня — D

☐ **# 8**

+

Укажите год рождения ВДЮОД «Школа безопасности». (2 балла)

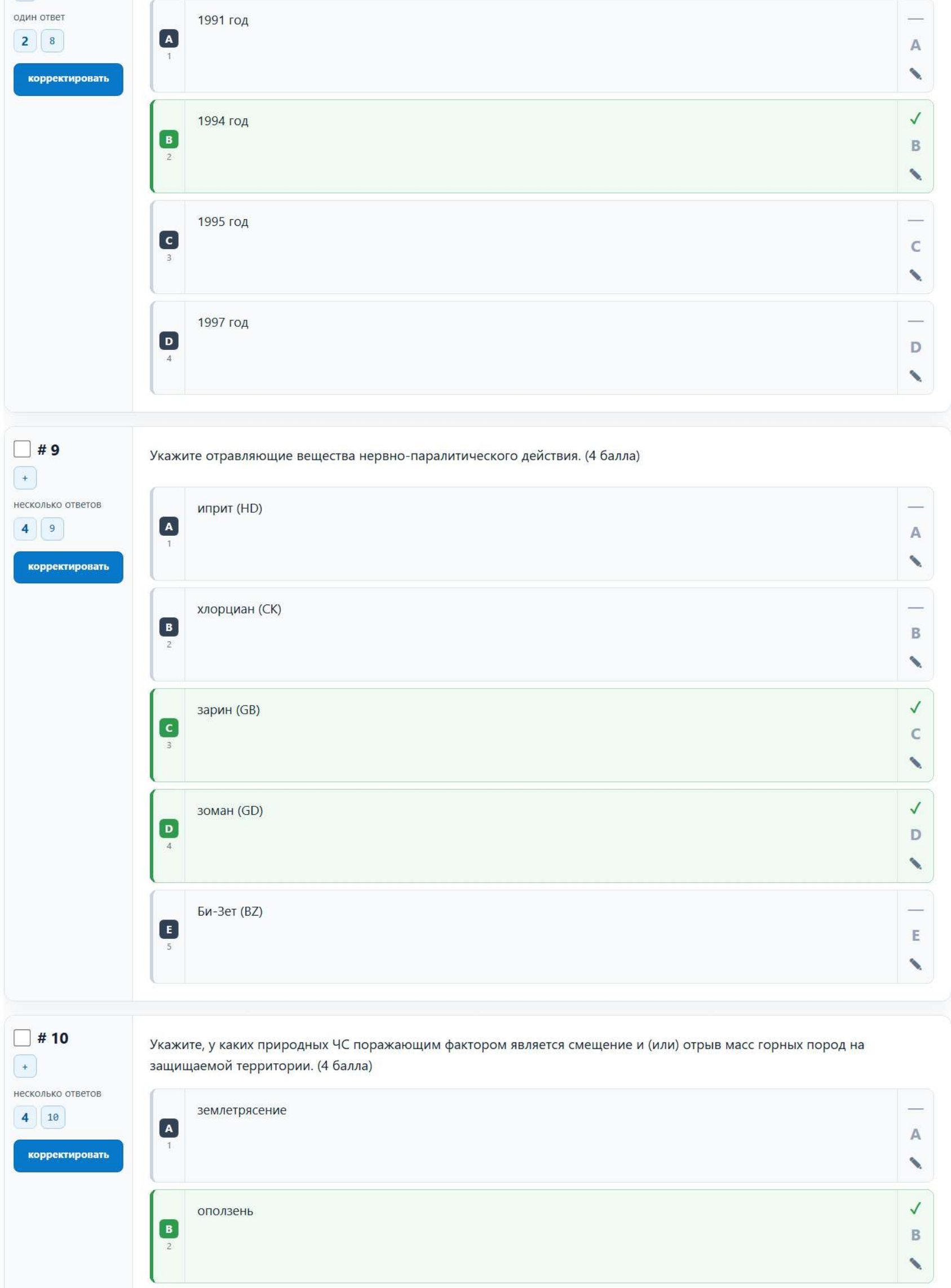

один ответ

2 8

корректировать

- A 1 — 1991 год
- B 2 ✓ 1994 год
- C 3 — 1995 год
- D 4 — 1997 год

☐ **# 9**

+

несколько ответов

4 9

корректировать

Укажите отравляющие вещества нервно-паралитического действия. (4 балла)

- A 1 — иприт (HD)
- B 2 — хлорциан (CK)
- C 3 ✓ зарин (GB)
- D 4 ✓ зоман (GD)
- E 5 — Би-Зет (BZ)

☐ **# 10**

+

несколько ответов

4 10

корректировать

Укажите, у каких природных ЧС поражающим фактором является смещение и (или) отрыв масс горных пород на защищаемой территории. (4 балла)

- A 1 — землетрясение
- B 2 ✓ оползень

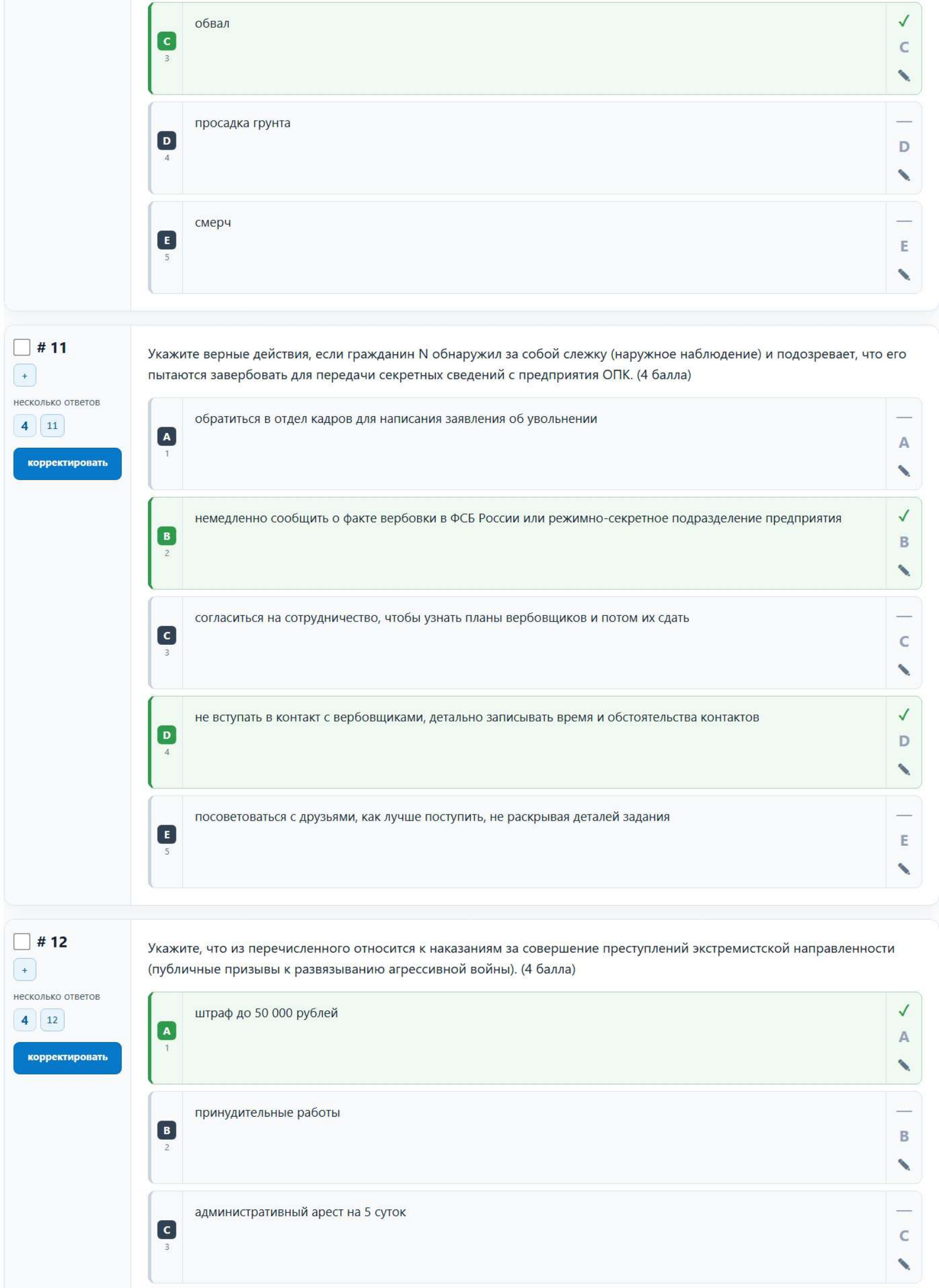

**C** 3 обвал ✓ C

**D** 4 просадка грунта — D

**E** 5 смерч — E

☐ **# 11**

+

несколько ответов

4 11

корректировать

Укажите верные действия, если гражданин N обнаружил за собой слежку (наружное наблюдение) и подозревает, что его пытаются завербовать для передачи секретных сведений с предприятия ОПК. (4 балла)

**A** 1 обратиться в отдел кадров для написания заявления об увольнении — A

**B** 2 немедленно сообщить о факте вербовки в ФСБ России или режимно-секретное подразделение предприятия ✓ B

**C** 3 согласиться на сотрудничество, чтобы узнать планы вербовщиков и потом их сдать — C

**D** 4 не вступать в контакт с вербовщиками, детально записывать время и обстоятельства контактов ✓ D

**E** 5 посоветоваться с друзьями, как лучше поступить, не раскрывая деталей задания — E

☐ **# 12**

+

несколько ответов

4 12

корректировать

Укажите, что из перечисленного относится к наказаниям за совершение преступлений экстремистской направленности (публичные призывы к развязыванию агрессивной войны). (4 балла)

**A** 1 штраф до 50 000 рублей ✓ A

**B** 2 принудительные работы — B

**C** 3 административный арест на 5 суток — C

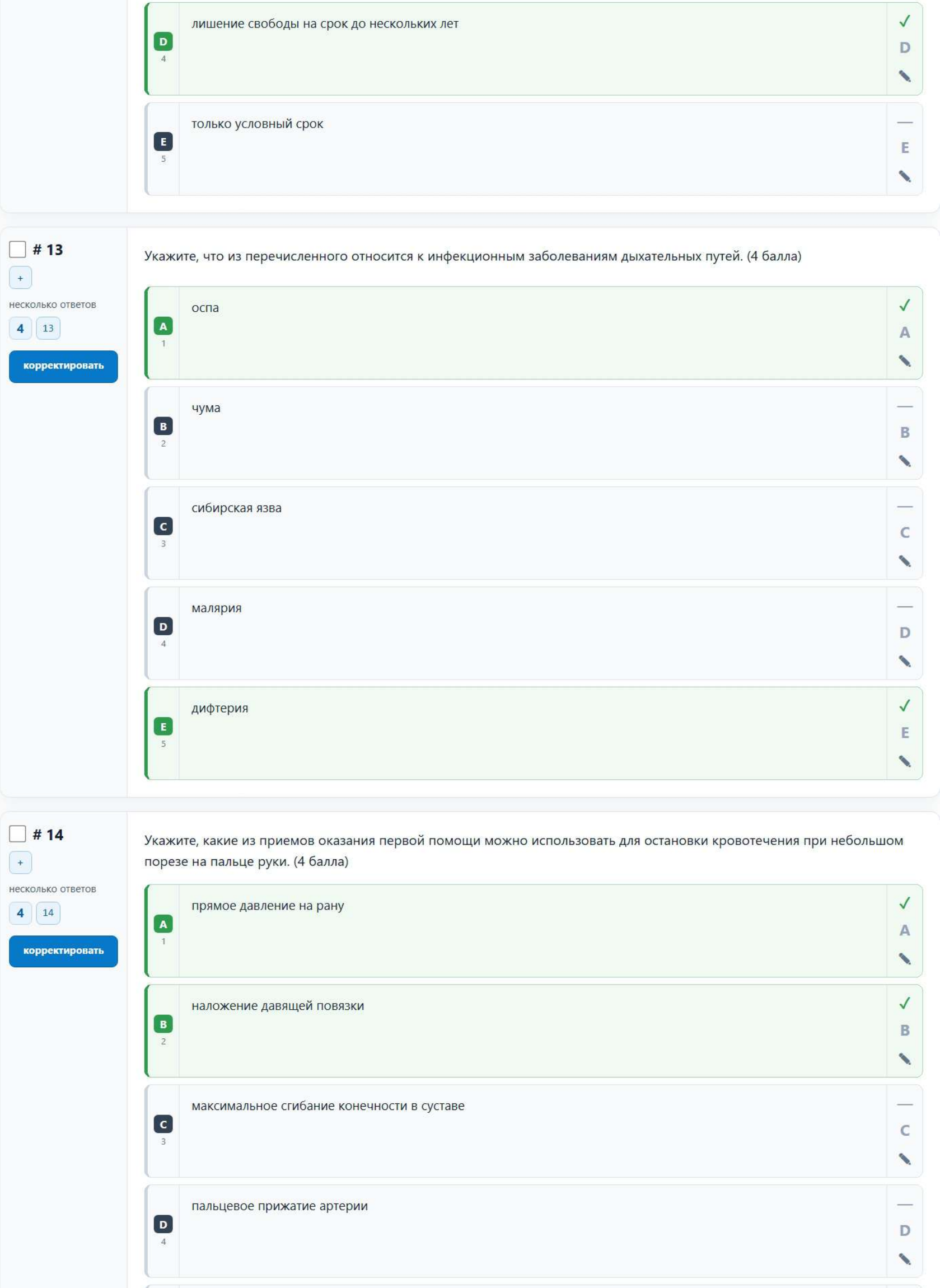

D 4 лишение свободы на срок до нескольких лет ✓ D

E 5 только условный срок — E

☐ **# 13**

+

несколько ответов

4 13

корректировать

Укажите, что из перечисленного относится к инфекционным заболеваниям дыхательных путей. (4 балла)

A 1 оспа ✓ A

B 2 чума — B

C 3 сибирская язва — C

D 4 малярия — D

E 5 дифтерия ✓ E

☐ **# 14**

+

несколько ответов

4 14

корректировать

Укажите, какие из приемов оказания первой помощи можно использовать для остановки кровотечения при небольшом порезе на пальце руки. (4 балла)

A 1 прямое давление на рану ✓ A

B 2 наложение давящей повязки ✓ B

C 3 максимальное сгибание конечности в суставе — C

D 4 пальцевое прижатие артерии — D

**E** 5 наложение кровоостанавливающего жгута — E

☐ **# 15**

+

несколько ответов

**6** 15

**корректировать**

Укажите принадлежности, которые используются для смазки канала ствола автомата. (6 баллов)

**A** 1 шомпол ✓ A

**B** 2 отвертка — B

**C** 3 выколотка — C

**D** 4 пенал ✓ D

**E** 5 ерш ✓ E

**F** 6 переходник — F

☐ **# 16**

+

сопоставление

**12** 16

**корректировать**

Установите соответствие между способами проникновения отравляющих веществ (ОВ) в организм и их характеристиками. (12 баллов)

1. ингаляционный
2. микстовый
3. кожнорезорбитивный
4. пероральный

**A** 1 через органы дыхания A

**B** 2 через раневые поверхности B

**C** 3 через слизистые оболочки и кожные покровы C

**D** 4 через желудочно-кишечный тракт при употреблении зараженной пищи и воды D

☐ # 17

+

сопоставление

12 17

корректировать

Установите соответствие между органом власти и его компетенцией в сфере безопасности в социуме. (12 баллов)

1. Роскомнадзор России
2. МВД России
3. Следственный комитет РФ
4. МЧС России

**A** 1 блокировка противоправного контента в сети Интернет A

**B** 2 борьба с киберпреступностью и преступлениями в сфере IT B

**C** 3 расследование преступлений против личности C

**D** 4 обеспечение пожарной безопасности школ D

☐ # 18

+

сопоставление

15 18

корректировать

Установите соответствие между видом костра и его названием. (15 баллов)

1. Костёр Финская свеча
2. Костёр Колодец
3. Костёр Нодья
4. Костёр Шалаш
5. Костёр Таёжный

**A** 1



A

**B** 2



B

**C** 3



C

**D**
4



D

**E**
5



E

☐ **# 19**

+

сопоставление

15 19

**корректировать**

Укажите, к какой группе относятся указанные дорожные знаки. (15 баллов)

1. Запрещающие знаки
2. Предупреждающие знаки
3. Знаки приоритета
4. Знаки особых предписаний
5. Предписывающие знаки

**A**
1



A

**B**
2



B

**C**
3



C

**D**
4



D

**E**
5



E