☐ **# 1**

+

один ответ

2 1

корректировать

Выберите из списка и укажите изменение в жизни древнего человека, которое произошло в эпоху палеолита (древнего каменного века) (1 правильный ответ, 2 балла за правильный ответ, максимальный балл – 2). Засчитывается верный ответ при отсутствии лишних ответов.

A 1 появление керамики —

B 2 изготовление ручных рубил ✓

C 3 изобретение ткачества —

D 4 приготовление муки при помощи зернотерки из плоских камней —

E 5 одомашнивание крупного рогатого скота —

☐ **# 2**

+

несколько ответов

6 2

корректировать

Прочитайте два текста. Выберите из списка все верные суждения, относящиеся к событиям из жизни основателя конфуцианства, и укажите их. (2 правильных ответа, 3 балла за каждый правильный ответ, максимальный балл – 6). Засчитывается каждый верный ответ при отсутствии лишних ответов. Если участник отметил три варианта ответа, то за каждый верный ответ начисляется 3 балла, за каждый неверный – 0 баллов, НО вычитается 3 балла за лишний вариант ответа. Во всех остальных случаях ставится 0 баллов.

Человек, получивший от современников почетное прозвище Кун-фу-цзы, что значит «почтенный учитель Кун», жил две с половиной тысячи лет тому назад. Он ... не оставил потомкам письменных поучений. Но слава о нем облетела весь мир. В лежащем у подножия Шаньдунских гор городке Цюйфу приезжему покажут старинную усадьбу рода Кунов, где живут прямые потомки – теперь уже в семьдесят восьмом поколении! – древнего мудреца, и могилу самого Конфуция. (Конфуций. Великое учение / С комментариями и объяснениями В. Малявина, Е. Ямбурга, И. Канаева. М.: Изд-во «АСТ», 2020.)

Конфуций родился тогда, когда отец его был уже стариком. ... Событие это произошло в 21-й день 10-го месяца, на 21-м году правления герцога Сина из Лу, то есть на 20-м году царствования императора Лина, или в 551 году до н.э. О Конфуции рассказывается, что когда он был мальчиком, то обыкновенно играл в разные священнодействия и представлял всевозможные церемонии. Сам он говорит о себе, что в пятнадцать лет ум его стал склоняться к учению, но семья его находилась в бедности. Впоследствии, когда люди удивлялись разнообразию его познаний, он объяснял это, говоря: &quot;Когда я был молод, положение мое было низким, и поэтому я старался изощрять свои способности во многом, но все это были пустяки.
(Буланже П.А. Будда. Конфуций: жизнь и учение / Сост. С. В. Игошина. М.: Искусство, 1995.)

A 1 Конфуций родился в шестом веке до н.э. ✓

B 2 с детства Конфуций пользовался привилегиями, благодаря богатству и высокому положению его семьи в обществе —

C 3 настоящее родовое имя философа Конфуция - Кун ✓

D 4 Конфуций написал несколько книг, в которых изложил свое учение —

E 5 род Конфуция прервался более тысячи лет назад, в наши дни невозможно найти даже отдаленных его потомков —

☐ **# 3**

+

сопоставление

3 3

корректировать

Расположите в хронологическом порядке государства Древнего мира и Средних веков в порядке их возникновения от самого раннего к самому позднему. Введите последовательность цифр в поле для ответа. (3 балла за верно установленную последовательность из пяти элементов).

1. 1
2. 2
3. 3
4. 4
5. 5

A 1 Древнее Царство Египта

B 2 Ассирия

C 3 Держава Ахеменидов (Древне-Персидское царство)

D 4 Империя Александра Македонского

E 5 Западная Римская Империя

☐ **# 4**

+

сопоставление

10 4

корректировать

Рассмотрите предложенные изображения. Соотнесите изображение архитектурных сооружений, появившихся в период правления Ивана III Великого и Василия III с их описанием. Для этого к каждой позиции в первом столбце подберите и укажите соответствующую позицию из второго столбца. (2 балла за каждое верно установленное соответствие, максимальный балл – 10).

1. Крепость Кирилло-Белозерского монастыря, перестроенная в XVII веке по приказу царя Алексея Михайловича
2. Крепость Иван-город на реке Нарва, заложенная в 1492 году по указанию Ивана III
3. Успенский Собор в Московском Кремле, построенный в 1475—1479 годах под руководством итальянского зодчего Аристотеля Фиораванти
4. Петропавловский собор, возведён в 1712—1733 годах по проекту архитектора Доменико Трезини.
5. Храм-колокольня «Иван Великий» возведен в 1505–1508 годах итальянским архитектором Боном Фрязиным. Надстроена в высоту на один ярус в 1600 году.

A 1



B
2

C
3

D
4

E
5



☐ **# 5**

+

несколько ответов

6 5

корректировать

Прочтите высказывания, выберите из них верные и отметьте их. (3 правильных ответа, 2 балла за каждый правильный ответ, максимальный балл – 6). Засчитывается каждый верный ответ при отсутствии лишних ответов. Если участник отметил четыре варианта ответа, то за каждый верный ответ начисляется 2 балла, за каждый неверный – 0 баллов, НО вычитается 2 балла за лишний вариант ответа. Во всех остальных случаях ставится 0 баллов.

A 1 строительство Великой стены для защиты от набегов хунну началось по указанию Конфуция —

B 2 учение буддизма было распространено в Древнем Египте —

C 3 падение Западной Римской империи считается началом эпохи Средних веков ✓

D 4 империя Александра Македонского охватывала территории в трёх частях света: Европе, Азии и Африке ✓

E 5 пророк Мохаммед жил после появления христианского вероучения ✓

F 6 в Крестовых походах принимали участие только богатейшие рыцари Западной Европы —

☐ **# 6**

+

сопоставление

10 6

корректировать

Соотнесите изображения домов и усадеб Свердловской области, признанных историческим и культурным наследием, с их описаниями. Для этого к каждой позиции в первом столбце подберите и укажите соответствующую позицию из второго столбца. (2 балла за каждое верно установленное соответствие, максимальный балл – 10).

1. Дом предпринимателя-золотопромышленника Н.И. Севастьянова на Главном проспекте (ныне проспекте Ленина), Екатеринбург
2. Музей-усадьба «Демидовская дача», бывшая загородная усадьба П.П. Демидова, князя Сан-Донато (находится в Тагилстроевском районе города Нижний Тагил)
3. Главный павильон Ирбитской ярмарки, построен в 1864 г.

4. Усадьба Расторгуевых-Харитоновых в г. Екатеринбурге, архитектурный памятник федерального значения

5. Музей истории Невьянского края в здании бывшей электростанции, построенной в г. Невьянске в 1915 г.

A
1



B
2



C
3



D
4



E
5



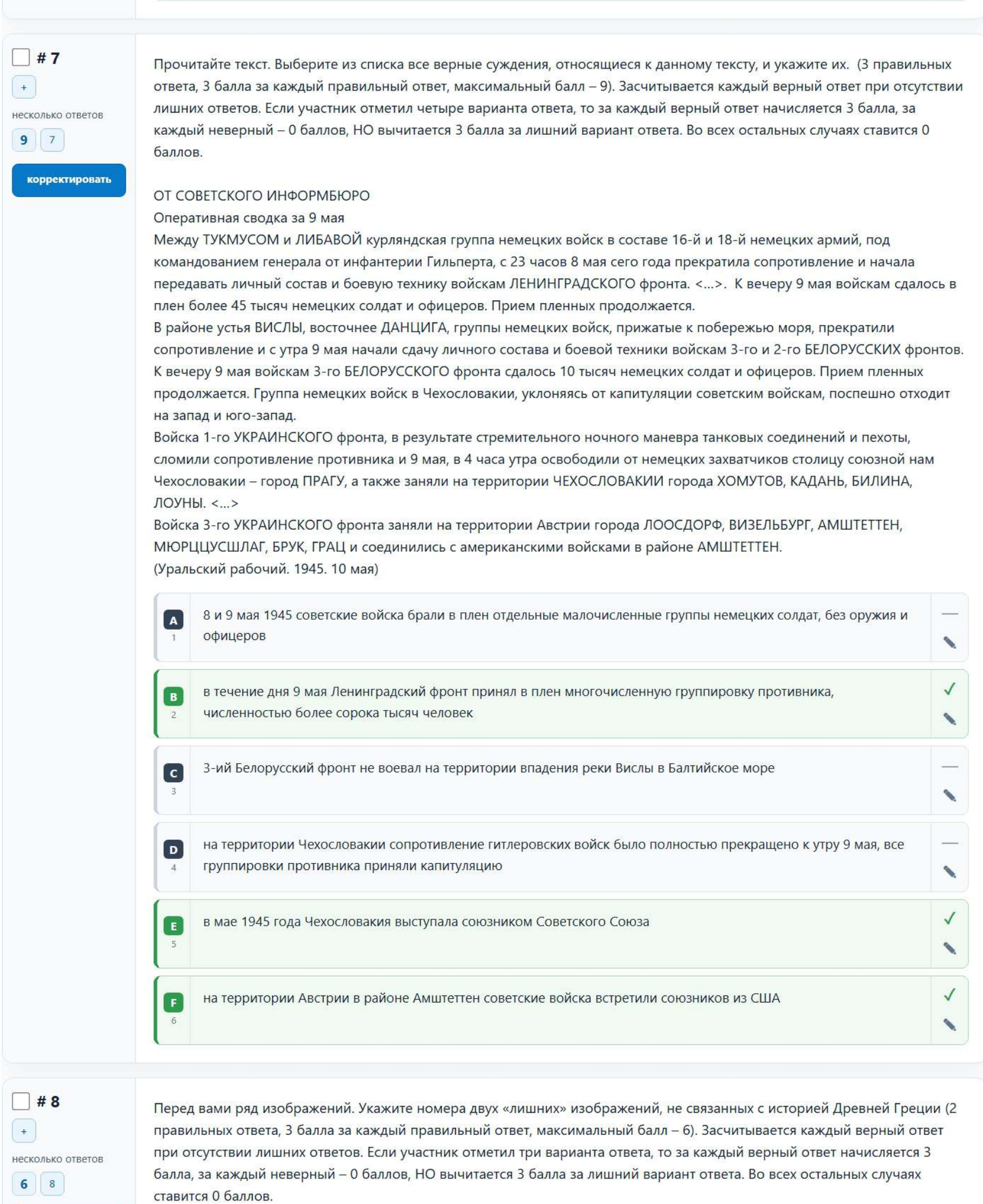

☐ **# 7**

+
несколько ответов
9
7
корректировать

Прочитайте текст. Выберите из списка все верные суждения, относящиеся к данному тексту, и укажите их. (3 правильных ответа, 3 балла за каждый правильный ответ, максимальный балл – 9). Засчитывается каждый верный ответ при отсутствии лишних ответов. Если участник отметил четыре варианта ответа, то за каждый верный ответ начисляется 3 балла, за каждый неверный – 0 баллов, НО вычитается 3 балла за лишний вариант ответа. Во всех остальных случаях ставится 0 баллов.

ОТ СОВЕТСКОГО ИНФОРМБЮРО
Оперативная сводка за 9 мая
Между ТУКМУСОМ и ЛИБАВОЙ курляндская группа немецких войск в составе 16-й и 18-й немецких армий, под командованием генерала от инфантерии Гильперта, с 23 часов 8 мая сего года прекратила сопротивление и начала передавать личный состав и боевую технику войскам ЛЕНИНГРАДСКОГО фронта. <…>. К вечеру 9 мая войскам сдалось в плен более 45 тысяч немецких солдат и офицеров. Прием пленных продолжается.
В районе устья ВИСЛЫ, восточнее ДАНЦИГА, группы немецких войск, прижатые к побережью моря, прекратили сопротивление и с утра 9 мая начали сдачу личного состава и боевой техники войскам 3-го и 2-го БЕЛОРУССКИХ фронтов. К вечеру 9 мая войскам 3-го БЕЛОРУССКОГО фронта сдалось 10 тысяч немецких солдат и офицеров. Прием пленных продолжается. Группа немецких войск в Чехословакии, уклоняясь от капитуляции советским войскам, поспешно отходит на запад и юго-запад.
Войска 1-го УКРАИНСКОГО фронта, в результате стремительного ночного маневра танковых соединений и пехоты, сломили сопротивление противника и 9 мая, в 4 часа утра освободили от немецких захватчиков столицу союзной нам Чехословакии – город ПРАГУ, а также заняли на территории ЧЕХОСЛОВАКИИ города ХОМУТОВ, КАДАНЬ, БИЛИНА, ЛОУНЫ. <…>
Войска 3-го УКРАИНСКОГО фронта заняли на территории Австрии города ЛООСДОРФ, ВИЗЕЛЬБУРГ, АМШТЕТТЕН, МЮРЦЦУСШЛАГ, БРУК, ГРАЦ и соединились с американскими войсками в районе АМШТЕТТЕН.
(Уральский рабочий. 1945. 10 мая)

- **A** 1 — 8 и 9 мая 1945 советские войска брали в плен отдельные малочисленные группы немецких солдат, без оружия и офицеров —
- **B** 2 — в течение дня 9 мая Ленинградский фронт принял в плен многочисленную группировку противника, численностью более сорока тысяч человек ✓
- **C** 3 — 3-ий Белорусский фронт не воевал на территории впадения реки Вислы в Балтийское море —
- **D** 4 — на территории Чехословакии сопротивление гитлеровских войск было полностью прекращено к утру 9 мая, все группировки противника приняли капитуляцию —
- **E** 5 — в мае 1945 года Чехословакия выступала союзником Советского Союза ✓
- **F** 6 — на территории Австрии в районе Амштеттен советские войска встретили союзников из США ✓

☐ **# 8**

+
несколько ответов
6
8

Перед вами ряд изображений. Укажите номера двух «лишних» изображений, не связанных с историей Древней Греции (2 правильных ответа, 3 балла за каждый правильный ответ, максимальный балл – 6). Засчитывается каждый верный ответ при отсутствии лишних ответов. Если участник отметил три варианта ответа, то за каждый верный ответ начисляется 3 балла, за каждый неверный – 0 баллов, НО вычитается 3 балла за лишний вариант ответа. Во всех остальных случаях ставится 0 баллов.

корректировать


1)


2)


3)


4)

5) 

- **A** 1 — 2 ✓
- **B** 2 — 5 ✓
- **C** 3 — 1 —
- **D** 4 — 3 —
- **E** 5 — 4 —

☐ **# 9**

+

несколько ответов

9 9

корректировать

Рассмотрите карту, выберите из списка все верные суждения и отметьте их. (3 правильных ответа, 3 балла за каждый правильный ответ, максимальный балл – 9). Засчитывается каждый верный ответ при отсутствии лишних ответов. Если участник отметил четыре варианта ответа, то за каждый верный ответ начисляется 3 балла, за каждый неверный – 0 баллов, НО вычитается 3 балла за лишний вариант ответа. Во всех остальных случаях ставится 0 баллов.

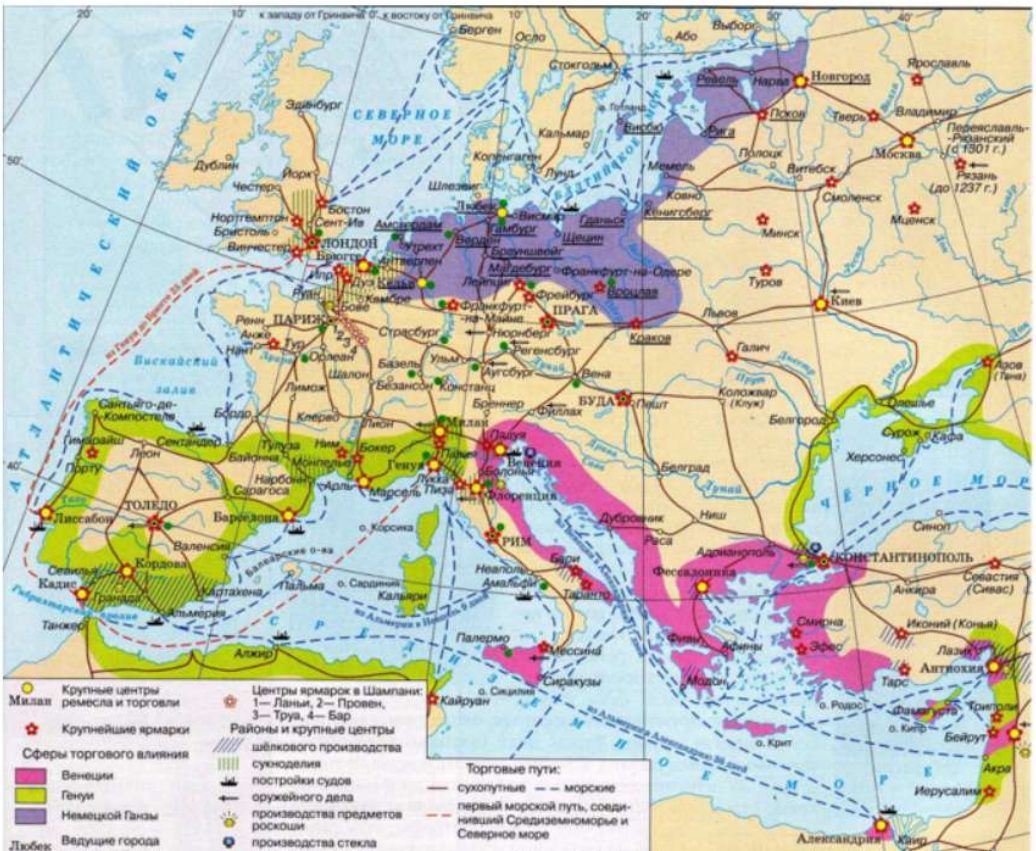

АТЛАНТИЧЕСКИЙ ОКЕАН
СЕВЕРНОЕ МОРЕ
ЧЁРНОЕ МОРЕ
ЛОНДОН
ПАРИЖ
ПРАГА
БУДА
РИМ
КОНСТАНТИНОПОЛЬ
ТОЛЕДО
Новгород
Москва
Киев
Любек
Венеция
Генуя
Милан
Флоренция
Александрия
Крупные центры ремесла и торговли
Милан
Крупнейшие ярмарки
Сферы торгового влияния
Венеции
Генуи
Немецкой Ганзы
Любек
Ведущие города
Центры ярмарок в Шампани: 1— Ланьи, 2— Провен, 3— Труа, 4— Бар
Районы и крупные центры
шёлкового производства
сукноделия
постройки судов
оружейного дела
производства предметов роскоши
производства стекла
Торговые пути:
сухопутные
морские
первый морской путь, соединивший Средиземноморье и Северное море

немецкой Ганзы
монетные дворы
Масштаб 1:20 500 000
30°
Акаба

Карта: развитие торговли и ремёсел в XI-XVвв.

A 1 Херсонес находился под влиянием генуэзских купцов ✓

B 2 Дублин был крупным ярмарочным центром —

C 3 на территории Англии в XI-XV вв. было развито производство сукна ✓

D 4 при благоприятных условиях морской путь из Генуэзской республики в порт Западной Фландрии Брюгге занимал меньше месяца ✓

E 5 в Северной Африке не было центров постройки судов —

F 6 Краков не входил в состав Ганзейского союза —

☐ **# 10**

+

несколько ответов

12 10

корректировать

Прочитайте текст, рассмотрите схему и иллюстрацию, выберите из списка все верные суждения и укажите их. (3 правильных ответа, 4 балла за каждый правильный ответ, максимальный балл – 12). Засчитывается каждый верный ответ при отсутствии лишних ответов. Если участник отметил четыре варианта ответа, то за каждый верный ответ начисляется 4 балла, за каждый неверный – 0 баллов, НО вычитается 4 балла за лишний вариант ответа. Во всех остальных случаях ставится 0 баллов. Величественные Кремлевские стены и башни равномерно воздвигнуты Иоанном: ибо древнейшие, сделанные в княжение Димитрия Донского, разрушились, и столица наша уже не имела каменной ограды. Антон Фрязин в 1485 году, июля 19, заложил на Москве-реке стрельницу, а в 1488 другую, Свибловскую, с тайниками, или подземельным ходом; Италиянец Марко построил Беклемишевскую; Петр Антоний Фрязин две, над Боровицкими и Константино-Еленскими воротами, и третию Фроловскую; башня над речкою Неглинною совершена в 1492 году неизвестным Архитектором. Окружили всю крепость высокою, твердою, широкою стеною, и Великий Князь приказал сломать вокруг не только все дворы, но и церкви, уставив, чтобы между ею и городским строением было не менее ста девяти саженей. Таким образом Иоанн украсил, укрепил Москву, оставив Кремль долговечным памятником своего Царствования, едва ли не превосходнейшим в сравнении со всеми иными Европейскими зданиями пятого-надесять века. (Карамзин Н.М. История государства Российского. В 4-х т. Том III. Глава II. Продолжение государствования Иоаннова. 1472-1477. Ростов-на-Дону: Феникс, 1994)

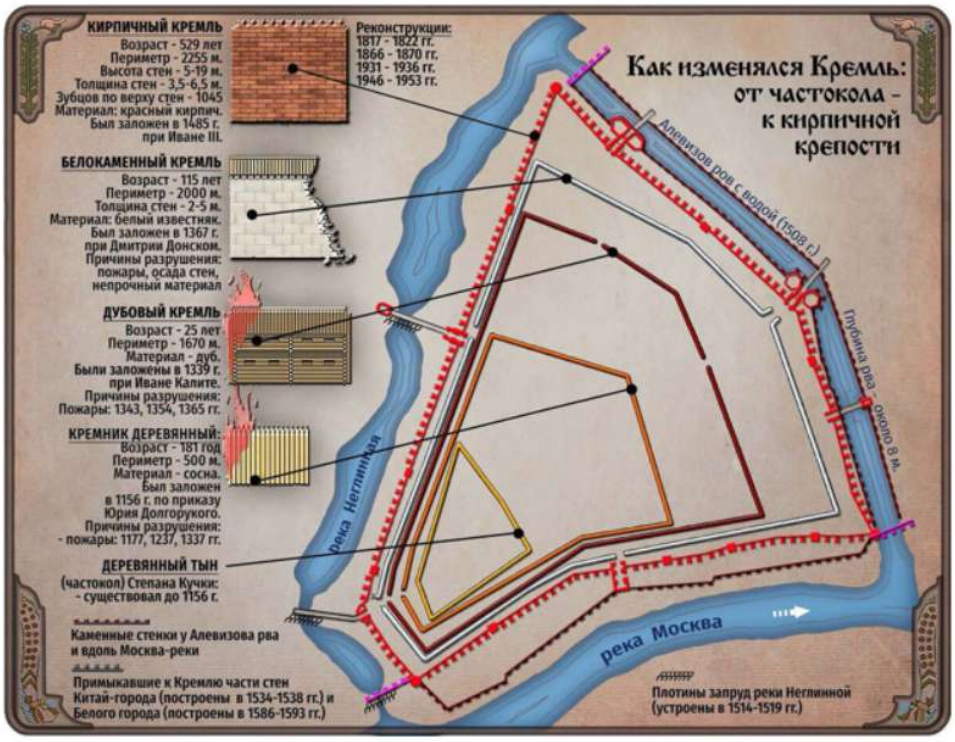
Как изменялся Кремль: от частокола – к кирпичной крепости
КИРПИЧНЫЙ КРЕМЛЬ
Возраст - 529 лет
Периметр - 2255 м.
Высота стен - 5-19 м.
Толщина стен - 3,5-6,5 м.
Зубцов по верху стен - 1045
Материал: красный кирпич.
Был заложен в 1485 г. при Иване III.
Реконструкции:
1817 - 1822 гг.
1866 - 1870 гг.
1931 - 1936 гг.
1946 - 1953 гг.
БЕЛОКАМЕННЫЙ КРЕМЛЬ
Возраст - 115 лет
Периметр - 2000 м.
Толщина стен - 2-5 м.
Материал: белый известняк.
Был заложен в 1367 г. при Дмитрии Донском.
Причины разрушения: пожары, осада стен, непрочный материал
ДУБОВЫЙ КРЕМЛЬ
Возраст - 25 лет
Периметр - 1670 м.
Материал - дуб.
Были заложены в 1339 г. при Иване Калите.
Причины разрушения: Пожары: 1343, 1354, 1365 гг.
КРЕМНИК ДЕРЕВЯННЫЙ:
Возраст - 181 год
Периметр - 500 м.
Материал - сосна.
Был заложен в 1156 г. по приказу Юрия Долгорукого.
Причины разрушения: - пожары: 1177, 1237, 1337 гг.
ДЕРЕВЯННЫЙ ТЫН
(частокол) Степана Кучки: - существовал до 1156 г.
Каменные стенки у Алевизова рва и вдоль Москва-реки
Примыкавшие к Кремлю части стен Китай-города (построены в 1534-1538 гг.) и Белого города (построены в 1586-1593 гг.)
Алевизов ров с водой (1508 г.)
Глубина рва - около 8 м.
река Неглинная
река Москва
Плотины запруд реки Неглинной (устроены в 1514-1519 гг.)

Рис. 1. Схема, отражающая строительство и реконструкцию стен Московского Кремля. (Музеи Москвы. Московский Кремль)

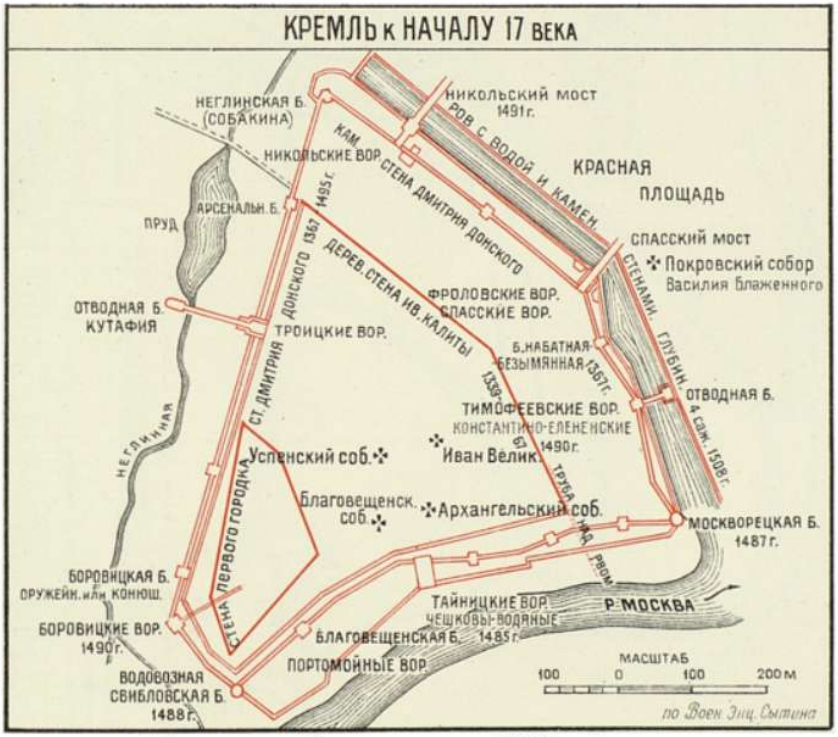
КРЕМЛЬ к НАЧАЛУ 17 ВЕКА
НЕГЛИНСКАЯ Б. (СОБАКИНА)
НИКОЛЬСКИЕ ВОР.
КАМ.
СТЕНА ДМИТРИЯ ДОНСКОГО
НИКОЛЬСКИЙ МОСТ 1491г.
РОВ С ВОДОЙ И КАМЕН. СТЕНАМИ. ГЛУБИН. 4 САЖ. 1508г.
КРАСНАЯ ПЛОЩАДЬ
СПАССКИЙ МОСТ
Покровский собор Василия Блаженного
АРСЕНАЛЬН. Б.
ПРУД
1495г.
1367
ДЕРЕВ. СТЕНА ИВ. КАЛИТЫ
ФРОЛОВСКИЕ ВОР. СПАССКИЕ ВОР.
ОТВОДНАЯ Б. КУТАФИЯ
ТРОИЦКИЕ ВОР.
Б. НАБАТНАЯ-БЕЗЫМЯННАЯ 1367г.
1339-67
ОТВОДНАЯ Б.
ТИМОФЕЕВСКИЕ ВОР. КОНСТАНТИНО-ЕЛЕНЕНСКИЕ 1490г.
СТ. ДМИТРИЯ ДОНСКОГО
НЕГЛИННАЯ
Успенский соб.
Иван Велик.
СТЕНА ПЕРВОГО ГОРОДКА
Благовещенск. соб.
Архангельский соб.
ТРУБА НАД РВОМ
МОСКВОРЕЦКАЯ Б. 1487г.
БОРОВИЦКАЯ Б. ОРУЖЕЙН. или КОНЮШ.
ТАЙНИЦКИЕ ВОР. ЧЕШКОВЫ-ВОДЯНЫЕ
Р. МОСКВА
БОРОВИЦКИЕ ВОР. 1490г.
БЛАГОВЕЩЕНСКАЯ Б. 1485г.
ПОРТОМОЙНЫЕ ВОР.
ВОДОВОЗНАЯ СВИБЛОВСКАЯ Б. 1488г.
МАСШТАБ
100 0 100 200 М
по Воен Энц. Сытина

Рис. 2. Схема развития Московского Кремля к началу XVII в. Адаптация чертежа из Военной энциклопедии Сытина.

A 1 постройка новых крепостных стен взамен Белокаменного Кремля началась в 1485 году ✓

B 2 ров с водой, соединяющий реку Москву с рекой Неглинкой, был сооружен в начале XVI века ✓

C 3 архитектор Петр Антоний Фрязин построил Беклемишевскую башню —

D 4 обновление стен Московского Кремля Иван III совершил до военного противостояния с ханом Ахматом на реке Угре —

E 5 Московский Кремль со всех сторон окружен искусственно вырытыми водоемами —

F 6 Свибловская и Боровицкая башни были построены в XV веке ✓