☐ **# 1**

+

один ответ

2 1

корректировать

Выберите из списка и укажите изменение в жизни древнего человека, которое произошло в эпоху палеолита (древнего каменного века) (1 правильный ответ, 2 балла).

A 1	освоение технологии разжигания огня трением	✓ A ✎
B 2	появление скотоводства	— B ✎
C 3	изобретение ткацкого станка	— C ✎
D 4	изобретение серпа с каменным лезвием	— D ✎
E 5	открытие технологии выплавки бронзы	— E ✎

☐ **# 2**

+

несколько ответов

6 2

корректировать

Прочитайте два текста. Выберите из списка и отметьте все верные суждения, относящиеся к событиям из жизни основателя буддизма (2 правильных ответа, максимальный балл - 6). Засчитывается каждый верный ответ при отсутствии лишних ответов. Если участник отметил три варианта ответа, то за каждый верный ответ начисляется 3 балла, за каждый неверный – 0 баллов, НО вычитается 3 балла за лишний вариант ответа. Во всех остальных случаях ставится 0 баллов.

Это было в V (5-м) веке до н. э. Жил в Индии юный царевич Сиддхартха Гаутама. Он обитал в прекрасном дворце. Он думал, что повсюду жизнь так же прекрасна, и даже не предполагал, что существует горе, боль и смерть. Но однажды он <...> задумался о смерти и решил стать отшельником. <...> И однажды, когда он сидел под огромным деревом, скрестив ноги, предаваясь глубокому размышлению, он обрёл мудрость. С тех пор его стали называть Будда (Просветлённый, Мудрец).

Будда говорил о том, что всякая жизнь сопровождается страданиями, но можно улучшить свою участь, если всегда говорить правду, стремиться к добру, не брать чужого и ни к кому не чувствовать злобы и зависти. <...> Каждый — богач и бедняк, брахман или слуга — может стать буддистом, то есть последователем Будды, и спастись от страданий и новых рождений.

Долгие годы Будда странствовал по Индии. У него появилось много учеников. Когда в III (3-м) веке до н. э. Индия объединилась, царь Ашока заявил о своей преданности учению Будды. <...>.

(Вигасин А.А., Годер Г.И., Свеницкая И.С. Всеобщая история. История Древнего мира. 5 класс. М.: Просвещение, 2020.)

В то время царствовал Соддодана, последний потомок Икшвакулы в прямой линии. Он был главой многочисленного семейства; из сыновей его известны двое: Сиддхартха и Нанда.

Сиддхартха <...> переселился к окрестностям Гайи и решился жить один, без руководителей. «Здесь», говорят его жизнеописатели, «в беседе с самим собой и усиленным размышлением <...> ум его прояснился и постиг действительное значение предметов и явлений, разгадал тайну страданий, удручающих человека, и нашел верные средства к освобождению от них».

(Архимандрит Палладий (Кафаров) Жизнеописание Будды. Пекин, Издание Пекинской Духовной Миссии, 1909.)

A 1 Сиддхартха Гаутама (Будда) родился в царской семье ✓ A

B 2 имя Будда было дано Сиддхартхе во время жизни во дворце — B

C 3 Сиддхартха Гаутама был единственным сыном у своего отца — C

D 4 царь Ашока жил в одно время с Сиддхартхой Гаутамой — D

E 5 Сиддхартха Гаутама (Будда) стал известен благодаря своему учению о том, как избавиться от страданий жизни и смерти ✓ E

☐ **# 3**

+

сопоставление

3 3

корректировать

Расположите в хронологическом порядке государства Древнего мира и Средних веков в очередности их возникновения от самого раннего к самому позднему. (3 балла)

1. 1
2. 2
3. 3
4. 4
5. 5

A 1 Раннее Царство Древнего Египта

B 2 Вавилония

C 3 империя Цинь

D 4 Римская империя

E 5 Византия

☐ **# 4**

+

сопоставление

10 4

корректировать

Рассмотрите предложенные изображения. Соотнесите изображение регалий правителей Московского государства и Российской империи с их описанием (10 баллов).

1. Большая императорская корона Российской империи (создана для коронации Екатерины II)
2. Шлем-шишак Ивана IV Васильевича
3. «Шапка ерихонская» царя Михаила Фёдоровича
4. Мальтийская корона императора Павла I с крестом ордена Иоанна Иерусалимского
5. Шапка Мономаха - парадный головной убор русских царей

A
1



A

B
2



B

C
3



C

D 4



D

E 5



E

☐ **# 5**

+

несколько ответов

6 5

корректировать

Прочтите высказывания, выберите из них верные суждения и укажите их (3 правильных ответа, 6 баллов). Засчитывается каждый верный ответ при отсутствии лишних ответов. Если участник отметил четыре варианта ответа, то за каждый верный ответ начисляется 2 балла, за каждый неверный – 0 баллов, НО вычитается 2 балла за лишний вариант ответа. Во всех остальных случаях ставится 0 баллов.

A 1 храм в Луксоре был построен по указанию фараона Птолемея I — A

B 2 I Крестовый поход относится к периоду Средних веков ✓ B

C 3 Гай Юлий Цезарь потерпел поражение от племени венетов в морском сражении 56 г. до н.э. — C

D 4 последним императором Западной Римской империи был Ромул Август ✓ D

E 5 раскол христианства на Католическую и Православную Церкви произошел после падения Западной Римской империи ✓ E

F 6 статуя Колосса Родосского была построена финикийскими зодчими — F

☐ **# 6**

+

сопоставление

10 6

корректировать

Соотнесите изображения храмов Свердловской области с их описаниями. **Для этого к каждой позиции в первом столбце подберите и укажите соответствующую позицию из второго столбца.** (2 балла за каждое верно установленное соответствие, максимальный балл – 10).

1. Спасо-Преображенский собор в Невьянске, отреставрирован в XXI веке по заказу правительства Свердловской области
2. Спасо-Преображенская церковь на территории Нижнесинячихинского музея-заповедника деревянного зодчества и народного искусства имени И.Д. Самойлова
3. Церковь Николая Чудотворца с часами-курантами в селе Быньги
4. Симеоновская церковь, соединенная крытой галереей с Михаило-Архангельской церковью в селе Меркушино
5. Храм-памятник-на-Крови на месте расстрела царской семьи в г. Екатеринбурге

A 1



A

B 2



B

C
3



C

D
4



D

E
5



E

☐ **# 7**

+

несколько ответов

9 7

корректировать

Прочитайте текст. Выберите из списка все верные суждения, относящиеся к данному тексту, и укажите их (3 правильных ответа, 3 балла за каждый правильный ответ, максимальный балл – 9). Засчитывается каждый верный ответ при отсутствии лишних ответов. Если участник отметил четыре варианта ответа, то за каждый верный ответ начисляется 3 балла, за каждый неверный – 0 баллов, НО вычитается 3 балла за лишний вариант ответа. Во всех остальных случаях ставится 0 баллов.

ОТ СОВЕТСКОГО ИНФОРМБЮРО

Оперативная сводка за 8 мая

В течение 8 мая войска 3-го БЕЛОРУССКОГО фронта, продолжая бои по очищению от противника косы ФРИШ НЕРУНГ, заняли населенные пункты НОЙЕ ВЕЛЬТ, ФОГЕЛЬЗАНГ.

Войска 1-го БЕЛОРУССКОГО фронта за 7 мая при выходе на реку ЭЛЬБА взяли в плен 7.150 немецких солдат и офицеров и захватили следующие трофеи: танков – 28, полевых орудий – 513, пулеметов – 402, автомашин – 1.700, лошадей – 3.700, подвод с военными грузами – 2.200.

Войска 1-го УКРАИНСКОГО фронта после двухдневных боев сломили сопротивление противника и 8 мая овладели городом ДРЕЗДЕН – важным узлом дорог и мощным пунктом обороны немцев в Саксонии <...>

Войска 4-го УКРАИНСКОГО фронта, продолжая наступление, после ожесточенных боев, 8 мая овладели городом и крупным железнодорожным узлом ОЛОМОУЦ – важным пунктом обороны немцев на реке МОРАВА <…>

Войска 2-го УКРАИНСКОГО фронта 8 мая овладели в Чехословакии городами ЯРОМЕРЖИЦЕ, ЗНОЙМО и на территории Австрии городами ГОЛЛАБРУНН и ШТОККЕРАУ – важными узлами коммуникации и сильными опорными пунктами обороны немцев.

На других участках фронта существенных изменений не было.

(Уральский рабочий. 1945. 9 мая)

A 1 интенсивные бои продолжались накануне Дня Победы ✓ A

B 2 войска 1-го Белорусского фронта воевали на берегах реки Эльба ✓ B

C 3 город Дрезден был взят штурмом войсками 3-го Белорусского фронта — C

D 4 город Дрезден находится на территории Саксонии ✓ D

E 5 на реке Морава не было крупных железнодорожных станций — E

F 6 в последние дни войны уже не использовалась конная тяга, все грузы перевозились только на автомобилях и железнодорожных локомотивах — F

☐ **# 8**

+

несколько ответов

6 8

корректировать

Перед вами ряд изображений. Укажите номера двух «лишних» изображений, не связанных с историей Древнего Рима (2 правильных ответа, 3 балла за каждый правильный ответ, максимальный балл – 6). Засчитывается каждый верный ответ при отсутствии лишних ответов. Если участник отметил три варианта ответа, то за каждый верный ответ начисляется 3 балла, за каждый неверный – 0 баллов, НО вычитается 3 балла за лишний вариант ответа. Во всех остальных случаях ставится 0 баллов.

1)



2) 

3) 

4) 



5)

A 1 — 1 — A

B 2 — 2 — ✓ B

C 3 — 3 — C

D 4 — 4 — ✓ D

E 5 — 5 — E

☐ **# 9**

+

несколько ответов

9 9

корректировать

Рассмотрите карту, выберите из списка все верные суждения и отметьте их. (3 правильных ответа, 3 балла за каждый правильный ответ, максимальный балл – 9). Засчитывается каждый верный ответ при отсутствии лишних ответов. Если участник отметил четыре варианта ответа, то за каждый верный ответ начисляется 3 балла, за каждый неверный – 0 баллов, НО вычитается 3 балла за лишний вариант ответа. Во всех остальных случаях ставится 0 баллов.

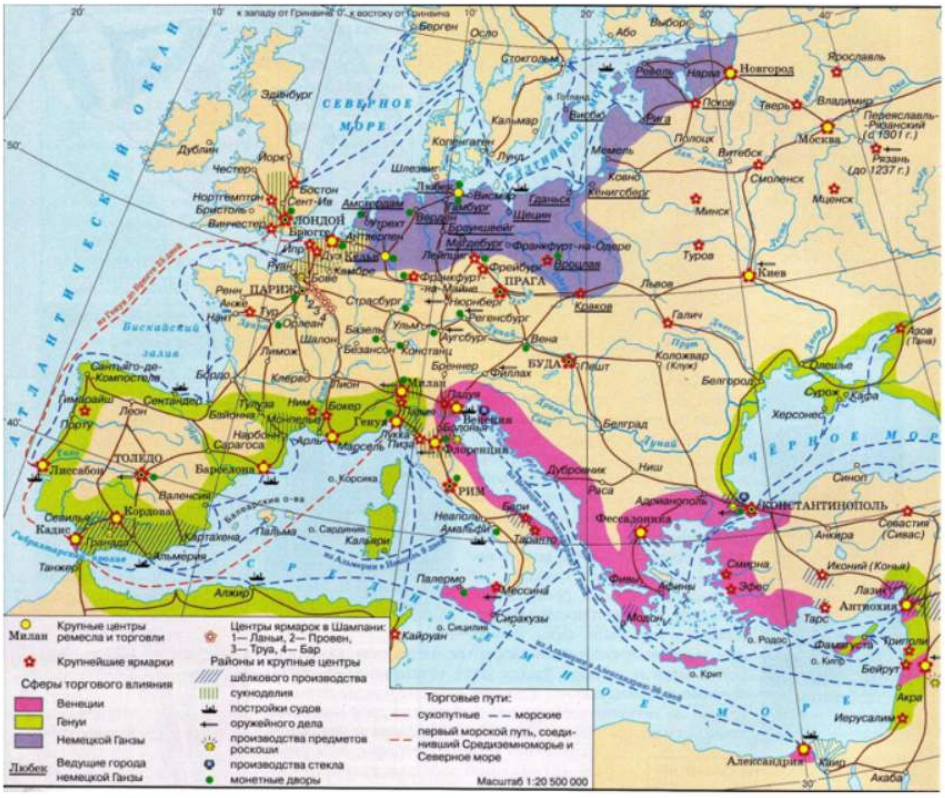

Карта: развитие торговли и ремёсел в XI-XVвв.

A 1 Александрия Египетская находилась под влиянием венецианских купцов ✓ A

B 2 в Вене до начала XVI века не существовало монетного двора — B

C 3 Новгород был одним из ведущих городов Ганзейского союза ✓ C

D 4 Рязань была центром оружейного дела до нашествия Батыя ✓ D

E 5 до 1500 года европейцам был неизвестен морской путь из Средиземного в Северное море — E

F 6 генуэзские купцы не вели торговлю на территории Северной Африки — F

☐ **# 10**

+

несколько ответов

12 10

корректировать

Прочитайте текст, рассмотрите схему и иллюстрацию, выберите из списка все верные суждения и укажите их. (3 правильных ответа, 4 балла за каждый правильный ответ, максимальный балл – 12). Засчитывается каждый верный ответ при отсутствии лишних ответов. Если участник отметил четыре варианта ответа, то за каждый верный ответ начисляется 4 балла, за каждый неверный – 0 баллов, НО вычитается 4 балла за лишний вариант ответа. Во всех остальных случаях ставится 0 баллов.

...Нестор совсем не упоминает о дочерях Ярославовых, но достоверные Летописцы чужестранные именуют трех: Елисавету, Анну и Анастасию...

Первая была супругою Гаральда, Принца Норвежского...

Вторая княжна, Анна, сочеталась браком с Генриком I, Королем Французским. ... В 1048 году - по известию древней рукописи, найденной в Сент-Омерской церкви - Король отправил Послом к Ярославу Епископа Шалонского, Рогера: Анна приехала с ним в Париж и соединила кровь Рюрикову с кровию Государей Французских. … Сын ее, Филипп, царствовал во Франции, имея столь великое уважение к матери, что на всех бумагах государственных Анна вместе с ним подписывала имя свое до самого 1075 года…

Третья дочь Ярославова, Анастасия, вышла за Короля Венгерского, Андрея I. …

(Карамзин Н.М. История государства Российского. В 4-х т. Том I. Глава II. Великий князь Ярослав или Георгий. Годы 1019—1054. Ростов-на-Дону: Феникс, 1994.)

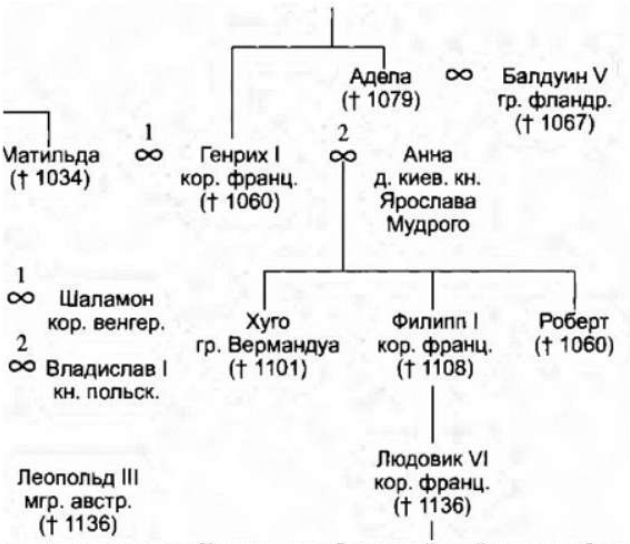
Адела († 1079)
∞
Балдуин V гр. фландр. († 1067)
Матильда († 1034)
1 ∞
Генрих I кор. франц. († 1060)
2 ∞
Анна д. киев. кн. Ярослава Мудрого
1 ∞ Шаламон кор. венгр.
2 ∞ Владислав I кн. польск.
Хуго гр. Вермандуа († 1101)
Филипп I кор. франц. († 1108)
Роберт († 1060)
Леопольд III мгр. австр. († 1136)
Людовик VI кор. франц. († 1136)

Рис. 1. Фрагмент схемы династии Капетингов, изображающий детей от второго брака короля Генриха I (Древняя Русь в свете зарубежных источников: Хрестоматия. М: Русский Фонд Содействия Образованию и Науке, 2010)



Рис. 2. Памятник королеве Анне в аббатстве Сент-Винсент. До 1996 г. надпись на юстаменте гласила: ***Анна Русская, королева Франции. Она основала эту обитель во имя Святого Винсента в лето Господне 1060***. В 1996 г. по требованию украинской общины имя Анны Русской на памятнике было заменено на Анну Киевскую.

A
1
автор «Повести временных лет» не упоминает о жизни Анны Ярославны

✓
A

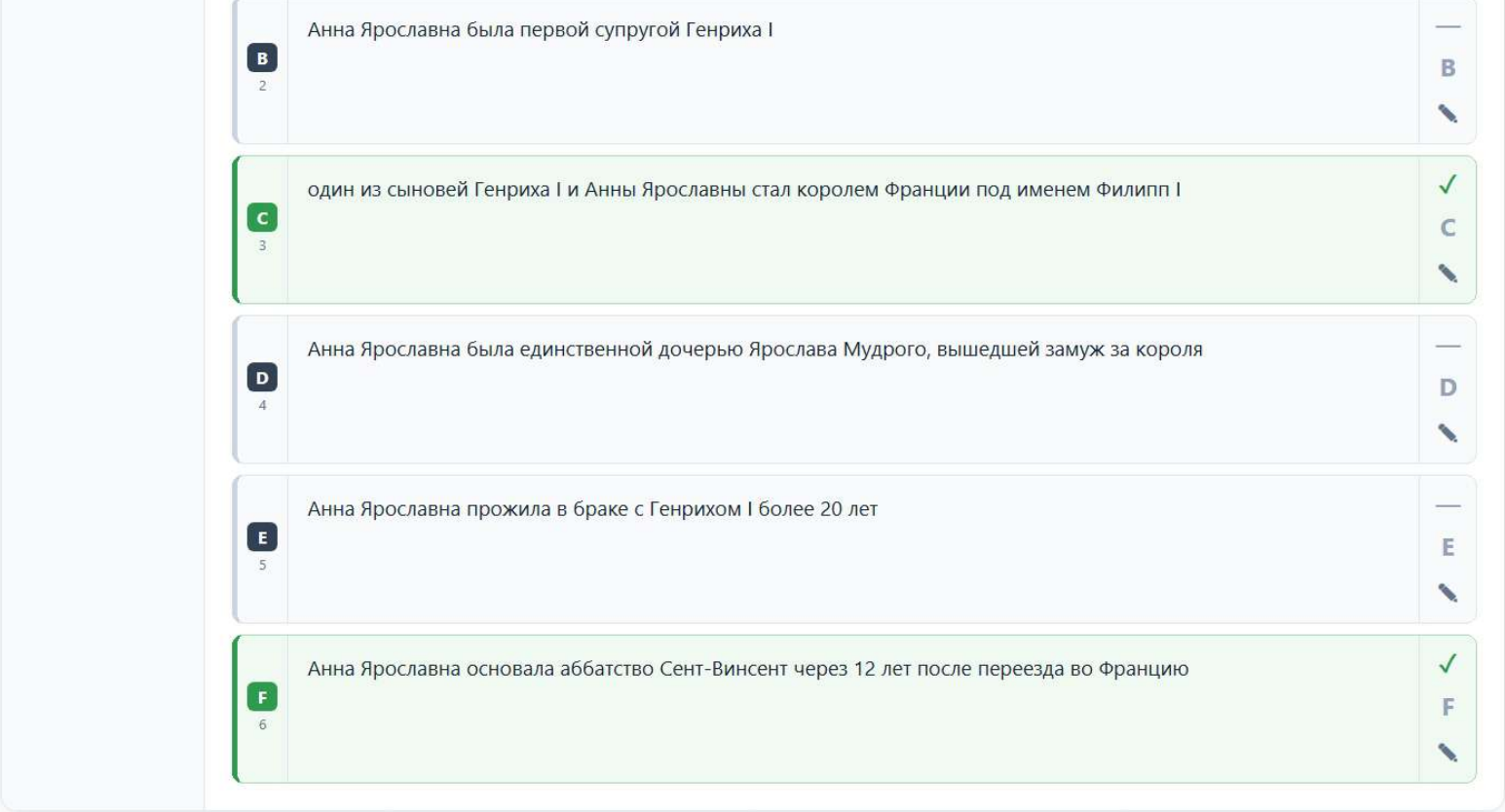

B 2

Анна Ярославна была первой супругой Генриха I

— B

C 3

один из сыновей Генриха I и Анны Ярославны стал королем Франции под именем Филипп I

✓ C

D 4

Анна Ярославна была единственной дочерью Ярослава Мудрого, вышедшей замуж за короля

— D

E 5

Анна Ярославна прожила в браке с Генрихом I более 20 лет

— E

F 6

Анна Ярославна основала аббатство Сент-Винсент через 12 лет после переезда во Францию

✓ F