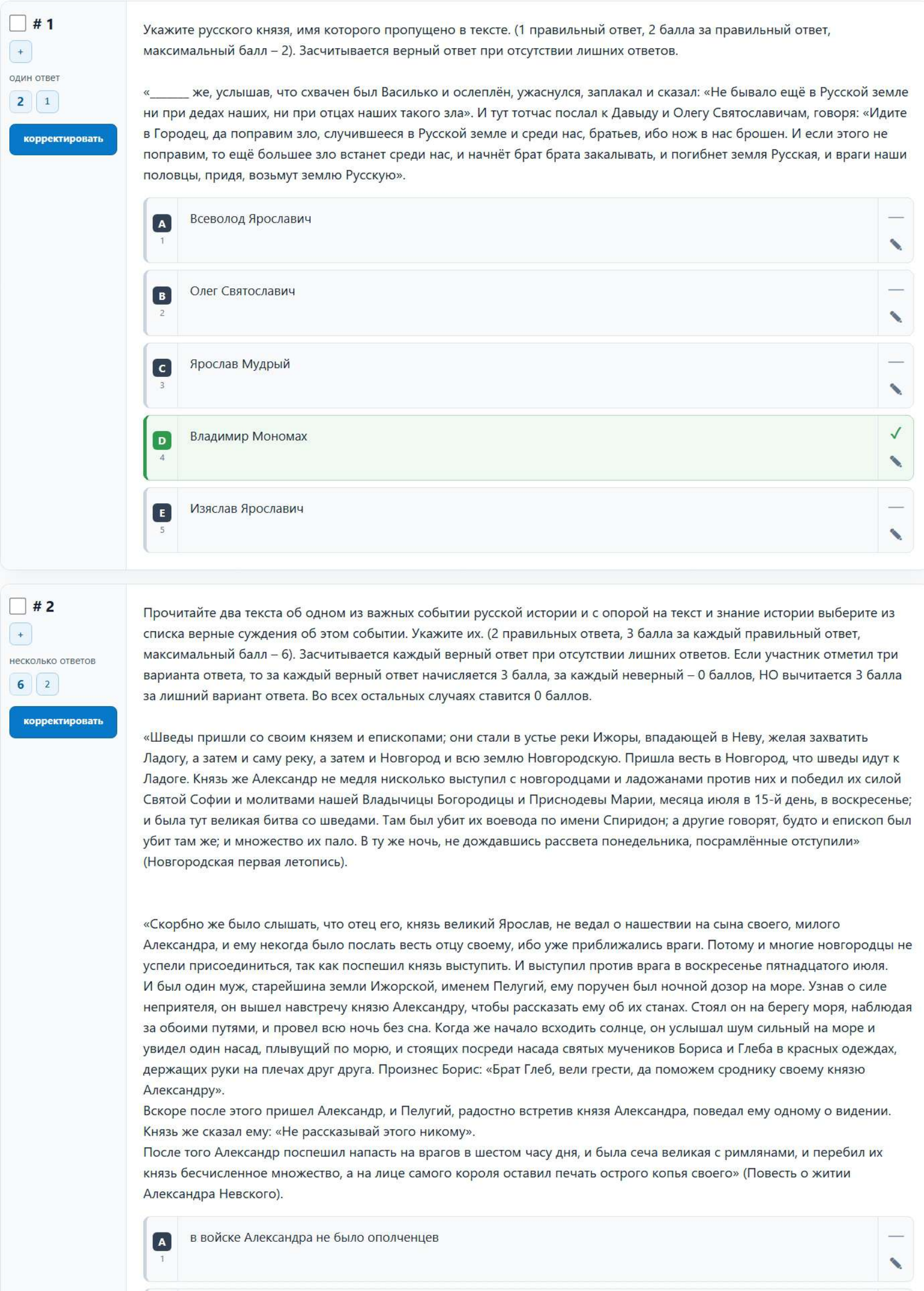

☐ **# 1**

+

один ответ

2 1

корректировать

Укажите русского князя, имя которого пропущено в тексте. (1 правильный ответ, 2 балла за правильный ответ, максимальный балл – 2). Засчитывается верный ответ при отсутствии лишних ответов.

«_______ же, услышав, что схвачен был Василько и ослеплён, ужаснулся, заплакал и сказал: «Не бывало ещё в Русской земле ни при дедах наших, ни при отцах наших такого зла». И тут тотчас послал к Давыду и Олегу Святославичам, говоря: «Идите в Городец, да поправим зло, случившееся в Русской земле и среди нас, братьев, ибо нож в нас брошен. И если этого не поправим, то ещё большее зло встанет среди нас, и начнёт брат брата закалывать, и погибнет земля Русская, и враги наши половцы, придя, возьмут землю Русскую».

A 1	Всеволод Ярославич	—
B 2	Олег Святославич	—
C 3	Ярослав Мудрый	—
D 4	Владимир Мономах	✓
E 5	Изяслав Ярославич	—

☐ **# 2**

+

несколько ответов

6 2

корректировать

Прочитайте два текста об одном из важных событии русской истории и с опорой на текст и знание истории выберите из списка верные суждения об этом событии. Укажите их. (2 правильных ответа, 3 балла за каждый правильный ответ, максимальный балл – 6). Засчитывается каждый верный ответ при отсутствии лишних ответов. Если участник отметил три варианта ответа, то за каждый верный ответ начисляется 3 балла, за каждый неверный – 0 баллов, НО вычитается 3 балла за лишний вариант ответа. Во всех остальных случаях ставится 0 баллов.

«Шведы пришли со своим князем и епископами; они стали в устье реки Ижоры, впадающей в Неву, желая захватить Ладогу, а затем и саму реку, а затем и Новгород и всю землю Новгородскую. Пришла весть в Новгород, что шведы идут к Ладоге. Князь же Александр не медля нисколько выступил с новгородцами и ладожанами против них и победил их силой Святой Софии и молитвами нашей Владычицы Богородицы и Приснодевы Марии, месяца июля в 15-й день, в воскресенье; и была тут великая битва со шведами. Там был убит их воевода по имени Спиридон; а другие говорят, будто и епископ был убит там же; и множество их пало. В ту же ночь, не дождавшись рассвета понедельника, посрамлённые отступили» (Новгородская первая летопись).

«Скорбно же было слышать, что отец его, князь великий Ярослав, не ведал о нашествии на сына своего, милого Александра, и ему некогда было послать весть отцу своему, ибо уже приближались враги. Потому и многие новгородцы не успели присоединиться, так как поспешил князь выступить. И выступил против врага в воскресенье пятнадцатого июля.
И был один муж, старейшина земли Ижорской, именем Пелугий, ему поручен был ночной дозор на море. Узнав о силе неприятеля, он вышел навстречу князю Александру, чтобы рассказать ему об их станах. Стоял он на берегу моря, наблюдая за обоими путями, и провел всю ночь без сна. Когда же начало всходить солнце, он услышал шум сильный на море и увидел один насад, плывущий по морю, и стоящих посреди насада святых мучеников Бориса и Глеба в красных одеждах, держащих руки на плечах друг друга. Произнес Борис: «Брат Глеб, вели грести, да поможем сроднику своему князю Александру».
Вскоре после этого пришел Александр, и Пелугий, радостно встретив князя Александра, поведал ему одному о видении. Князь же сказал ему: «Не рассказывай этого никому».
После того Александр поспешил напасть на врагов в шестом часу дня, и была сеча великая с римлянами, и перебил их князь бесчисленное множество, а на лице самого короля оставил печать острого копья своего» (Повесть о житии Александра Невского).

A 1	в войске Александра не было ополченцев	—

B 2 в ходе сражения шведское войско было полностью уничтожено —

C 3 князь Александр за короткое время собрал дружину и напал на шведов ✓

D 4 поход шведов не имел религиозного характера —

E 5 шведы предприняли попытку отторгнуть от русских земель выход к Балтийскому морю ✓

☐ **# 3**

+

упорядочивание ответов

3 3

корректировать

Расположите события в хронологическом порядке. Введите последовательность цифр в поле для ответа. (3 балла за верно установленную последовательность из пяти элементов).<!--TMF_MATCH_POSITIONS:5-->

A 1 убийство князя Андрея Боголюбского боярами

B 2 осада и разорение Москвы ханом Тохтамышем

C 3 принятие Судебника Ивана III

D 4 созыв Первого Земского собора

E 5 заключение Деулинского перемирия с Речью Посполитой

☐ **# 4**

+

сопоставление

10 4

корректировать

Установите соответствие между текстами и памятниками русской культуры. Для этого к каждой позиции в первом столбце подберите соответствующую позицию из второго столбца. (2 балла за каждое верно установленное соответствие, максимальный балл – 10).

1. Здание было сооружено в ознаменование пятой годовщины победы в Отечественной войне 1812 г. Оно предназначалось для смотров и учений войск и представляло собой уникальное по тем временам инженерное сооружение без промежуточных опор внутри. Стены здания прорезаны огромными арочными проемами и украшены величественной колоннадой.
2. В убранстве здания звучат отголоски войны с Наполеоном. По обеим сторонам проезда на высоких пьедесталах помещены воинские доспехи. Над ними, между колоннами расположены фигуры воинов. В здании располагались государственные учреждения – Главный штаб, Министерство иностранных дел и Министерство финансов.
3. При постройке здания архитектор взял за образец собор святого Петра в Риме со знаменитой колоннадой перед ним. Основные работы по строительству здания были завершены накануне 1812 г. После окончания Отечественной войны 1812 г. в здании были собраны военные трофеи: французские знамена, ключи от городов, взятых русской армией. В 1812 г. в северной части здания был похоронен М.И. Кутузов.
4. Согласно замыслу Николая I здание должно было стать памятником военных достижений России и русского воинства. Парадные залы получили названия в честь святых покровителей военных орденов Российской империи. Архитектурный ансамбль здания представляет собой гармоничное сочетание элементов русской, византийской и классической архитектуры.
5. Архитектор сумел удачно связать здание с окружающей застройкой. Перед фасадом здания спланирована парадная площадь, от которой берут начало три важнейшие транспортные магистрали города, в том числе Невский проспект. Низ башни с большой проездной аркой, украшенной скульптурой, напоминает триумфальные ворота. Статуи и барельефы призваны были раскрыть главную идею здания: Россия – великая морская держава.

A
1



B
2



C
3



D
4



E
5



☐ **# 5**

+

несколько ответов

6 5

корректировать

Выберите из списка события, относящиеся к XVIII веку, и отметьте их. (3 правильных ответа, 2 балла за каждый правильный ответ, максимальный балл – 6). Засчитывается каждый верный ответ при отсутствии лишних ответов. Если участник отметил четыре варианта ответа, то за каждый верный ответ начисляется 2 балла, за каждый неверный – 0 баллов, НО вычитается 2 балла за лишний вариант ответа. Во всех остальных случаях ставится 0 баллов.

A 1 создание Верховного тайного совета ✓

B 2 принятие указа о вольных хлебопашцах —

C 3 издание Манифеста о свободе предпринимательства ✓

D 4 создание Третьего отделения Собственной Его Императорского Величества канцелярии —

E 5 открытие Славяно-греко-латинской академии —

F 6 отмена внутренних таможен в России ✓

☐ **# 6**

+

сопоставление

10 6

корректировать

Установите соответствие между стихами о городах Свердловской области и изображениями. Для этого к каждой позиции в первом столбце подберите соответствующую позицию из второго столбца. (2 балла за каждое верно установленное соответствие, максимальный балл – 10).

1. То, что было вчера, в наших песнях воскреснет, Боевая пора оживёт в наших песнях: Уралмашевский марш вся страна создавала — Уралмаш! Уралмаш! — в самом сердце Урала! Завод заводов Уралмаш, Ты гордость отцов и дедов: Вся наша жизнь — горячий стаж! Вся наша жизнь — проспект Победы! (Р. Тягунов)
2. Славятся богатством наши горы, Славится тагильская руда, Славится заводами наш город, Славится Героями Труда. В годы боевые на Урале Подвиг совершен был трудовой – Танки из тагильской нашей стали Грозной силой шли с заводов в бой. (Э. Кравченко)
3. Городок небольшой – здесь История дышит, Мне в затылок глядит и забыть не даёт! Камыши на реке буйный ветер колышет Над Лебяжкой горой снова солнце встаёт! И у башни наклонной задумчивы сроки… Не забыть нам, потомкам, великих побед! У Истории пишутся медленно строки – А Урал, то для Родины главный хребет! (П. Рупасов)

4. Этот город огня и металла, Что поднялся над спинами скал, Дорог мне, Как частица Урала, Без которой немыслим Урал. И сегодня представить нам трудно, Что не слышится в стуке сердец: - Как трудился, прославленный трубный? - Как живешь, Красногорская ТЭЦ? И хорошая эта примета, Что читаем в сиянии глаз: - Как сработали Цехи Цветмета? - Как здоровье, товарищ УАЗ? И приятно, что парком безбрежным Свежесть улиц встречает меня. Хорошо, видно, зелени нежной В двух шагах от большого огня. (Л. Сорокин)
5. Где листвою березовой Шелестят ветерки, Гладит речка Березовка Золотые пески. И в лучах утра розовых, Умывая лицо, Нас встречает Березовский – Город наших отцов. (Г.Шориков)

A
1



B
2





C
3



D
4



E
5



☐ **# 7**

+

несколько ответов

9 7

корректировать

Прочитайте фрагмент воспоминаний И.С. Конева, выберите из списка все верные суждения, относящиеся к данному тексту, и укажите их. (3 правильных ответа, 3 балла за каждый правильный ответ, максимальный балл – 9). Засчитывается каждый верный ответ при отсутствии лишних ответов. Если участник отметил четыре варианта ответа, то за каждый верный ответ начисляется 3 балла, за каждый неверный – 0 баллов, НО вычитается 3 балла за лишний вариант ответа. Во всех остальных случаях ставится 0 баллов.

«Я хорошо помню, как перед выездом к новому месту назначения меня вызвали в Ставку. Верховный Главнокомандующий И. В. Сталин в присутствии маршала Г. К. Жукова и членов Государственного комитета обороны сказал:
— Степной фронт должен сыграть важную роль в контрнаступлении. — И, обращаясь ко мне, продолжал:
— Вы понимаете, товарищ Конев, какое назначение вы получаете в связи с обстановкой, которая складывается на южном направлении? Противник, видимо, создаст очень сильные группировки для того, чтобы срезать Курский выступ. Ваш фронт, расположившись за Центральным и Воронежским фронтами, должен быть в готовности, если прорвется противник, отразить его удары и не допустить развития прорыва в восточном направлении как на орловском, так и на белгородском направлении. Поэтому полосу, занимаемую фронтом, надо хорошо подготовить в оборонительном отношении, а в тылу, по рекам Воронеж и Дон, подготовить государственный рубеж обороны.
Таким образом, Советским Верховным Главнокомандованием было принято принципиально новое решение организационного объединения стратегических резервов. Создание Степного фронта, объединившего резервы Ставки на юго-западном направлении, является, безусловно, достижением советского военного искусства.
К началу немецко-фашистского наступления войска фронта находились в полной боевой готовности к наступлению и представляли крупную ударную группировку, способную действовать как на орловском, так и на белгородско-харьковском направлении.
Как известно, в битве под Курском советские войска создали мощную, глубоко эшелонированную, хорошо организованную оборону с выгодным для нас соотношением сил сторон, поскольку мы готовились к преднамеренной обороне. И все же противнику удалось на обоянском направлении вклиниться в нашу оборону на глубину до 35 км. И лишь благодаря вводу в сражение двух армий Степного фронта — 5-й гвардейской танковой армии П. А. Ротмистрова и 5-й гвардейской армии А. С. Жадова — вражеское наступление было окончательно остановлено.
Таким образом, наличие в тылу за оборонявшимися фронтами заблаговременно развернутых крупных стратегических резервов позволило в очень короткий срок сорвать тщательно подготовленное стратегическое наступление немецкой армии, на которое гитлеровское командование возлагало все свои надежды. ...
В период оборонительного сражения командование и штаб Степного фронта внимательно изучали те направления, откуда в большей степени грозила опасность прорыва немецко-фашистских войск.
Мы в штабе фронта взвешивали, какое направление явится наиболее выгодным для предстоящего наступления войск Степного фронта. Но, к сожалению, вклинение противника на глубину 35 км, произошедшее на Воронежском фронте, вынудило Ставку начать по частям изымать резервы из состава Степного фронта.
Оценивая события прошлого, следует сказать (а справедливости ради надо заметить, что я и тогда отстаивал эту точку зрения), что стратегические резервы в виде целого фронта целесообразно было бы вводить в действие полным составом, массированно и на важнейшем направлении театра военных действий, а не по частям».

A 1 первоначально перед Степным фронтом ставилась цель в случае прорыва противника остановить его наступление на занимаемом рубеже ✓

B 2 войска Степного фронта были развёрнуты в резерве за Центральным и Воронежским фронтом ✓

C 3 в ходе Великой Отечественной войны Ставка Верховного Главнокомандования неоднократно создавала мощные стратегические резервы, объединенные единым фронтовым командованием —

D 4 войска Степного фронта принимали участие в наступательных операциях под Орлом и Харьковом ✓

E 5

на первом этапе Курской битвы советские войска должны были начать наступательные действия

F 6

автор воспоминаний полагает, что ввод в сражение стратегических резервов по частям способствовал достижению крупных целей

☐ **# 8**

+

несколько ответов

6 8

корректировать

Рассмотрите портреты исторических деятелей. Укажите номера двух «лишних» изображений, не относящихся к XIX веку. (2 правильных ответа, 3 балла за каждый правильный ответ, максимальный балл – 6). Засчитывается каждый верный ответ при отсутствии лишних ответов. Если участник отметил три варианта ответа, то за каждый верный ответ начисляется 3 балла, за каждый неверный – 0 баллов, НО вычитается 3 балла за лишний вариант ответа. Во всех остальных случаях ставится 0 баллов.

1)



2)



3)



4) 

5) 

A 1	1	✓
B 2	2	—
C 3	3	—
D 4	4	✓
E 5	5	—

☐ **# 9**

+

несколько ответов

Рассмотрите карту и выберите из списка все верные суждения, относящиеся к событиям, обозначенным на данной карте. Укажите их. (3 правильных ответа, 3 балла за каждый правильный ответ, максимальный балл – 9). Засчитывается каждый верный ответ при отсутствии лишних ответов. Если участник отметил четыре варианта ответа, то за каждый верный ответ

9 9

корректировать

начисляется 3 балла, за каждый неверный – 0 баллов, НО вычитается 3 балла за лишний вариант ответа. Во всех остальных случаях ставится 0 баллов.

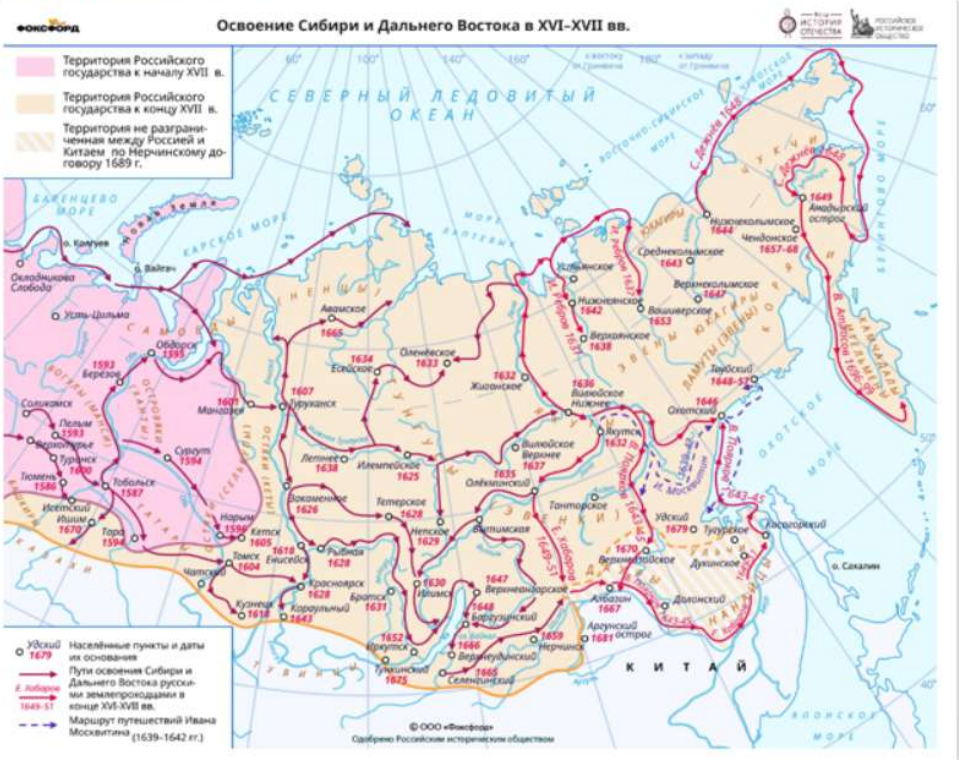

A 1 целью похода С. Дежнёва было достижение реки Анадырь ✓

B 2 в XVII веке озеро Байкал не исследовалось русскими первопроходцами —

C 3 отряд В. Пояркова проплыл по Амуру и исследовал побережье Охотского моря ✓

D 4 суда Е. Хабарова прошли проливом, отделяющим Евразию от Америки —

E 5 одним из опорных пунктов для экспедиций был Якутск ✓

F 6 экспедиция С. Дежнева отправилась в поход в июне 1648 г. из устья реки Яны —

☐ # 10

+

несколько ответов

12 10

корректировать

Прочитайте отрывок из сочинения историка С.Н. Базанова, рассмотрите карту и иллюстрацию и выберите из списка все верные суждения, относящиеся к описываемой исторической ситуации. Отметьте все верные суждения. (3 правильных ответа, 4 балла за каждый правильный ответ, максимальный балл – 12). Засчитывается каждый верный ответ при отсутствии лишних ответов. Если участник отметил четыре варианта ответа, то за каждый верный ответ начисляется 4 балла, за каждый неверный – 0 баллов, НО вычитается 4 балла за лишний вариант ответа. Во всех остальных случаях ставится 0 баллов.

«С началом войны Россия развернула вооруженные силы на два фронта: Северо-Западный (против Германии) и Юго-Западный (против Австро-Венгрии). Начало военным действиям на русском фронте положила Восточно-Прусская операция войск Северо-Западного фронта (4 августа – 1 сентября 1914 г.). Верховный главнокомандующий великий князь Николай Николаевич, выполняя просьбу союзников, решил начать военные действия ещё до окончания мобилизации и сосредоточения войск на границе с Германией. Первой в этой войне схватка произошла на границе с Восточной Пруссией, близ местечка Любов. На одном из здешних сторожевых дозоров находились пять казаков 3-го Донского казачьего полка – приказный К.Ф. Крючков и четверо рядовых. Утром 30 июля местные крестьяне сообщили им, что видели разъезд противника из трёх десятков улан. Крючков решил взять их в плен и выработал план перехвата: ехать вдоль границы, оттеснять от неё немцев и загнать их в русский тыл. Трое казаков во главе с Крючковым поскакали к тому месту, где был обнаружен противник, а пятый повез донесение в полк о появлении противника. Крючков напал на вражеских уланов справа и стал сражаться сразу с тремя, остальные казаки атаковали их слева. Вскоре на Крючкова устремилось еще около десятка германцев. Один из них пытался срубить его палашом, но Крючков, отбиваясь винтовкой, отразил удар, получив ранение в руку, после чего бросил винтовку и, выхватив истекающей кровью рукой шашку, срубил немца. Однако число врагов увеличивалось, и они, взяв казака в плотное кольцо, пытались сбить его с коня пиками. Тогда Крючков, изловчившись, вырвал пику у улана, стал ею отбиваться и колоть противника. В итоге ему удалось разорвать кольцо и уйти от неприятеля. Отбились от немцев и три других казака. На поле боя осталось 14 убитых немцев, 12 из которых пришлось на долю Крючкова. Сам он получил 16 колотых ран пикой и ранение правой руки палашом, были ранены и остальные казаки. Всех их отправили в лазарет. Командующий 1-й армией П.К. Ренненкампф лично наградил Крючкова за этот подвиг Георгиевским крестом 4-й степени за № 1».

Русские войска в Галиции. 1916 г.
ФИНЛЯНДИЯ (независима с 18.12.1917)
ХЕЛЬСИНКИ
ПЕТРОГРАД (стол. до 12.3.18)
МОСКВА (стол. с 12.3.18)
ГЕРМАНИЯ
АВСТРО-ВЕНГРИЯ
РУМЫНИЯ
БУХАРЕСТ
СЕРБИЯ
БАЛТИЙСКОЕ МОРЕ
ЧЁРНОЕ МОРЕ
АЗОВСКОЕ МОРЕ
3 дивизии из Сибири 1914
Военные действия на Восточно-Европейском театре и Кавказском фронте
Германия и её союзники
Линия фронта к концу 1914 г.
Линия фронта к концу 1915 г.
Линия фронта к концу 1916 г.
Линия фронта в конце октября 1917 г.
Границы территорий, захваченных австро-германскими и турецкими войсками к ноябрю 1918 г.
Границы государств даны на 1914 г.
Действия войск России
Действия австро-германских и турецких войск
Переброска на русский фронт австро-германских войск, снятых с других фронтов
Масштаб 1:16 000 000


Геройскій подвигъ Донского казака Кузьмы Крючкова во время схватки съ нѣмецкими кавалеристами.

Героический подвиг донского казака Кузьмы Крючкова во время схватки с немецкими кавалеристами, из серии "Лубок империалистической войны 1914 года"

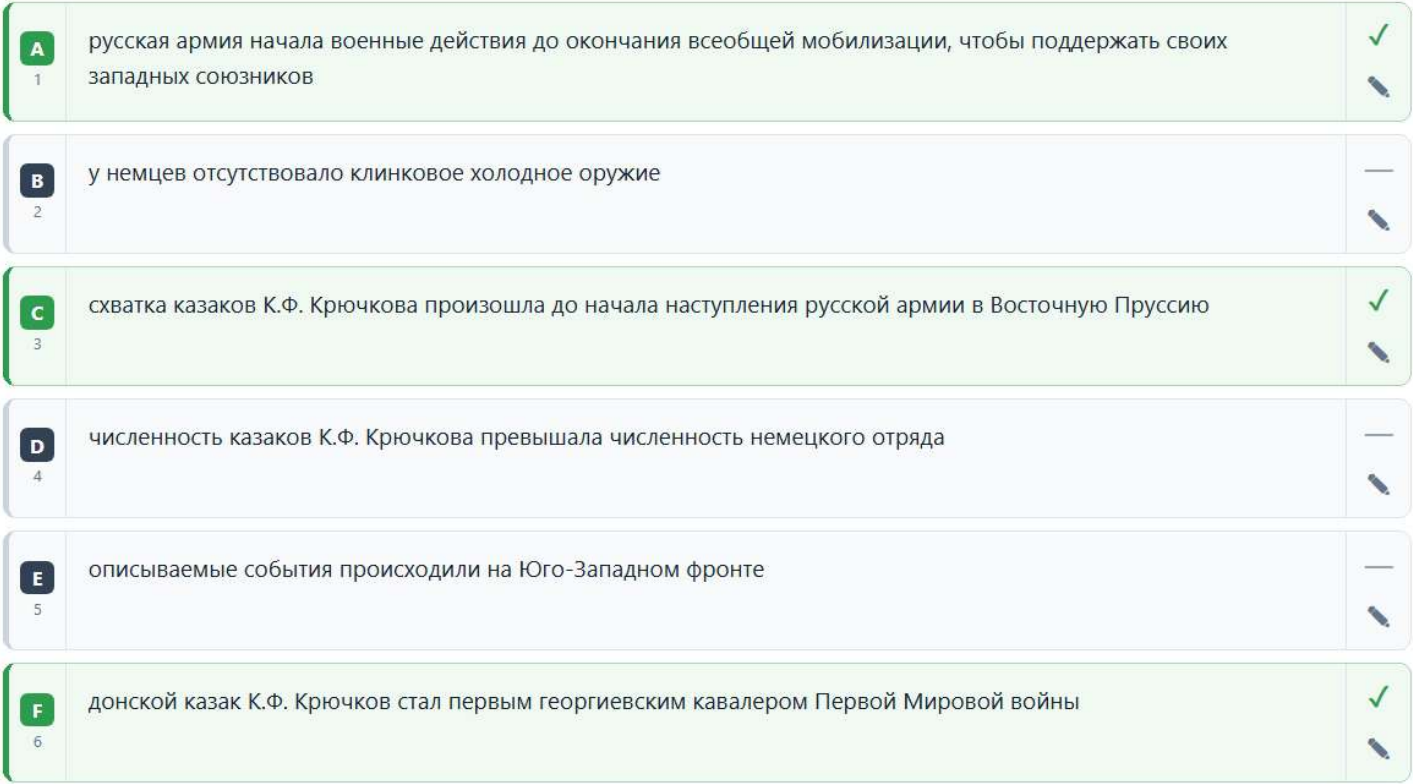

A 1 русская армия начала военные действия до окончания всеобщей мобилизации, чтобы поддержать своих западных союзников ✓

B 2 у немцев отсутствовало клинковое холодное оружие —

C 3 схватка казаков К.Ф. Крючкова произошла до начала наступления русской армии в Восточную Пруссию ✓

D 4 численность казаков К.Ф. Крючкова превышала численность немецкого отряда —

E 5 описываемые события происходили на Юго-Западном фронте —

F 6 донской казак К.Ф. Крючков стал первым георгиевским кавалером Первой Мировой войны ✓