тема 1. + 16_9_класс

☐ скрыть ответы

вопросы: 20 = + 13 `S` + 2 `M` + 5 `T`

☐ **# 1**

+

один ответ

3 1

корректировать

Какой стиль в европейском искусстве XVII века характеризуется динамичными композициями, контрастом света и тени, а также интересом к бытовым сценам? (3 балла)

- **A** 1 Классицизм — A
- **B** 2 Рококо — B
- **C** 3 Барокко ✓ C
- **D** 4 Маньеризм — D
- **E** 5 Модерн — E

☐ **# 2**

+

один ответ

3 2

корректировать

Какая техника живописи предполагает использование горячего воска как связующего вещества для пигментов? (3 балла)

- **A** 1 Фреска — A
- **B** 2 Темпера — B
- **C** 3 Акварель — C
- **D** 4 Энкаустика ✓ D

E 5 Мозаика — E

☐ **# 3**

+

один ответ

3 3

корректировать

Кто из голландских живописцев XVII века известен как «мастер света», прославившийся своими удивительно реалистичными, наполненными светом и тишиной сценами повседневной жизни, колоритом, в котором царит удивительная гармония холодных и тёплых оттенков, и особой «визитной карточкой» – тонкими жемчужными бликами? (3 балла)



A 1 Франс Хальс — A

B 2 Ян Вермеер Делфтский ✓ B

C 3 Рембрандт Харменс ван Рейн — C

D 4 Ян Хавикс Стен — D

E 5 Питер де Хох — E

☐ **# 4**

+

Какая картина Эжена Делакруа стала символом Июльской революции 1830 года во Франции? (3 балла)

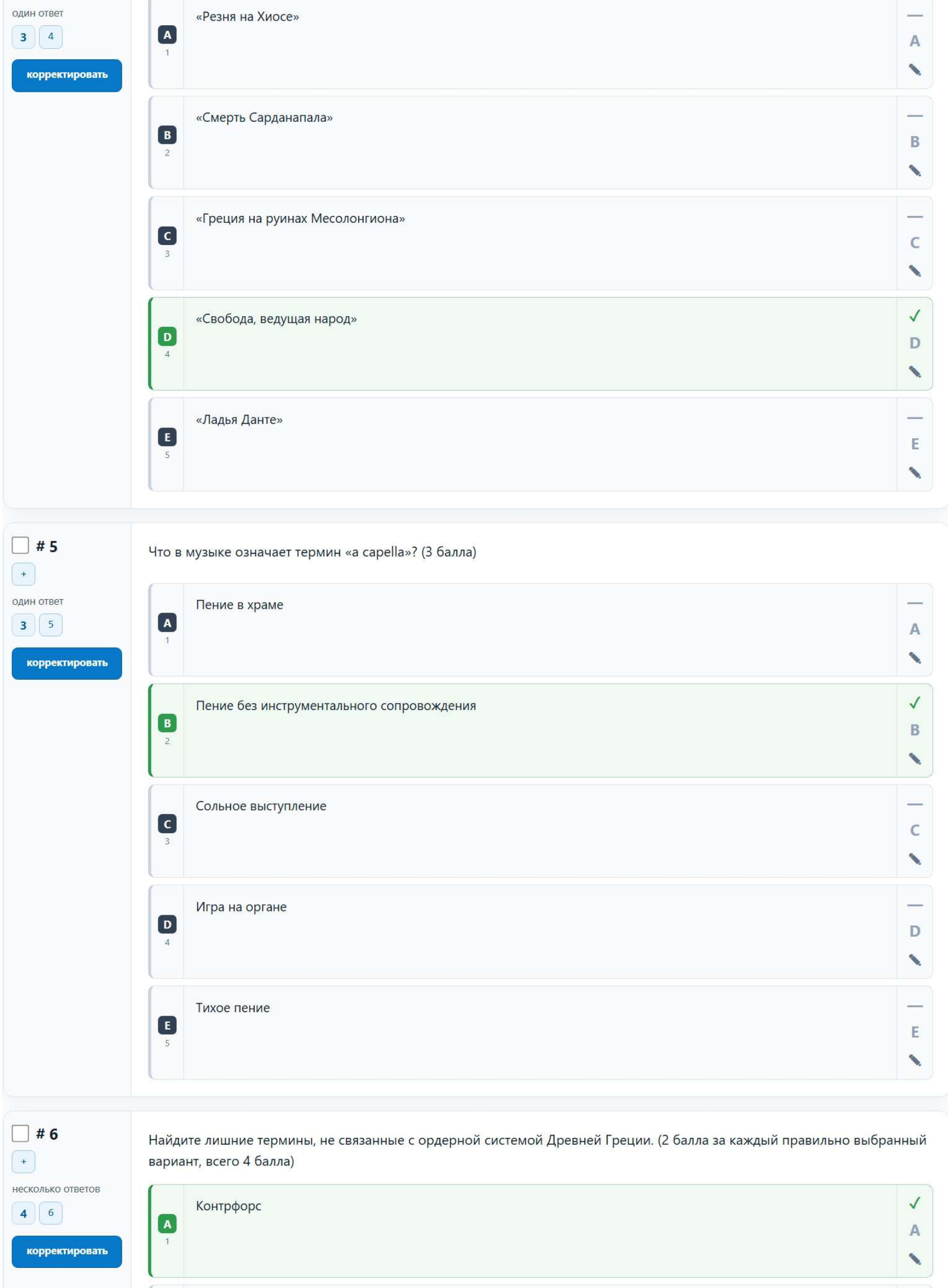

один ответ

3 4

корректировать

A 1 «Резня на Хиосе» — A

B 2 «Смерть Сарданапала» — B

C 3 «Греция на руинах Месолонгиона» — C

D 4 «Свобода, ведущая народ» ✓ D

E 5 «Ладья Данте» — E

☐ **# 5**

+

один ответ

3 5

корректировать

Что в музыке означает термин «а capella»? (3 балла)

A 1 Пение в храме — A

B 2 Пение без инструментального сопровождения ✓ B

C 3 Сольное выступление — C

D 4 Игра на органе — D

E 5 Тихое пение — E

☐ **# 6**

+

несколько ответов

4 6

корректировать

Найдите лишние термины, не связанные с ордерной системой Древней Греции. (2 балла за каждый правильно выбранный вариант, всего 4 балла)

A 1 Контрфорс ✓ A

B 2 Антаблемент — B

C 3 Метопа — C

D 4 Фриз — D

E 5 Пинакль ✓ E

☐ **# 7**

+

несколько ответов

4 7

корректировать

Найдите лишние элементы в иконографии Богоматери. (2 балла за каждый правильно выбранный вариант, всего 4 балла)

A 1 Омофор — A

B 2 Мафорий — B

C 3 Нимб с крестом внутри ✓ C

D 4 Младенец на руках — D

E 5 Изображение крепости ✓ E

☐ **# 8**

+

один ответ

4 8

корректировать

Рассмотри изображение и прочитай определение: Этот элемент характерен для древнерусских храмов XI–XII веков. Он представляет собой полукруглое или килевидное завершение наружной стены, которое повторяет очертания внутреннего свода. О какой архитектурной детали идет речь? (4 балла)



A 1 Кокошник — A

B 2 Закомара ✓ B

C 3 Кронштейн — C

D 4 Фронтон — D

E 5 Арка — E

☐ **# 9**

+

свободный ответ

4 9

корректировать

Расставьте художников по времени жизни (от раннего к позднему).
Ответ запишите в виде последовательности 5 цифр без пробелов. (4 балла)

1. Диего Веласкес
2. Сандро Боттичелли
3. Василий Кандинский
4. Орест Кипренский
5. Сальвадор Дали

A 1 21435 ✓

☐ **# 10**

+

свободный ответ

4 10

корректировать

Расставьте события истории искусства в хронологическом порядке.
Ответ запишите в виде последовательности 5 цифр. (4 балла)

1. Строительство собора Святого Петра в Риме
2. Строительство собора Святой Софии в Константинополе
3. Строительство Парфенона в Афинах
4. Строительство собора Саграда Фамилия в Барселоне
5. Строительство Главного храма Вооруженных Сил Российской Федерации

A 1 32145 ✓

☐ **# 11**

+

один ответ

5 11

корректировать

Какой мифологический сюжет изображен на фризе Парфенона? (5 баллов)



A 1 Панафинейское шествие (процессия афинян в честь Афины) ✓ A ✎

B 2 Гигантомахия (битва богов с гигантами) — B ✎

C 3 Амазономахия (битва греческих героев с амазонками) — C ✎

D 4 Кентавромахия (битва лапифов с кентаврами) — D ✎

E 5 Битва Аида с олимпийскими богами — E ✎

☐ **# 12**

+

один ответ

5 12

корректировать

На изображении представлен кадуцей (жезл, обвитый змеями). Кто из древнегреческих богов традиционно изображался с кадуцеем? (5 баллов)



A 1 Зевс — A ✎

B 2 Аполлон — B

C 3 Посейдон — C

D 4 Гермес ✓ D

E 5 Аид — E

☐ **# 13**

+

один ответ

5 13

корректировать

Прочитайте описание собора: Его строительство в сердце Тосканы длилось 400 лет. Это храм с самым большим кирпичным куполом в мире. Главный купол создан по проекту Брунеллески. О каком соборе идет речь? (5 баллов)

A 1 Собор Санта-Мария-дель-Фьоре во Флоренции ✓ A

B 2 Собор Святого Петра в Риме — B

C 3 Кёльнский собор — C

D 4 Вестминстерское аббатство — D

E 5 Пантеон в Париже — E

☐ **# 14**

+

один ответ

5 14

корректировать

Прочитайте описание скульптуры: Обнаженный юноша стоит, держа копье на плече. В его позе чувствуется расслабленность и одновременно скрытое движение. Фигура выполнена с идеальными пропорциями 1:8 (голова к телу), что считалось каноном в Древней Греции. Это обобщенный образ идеальной мужской фигуры, а не портрет конкретного человека. О какой скульптуре идет речь? (5 баллов)

A 1 «Дискобол» Мирона — A

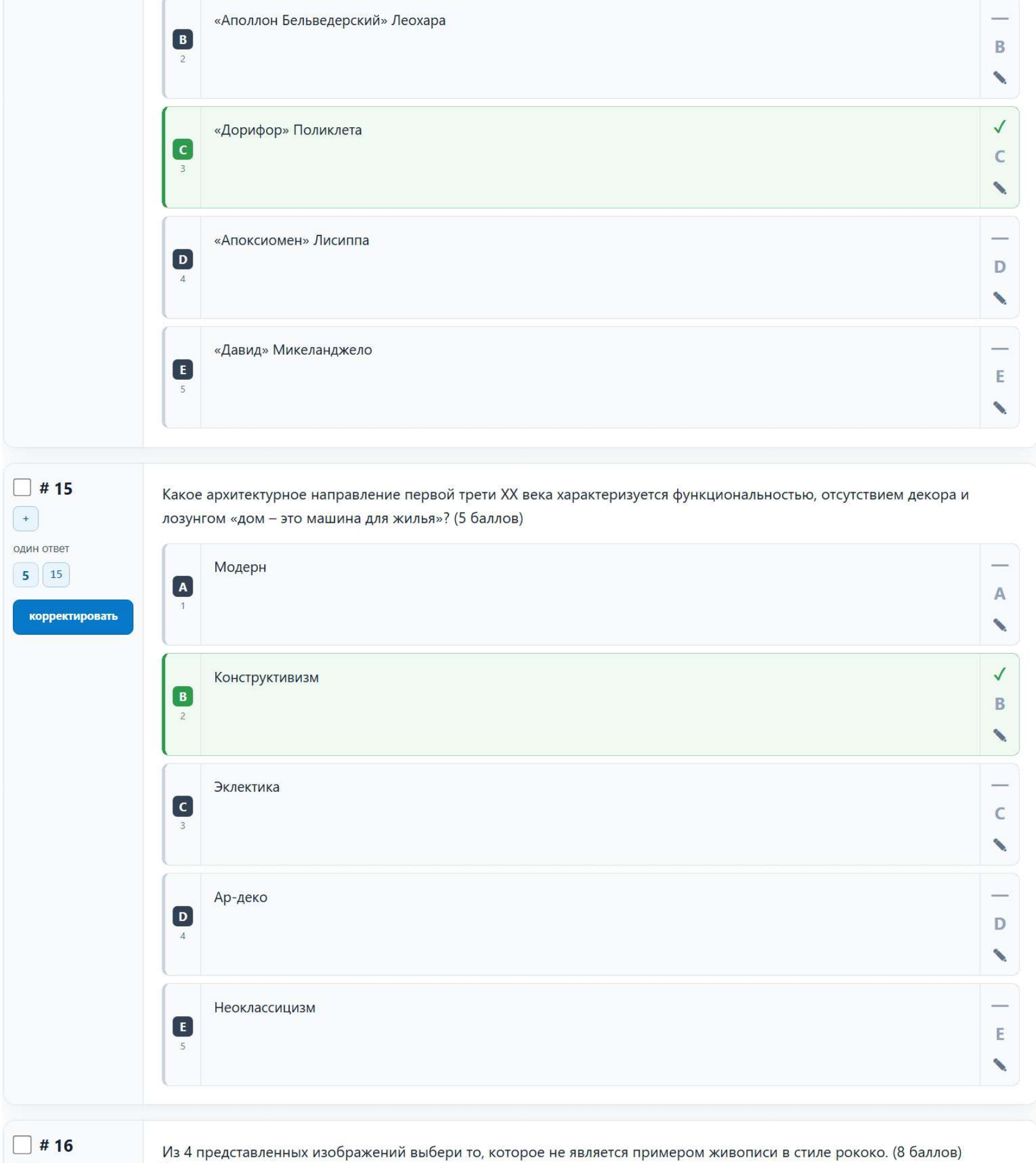

B 2 «Аполлон Бельведерский» Леохара — B

C 3 «Дорифор» Поликлета ✓ C

D 4 «Апоксиомен» Лисиппа — D

E 5 «Давид» Микеланджело — E

☐ **# 15**

+

один ответ

5 15

корректировать

Какое архитектурное направление первой трети XX века характеризуется функциональностью, отсутствием декора и лозунгом «дом – это машина для жилья»? (5 баллов)

A 1 Модерн — A

B 2 Конструктивизм ✓ B

C 3 Эклектика — C

D 4 Ар-деко — D

E 5 Неоклассицизм — E

☐ **# 16**

Из 4 представленных изображений выбери то, которое не является примером живописи в стиле рококо. (8 баллов)

+

один ответ

8 16

корректировать

1.		3.	
2.		4.	

A 1 Произведение № 1 — A ✎

B 2 Произведение № 2 — B ✎

C 3 Произведение № 3 — C ✎

D 4 Произведение № 4 ✓ D ✎

☐ **# 17**

+

свободный ответ

Прочитайте определение: _____ – это техника в изобразительном искусстве, при которой изображение создаётся с помощью разных оттенков одного цвета. Для работы в данной технике используют разные материалы (акварель, гуашь, масло, темперу, акрил, сепию). (8 баллов)

8 17

корректировать

Впишите название техники в поле ответа (с маленькой буквы и без пробелов).



A
1

гризайль ✓

☐ **# 18**

+

свободный ответ

8 18

корректировать

Прочитайте определение: _____ – внешняя каменная опора готического собора, которая принимает на себя распор свода и передает его на контрфорс. (8 баллов)

Впишите название архитектурного элемента в поле ответа (с маленькой буквы, без пробелов).

A
1

аркбутан ✓

☐ **# 19**

+

свободный ответ

8 19

корректировать

Какой из видов традиционного национального театра представлен на фото. Впишите название театра в поле ответа (с маленькой буквы и без пробелов). (8 баллов)



A
1

кабуки ✓

☐ **# 20**

+

один ответ

8 20

корректировать

Перед вами фреска Рафаэля «Афинская школа». Кого из перечисленных ниже философов нет в работе Рафаэля? (8 баллов)



A 1 Аристотель — A

B 2 Платон — B

C 3 Конфуций ✓ C

D 4 Ибн Рушд — D