тема 1. + 16_5-6_класс

☐ скрыть ответы

вопросы: 20 = + 17 S + 3 T

☐ **# 1**

+

один ответ

3 1

корректировать

Кто из мастеров эпохи Возрождения создал скульптуру «Давид»? (3 балла)

A 1 Леонардо да Винчи — A

B 2 Рафаэль — B

C 3 Микеланджело ✓ C

D 4 Донателло — D

E 5 Бронзино — E

☐ **# 2**

+

один ответ

3 2

корректировать

Как называется картина, на которой художник изображает самого себя? (3 балла)



A 1 Пейзаж — A

B 2 Автопортрет ✓ B

C 3 Натюрморт — C

D 4 Батальный жанр — D

E 5 Диптих — E

☐ **# 3**

+

один ответ

3 3

корректировать

В каком древнем государстве строили пирамиды? (3 балла)

A 1 Древний Египет ✓ A

B 2 Древний Рим — B

C 3 Древняя Греция — C ✎

D 4 Древняя Русь — D ✎

E 5 Древний Вавилон — E ✎

☐ **# 4**

+

один ответ

3 4

корректировать

Что такое мольберт? (3 балла)

A 1 Стул для скульптора — A ✎

B 2 Палитра для смешивания красок — B ✎

C 3 Кисточка для клея — C ✎

D 4 Подставка для холста ✓ D ✎

E 5 Инструмент гравёра — E ✎

☐ **# 5**

+

один ответ

3 5

корректировать

Как называется статуя женщины, которая работает как опора для здания (вместо колонны)? (3 балла)



A 1 Кариатида ✓ A ✎

B 2 Атлант — B

C 3 Пилястра — C

D 4 Каннелюра — D

E 5 Балка — E

☐ **# 6**

+

один ответ

4 6

корректировать

Какой жанр живописи изображает неодушевленные предметы: посуду, цветы, фрукты? (4 балла)

A 1 Портрет — A

B 2 Пейзаж — B

C 3 Батальный — C

D 4 Натюрморт ✓ D

E 5 Исторический — E

☐ **# 7**

+

один ответ

4 7

корректировать

Найдите лишнее слово в ряду музыкальных инструментов. (4 балла)

A 1 Гитара ✓ A

B 2 Скрипка — B

C 3 Виолончель — C

D 4 Альт — D

E 5 Контрабас — E

☐ **# 8**

+

один ответ

4 8

корректировать

Найдите лишнее имя в ряду мастеров искусства. (4 балла)

A 1 Васнецов — A

B 2 Дюрер ✓ B

C 3 Шишкин — C

D 4 Репин — D

E 5 Левитан — E

☐ **# 9**

+

один ответ

4 9

корректировать

Как называется человек, который управляет оркестром? (4 балла)

A 1 Хореограф — A

B 2 Продюсер — B

C 3 Дирижер ✓ C

D 4 Суфлер — D ✎

E 5 Режиссёр — E ✎

☐ **# 10**

+

один ответ

4 10

корректировать

Какая скульптура или скульптурная группа находится на фронтоне Большого театра в Москве? (4 балла)

A 1 Рабочий и колхозница — A ✎

B 2 Квадрига Аполлона ✓ B ✎

C 3 Двуглавый орел — C ✎

D 4 Муза трагедии Мельпомена — D ✎

E 5 Статуя Афины — E ✎

☐ **# 11**

+

свободный ответ

5 11

корректировать

Назовите тип архитектурного сооружения, который представлен на фотографии (ответ внесите в поле для ответа в именительном падеже с маленькой буквы без пробелов). (5 баллов)



A 1 амфитеатр ✓ ✎

☐ **# 12**

+

Определите мифологическое существо, представленное на фотографии (ответ внесите в поле для ответа в именительном падеже с маленькой буквы без пробелов). (5 баллов)

свободный ответ

5 12

корректировать



A 1 кентавр ✓

☐ **# 13**

+

свободный ответ

5 13

корректировать

Определите персонажа, представленного на изображении (ответ внесите в поле для ответа в именительном падеже с большой буквы, без пробелов). (5 баллов)



A 1 Снегурочка ✓

☐ **# 14**

+

один ответ

5 14

корректировать

Какой вид росписи представлен на изображении? Выберите правильный ответ. (5 баллов)



A 1 Палех — A ✎

B 2 Хохлома — B ✎

C 3 Жостовская роспись — C ✎

D 4 Гжель ✓ D ✎

E 5 Нижнетагильская роспись — E ✎

☐ **# 15**

+

один ответ

5 15

корректировать

Какой вид росписи представлен на изображении? Выберите правильный ответ. (5 баллов)



A 1 Палех — A ✎

B 2 Хохлома ✓ B ✎

C 3 Жостовская роспись — C ✎

D 4 Гжель — D ✎

E 5 Нижнетагильская роспись — E ✎

☐ **# 16**

+

один ответ

8 16

корректировать

Из предложенных произведений живописи выберите то, которое относится к жанру натюрморт. (8 баллов)

1.



2.



3.



4.



A 1 Произведение № 1 ✓ A ✎

B 2 Произведение № 2 — B ✎

C 3 Произведение № 3 — C ✎

D 4 Произведение № 4 — D ✎

☐ **# 17**

+

один ответ

8 17

корректировать

Из предложенных произведений живописи выберите то, которое относится к жанру пейзаж. (8 баллов)

1.



3.



2.



4.



A 1 Произведение № 1 — A

B 2 Произведение № 2 — B

C 3 Произведение № 3 — C

D 4 Произведение № 4 ✓ D

☐ **# 18**

+

один ответ

8 18

корректировать

Из предложенных произведений живописи выберите то, которое относится к бытовому жанру. (8 баллов)

1.



2.



3.



4.



A 1 Произведение № 1 — A

B 2 Произведение № 2 — B

C 3 Произведение № 3 ✓ C

D 4 Произведение № 4 — D

☐ **# 19**

+

один ответ

8 19

корректировать

Рассмотрите фотографию памятника архитектуры, приведённую ниже, определите тип архитектурного сооружения. (8 баллов)



A 1 Дворец — A

B 2 Крепость — B

C 3 Храм ✓ C

D 4 Театр — D

E 5 Замок — E

☐ **# 20**

Рассмотрите фотографию памятника архитектуры, приведённую ниже, определите тип архитектурного сооружения. (8

+

один ответ

8 20

корректировать

баллов)



A 1 Дворец — A

B 2 Крепость ✓ B

C 3 Храм — C

D 4 Театр — D

E 5 Монастырь — E