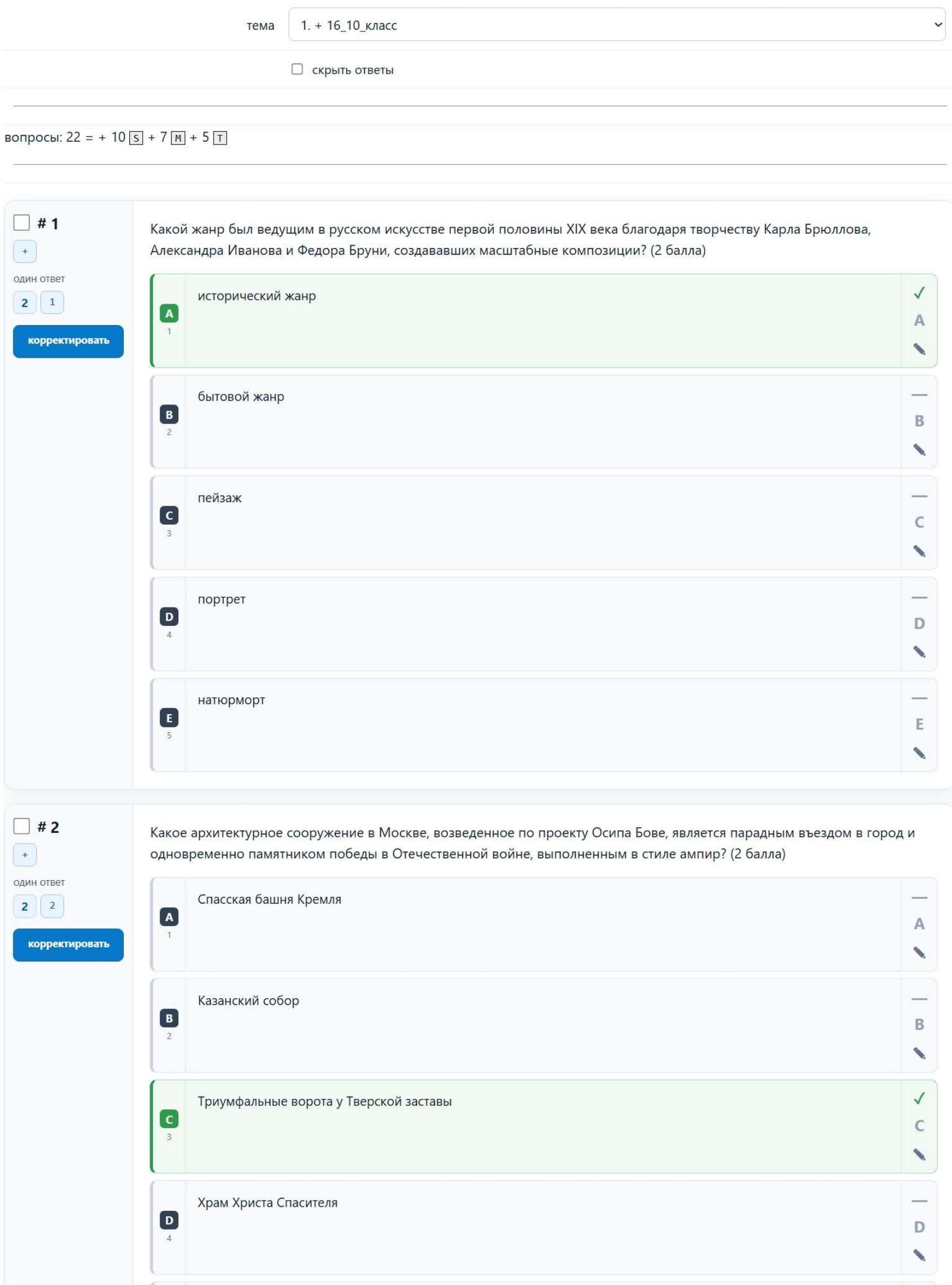

тема 1. + 16_10_класс

☐ скрыть ответы

вопросы: 22 = + 10 S + 7 M + 5 T

☐ **# 1**

+

один ответ

2 1

корректировать

Какой жанр был ведущим в русском искусстве первой половины XIX века благодаря творчеству Карла Брюллова, Александра Иванова и Федора Бруни, создававших масштабные композиции? (2 балла)

A 1	исторический жанр	✓ A
B 2	бытовой жанр	— B
C 3	пейзаж	— C
D 4	портрет	— D
E 5	натюрморт	— E

☐ **# 2**

+

один ответ

2 2

корректировать

Какое архитектурное сооружение в Москве, возведенное по проекту Осипа Бове, является парадным въездом в город и одновременно памятником победы в Отечественной войне, выполненным в стиле ампир? (2 балла)

A 1	Спасская башня Кремля	— A
B 2	Казанский собор	— B
C 3	Триумфальные ворота у Тверской заставы	✓ C
D 4	Храм Христа Спасителя	— D

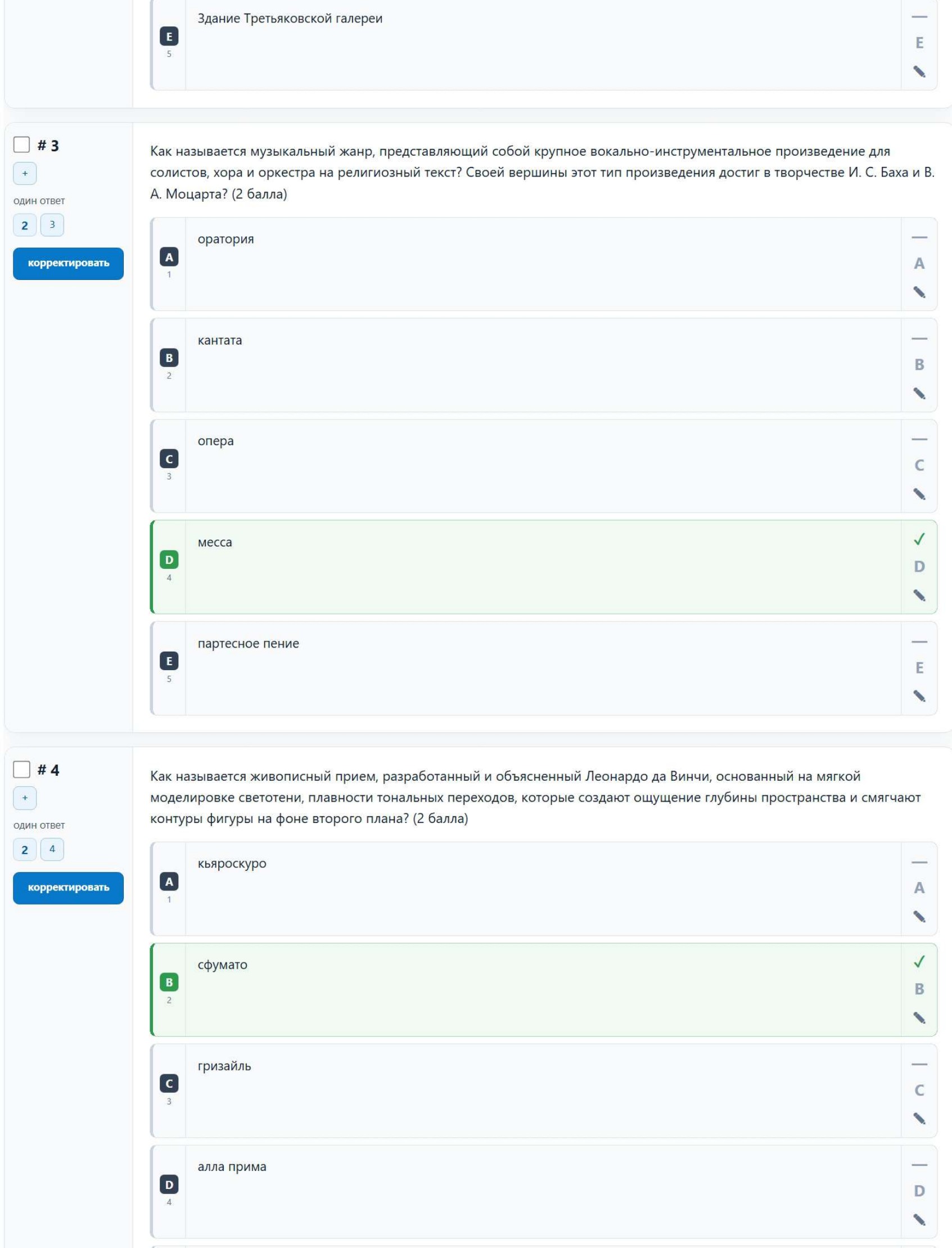

E 5 Здание Третьяковской галереи — E

☐ **# 3**

+

один ответ

2 3

корректировать

Как называется музыкальный жанр, представляющий собой крупное вокально-инструментальное произведение для солистов, хора и оркестра на религиозный текст? Своей вершины этот тип произведения достиг в творчестве И. С. Баха и В. А. Моцарта? (2 балла)

- A 1 оратория — A
- B 2 кантата — B
- C 3 опера — C
- D 4 месса ✓ D
- E 5 партесное пение — E

☐ **# 4**

+

один ответ

2 4

корректировать

Как называется живописный прием, разработанный и объясненный Леонардо да Винчи, основанный на мягкой моделировке светотени, плавности тональных переходов, которые создают ощущение глубины пространства и смягчают контуры фигуры на фоне второго плана? (2 балла)

- A 1 кьяроскуро — A
- B 2 сфумато ✓ B
- C 3 гризайль — C
- D 4 алла прима — D

E 5 импасто — E

☐ **# 5**

+

один ответ

2 5

корректировать

Какого из персонажей не было в серии фильмов о Гарри Поттере? (2 балла)

A 1 Гендальф Серый ✓ A

B 2 Рон Уизли — B

C 3 Альбус Дамблдор — C

D 4 Минерва Макгонагалл — D

E 5 Рита Скиттер — E

☐ **# 6**

+

несколько ответов

3 6

корректировать

Из представленных произведений выберите три, которые иллюстрируют стиль рококо (по 1 баллу за каждый верно выбранный вариант, максимум за задание – 3 балла)

1.


2.


3.


4.


5.


6.


A 1 Произведение № 1 ✓ A

B 2 Произведение № 2 ✓ B

C 3 Произведение № 3 — C

D 4 Произведение № 4 — D

E 5 Произведение № 5 ✓ E

F 6 Произведение № 6 — F

☐ **# 7**

+

несколько ответов

3 7

корректировать

Какие три из представленных сооружений соответствуют стилю барокко? (по 1 баллу за каждый верно выбранный вариант, максимум за задание – 3 балла)

1.


2.


3.


4.


5.


6.


A 1 Произведение № 1 — A

B 2 Произведение № 2 ✓ B

C 3 Произведение № 3 ✓ C

D 4 Произведение № 4 ✓ D

E 5 Произведение № 5 — E

F 6 Произведение № 6 — F

☐ **# 8**

+

несколько ответов

3 8

корректировать

В приведенном ряду выберите три произведения художника эпохи Возрождения Микеланджело Буонарроти (по 1 баллу за каждый верно выбранный вариант, максимум за задание – 3 балла)

1. 

2. 

3. 

4. 

5. 

6. 

A 1 Произведение № 1 ✓ A

B 2 Произведение № 2 — B

C 3 Произведение № 3 ✓ C

D 4 Произведение № 4 — D

E 5 Произведение № 5 — E

F 6 Произведение № 6 ✓ F

☐ **# 9**

+

несколько ответов

3 9

корректировать

В предложенном ряду выберите три произведения Карла Брюллова (по 1 баллу за каждый верно выбранный вариант, максимум за задание – 3 балла)

1. 

2. 

3. 

4. 

5. 

6. 

A 1 Произведение № 1 — A

B 2 Произведение № 2 ✓ B

C 3 Произведение № 3 — C

D 4 Произведение № 4 — D

E 5 Произведение № 5 ✓ E

F 6 Произведение № 6 ✓ F

☐ **# 10**

+

несколько ответов

3 10

корректировать

Три произведения из представленных можно определить как произведения «сурового стиля». Отметьте их (по 1 баллу за каждый верно выбранный вариант, максимум за задание – 3 балла)

1.

2.

3.

4.

5.

6.


A 1 Произведение № 1 — A

B 2 Произведение № 2 ✓ B

C 3 Произведение № 3 ✓ C

D 4 Произведение № 4 — D

E 5 Произведение № 5 ✓ E

F 6 Произведение № 6 — F

☐ **# 11**

+

О каком балете Петра Чайковского идет речь в тексте, описывающем заключительную картину спектакля? (5 баллов)

один ответ

5 11

корректировать

Мрачная тревожная ночь. Одетта потрясена: теперь ее надежда на освобождение потеряна. Вбегает Зигфрид. Он не нарушил клятву: там, в замке, в Одиллии он видел свою Одетту – к ней было обращено его любовное признание. Злой гений в ярости вызывает против влюбленных силы природы: начинается буря, сверкают молнии. Но ничто теперь уже не может сломить юную чистую любовь и разъединить Одетту и Зигфрида. Тогда Злой гений сам вступает в единоборство с принцем – и погибает. Его чары рушатся.

A 1 Лебединое озеро ✓ A

B 2 Спящая красавица — B

C 3 Щелкунчик — C

D 4 В тексте описывается балет другого композитора — D

E 5 В тексте описывается опера, а не балет — E

☐ **# 12**

+

один ответ

5 12

корректировать

«Мы, писатели, художники, скульпторы, архитекторы, ценители красоты Парижа, во имя французского вкуса, французской истории и французского искусства, которые ныне подвергаются опасности, решительно и с негодованием протестуем против...».

Эти слова содержались в письме мэру города, под которым стояли подписи трехсот знаменитых деятелей культуры и искусства XIX века. Среди них были писатели Ги де Мопассан, Эмиль Золя, Александр Дюма-сын, композитор Шарль Гуно, выдающийся архитектор Шарль Гарнье и множество других славных имен.

Против какого знаменитого произведения архитектуры выступали критики? (5 баллов)

A 1 Павильон Всемирной выставки 1867 года — A

B 2 Эйфелева башня ✓ B

C 3 Собор Парижской Богоматери — C

D 4 Бульвар Капуцинок — D

E 5 Ветряная мельница «Мулен де ла Галетт» на Монмартре — E

☐ **# 13**

+

один ответ

5 13

корректировать

Проект какого так и не построенного сооружения приведен на изображении? (5 баллов)

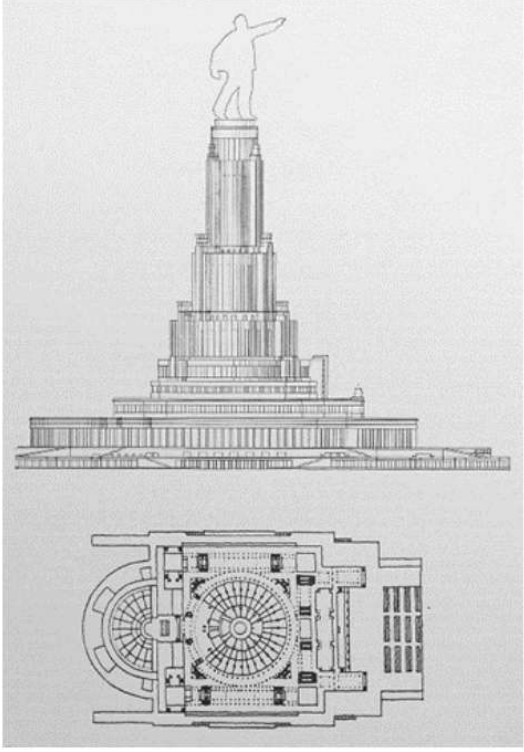

A 1 Проект «Дворца Советов» в Москве ✓ A

B 2 Проект павильона СССР на Всемирной выставке в Нью-Йорке 1939 — B

C 3 Проект павильона СССР на Всемирной выставке в Париже 1937 — C

D 4 Проект мавзолея В. И. Ленина на Красной площади в Москве — D

E 5 Проект памятника В. И. Ленину в Ульяновске — E

☐ **# 14**

+

свободный ответ

5 14

корректировать

Укажите фамилию автора описанного в тексте произведения живописи. Фамилию художника внесите в поле ответа с заглавной буквы. (5 баллов)

В центре композиции, создававшейся русским художником на протяжении двадцати лет, находится фигура Иоанна Предтечи, совершающего крещение людей, собравшихся у каменистого берега реки Иордан. Увидев приближающегося ……, Иоанн указывает на него. Находясь в глубине полотна, …… тем не менее занимает особое место в композиции — отделённый от других действующих лиц, он идёт по возвышенности, так что создаётся впечатление, что он поднят высоко над толпой. Хотя …… служит центром всеобщего внимания, содержание полотна раскрывается не через его образ, а через реакцию других людей на его появление — художник стремился показать «нравственный переворот в душах людей, их порыв навстречу истине».

A 1 Иванов ✓

☐ **# 15**

+

свободный ответ

5 15

корректировать

Прочитайте текст, посвященный знаменитому произведению литературы Урала. Кто является его автором? Фамилию писателя впишите в поле ответа с заглавной буквы. (5 баллов)

Произведение писателя оказало значительное влияние на уральскую фольклористику, на десятилетия определив направление её развития — сбор «рабочего фольклора». Немало способствовал этому сам ......, который часто посещал преподавателей и студентов Уральского государственного университета, наставляя их на собирание рабочего фольклора, инициировал фольклорные экспедиции в города и посёлки городского типа для сбора «рабочего фольклора». Сказы писателя сыграли большую роль в формировании «уральской идентичности»

A 1 Бажов ✓

☐ **# 16**

+

один ответ

5 16

корректировать

По фрагменту определите произведение и автора. Прочитайте утверждения и выберите то, которое является неверным (5 баллов)



A 1 Автор произведения – Рембрандт Харменс ван Рейн — A

B 2 Название произведения – «Автопортрет с Саскией на коленях» — B

C 3 Второе название произведения – «Блудный сын в таверне» — C

D 4 Герои произведения представлены героями библейской притчи о блудном сыне — D

E 5 Произведение хранится в Государственном Эрмитаже ✓ E

F 6 Рембрандт на полотне представлен в шляпе с пером — F

☐ **# 17**

+

несколько ответов

5 17

корректировать

Кадр из какого фильма представлен на фото? Отметьте верные утверждения о произведении (5 баллов за верный ответ, по 1 баллу за каждый верный вариант)



A 1 В кадре представлены герои трилогии «Властелин колец» ✓ A

B 2 Героев зовут Сэмуайз и Фродо ✓ B

C 3 Режиссер трилогии – Кристофер Нолан — C

D 4 Трилогия была снята в конце 2010-х годов — D

E 5 Режиссер трилогии – Питер Джексон ✓ E

F 6 В братстве кольца состояло 11 участников — F

G 7 В братстве кольца состояло 9 участников ✓ G

H 8 Трилогия была снята в начале 2000-х годов ✓ H

☐ **# 18**

+

один ответ

5 18

корректировать

По фрагменту определите сооружение. Выберите правильный вариант из предложенных (5 баллов)



A 1	Колокольня Ивана Великого на Соборной Площади Московского Кремля	✓ A
B 2	Успенский собор на Соборной Площади Московского Кремля	— B
C 3	Архангельский собор на Соборной Площади Московского Кремля	— C
D 4	Благовещенский собор на Соборной Площади Московского Кремля	— D
E 5	Церковь Двенадцати апостолов на Соборной Площади Московского Кремля	— E

☐ **# 19**

+

свободный ответ

5 19

корректировать

Сцена из какого балета представлена на фотокадре? Название спектакля впишите в поле для ответа с заглавной буквы без кавычек (5 баллов)



A 1	Спартак	✓

☐ **# 20**

+

свободный ответ

5 20

корректировать

Рассмотрите фотографию сооружения и определите стиль архитектуры. Ответ впишите в поле с прописной буквы одним словом (5 баллов)



A 1

конструктивизм

✓

☐ **# 21**

+

свободный ответ

5 21

корректировать

Рассмотрите произведение. Определите жанр произведения и впишите его в поле для ответа с прописной буквы (5 баллов)



A 1

натюрморт

✓

☐ # 22

+

несколько ответов

20 22

корректировать

Какие из представленных произведений античной архитектуры относятся к искусству Древнего Рима? (по 4 балла за каждый верно выбранный вариант, максимум за задание – 20 баллов)

1. 

2. 

3. 

4. 

5. 

6. 

7. 

8. 

9. 

A 1 Сооружение № 1 ✓ A

B 2 Сооружение № 2 ✓ B

C 3 Сооружение № 3 — C

D 4 Сооружение № 4 ✓ D

E 5 Сооружение № 5 ✓ E

F 6 Сооружение № 6 — F

G 7 Сооружение № 7 ✓ G

H 8 Сооружение № 8 — H

I 9 Сооружение № 9 — I